小3 長さ とっくんドリル②-5

まきじゃくの目もりと、道のりときょり　全8問

なまえ ＿＿＿＿＿＿＿＿

ひづけ ＿＿＿＿＿＿＿＿

下線には数だけ書く（たんいは書いてある）。まきじゃくは、やじるしがさす目もりを読む

1　やじるしが さす 目もりは、
何m何cmですか。

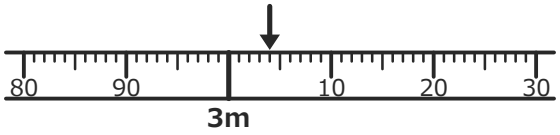

＿＿＿ m ＿＿＿ cm

2　駅から 学校までの
きょりは、何mですか。

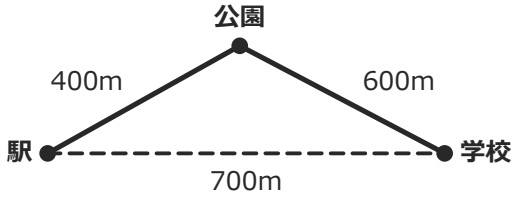

＿＿＿＿＿ m

3　やじるしが さす 目もりは、
何cmですか。

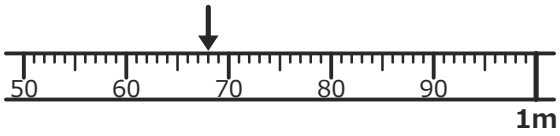

＿＿＿＿＿ cm

4　家から 公園までの
道のりは、きょりより 何m 長い？

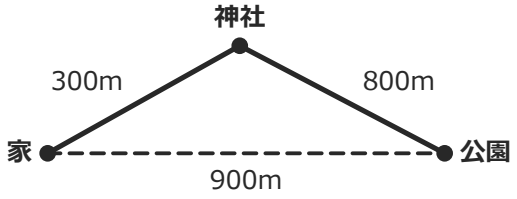

＿＿＿＿＿ m

5　やじるしが さす 目もりは、
何m何cmですか。

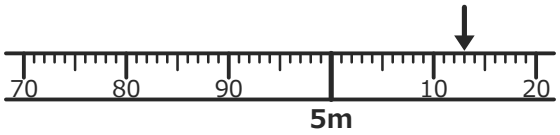

＿＿＿ m ＿＿＿ cm

6　学校から 家までの
道のりは、何km何mですか。

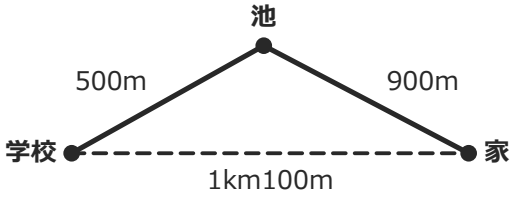

＿＿＿ km ＿＿＿＿＿ m

7　やじるしが さす 目もりは、
何m何cmですか。

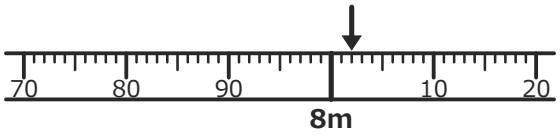

＿＿＿ m ＿＿＿ cm

8　家から 駅までの
きょりは、何mですか。

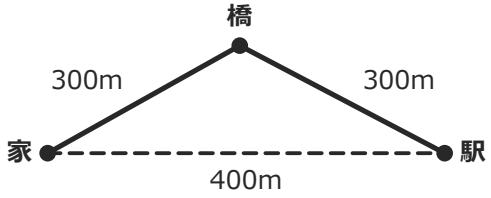

＿＿＿＿＿ m

いちごドリル プリント

つづきの無料プリント
「小3の長さ」のプリント一覧がひらきます

小3 長さ とっくんドリル②-5【こたえ】

まきじゃくの目もりと、道のりときょり　全8問

なまえ ＿＿＿＿＿＿＿＿

ひづけ ＿＿＿＿＿＿＿＿

×があったら「②-1」からもう一度、ぜんぶ○なら、まだやっていない「そうごうテスト（その2〜5）」へ

1　やじるしが さす 目もりは、何m何cmですか。

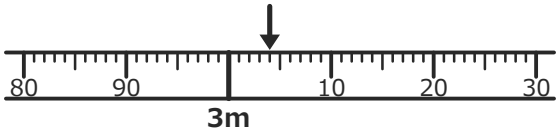

3 m 4 cm

→ よくある×：4cm

考え方：3mから4目もり（1目もり1cm）

2　駅から 学校までの きょりは、何mですか。

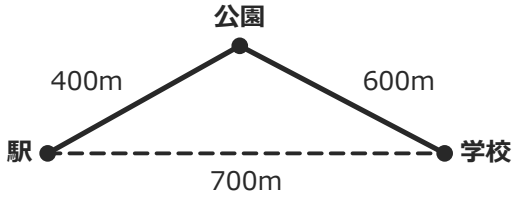

700 m

→ よくある×：1km

考え方：まっすぐはかった長さ（点線）

3　やじるしが さす 目もりは、何cmですか。

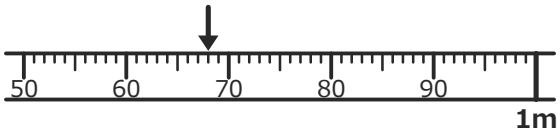

68 cm

→ よくある×：1m68cm

考え方：60から8目もり（1目もり1cm）

4　家から 公園までの 道のりは、きょりより 何m 長い？

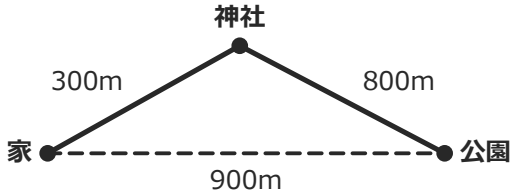

200 m

→ よくある×：1km100m

考え方：300＋800−900＝200m

5　やじるしが さす 目もりは、何m何cmですか。

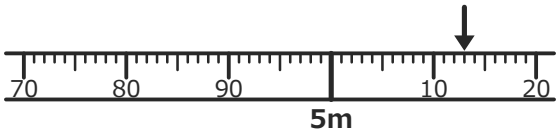

5 m 13 cm

→ よくある×：13cm

考え方：5mから13目もり（1目もり1cm）

6　学校から 家までの 道のりは、何km何mですか。

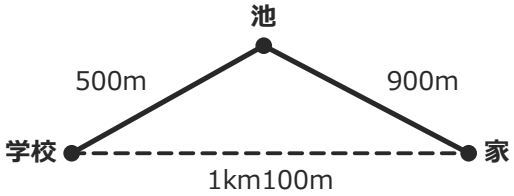

1 km 400 m

→ よくある×：1km100m

考え方：道にそった長さ：500＋900＝1400m

7　やじるしが さす 目もりは、何m何cmですか。

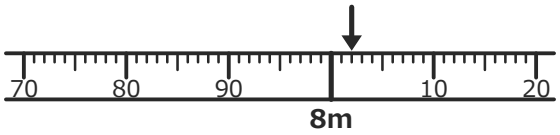

8 m 2 cm

→ よくある×：2cm

考え方：8mから2目もり（1目もり1cm）

8　家から 駅までの きょりは、何mですか。

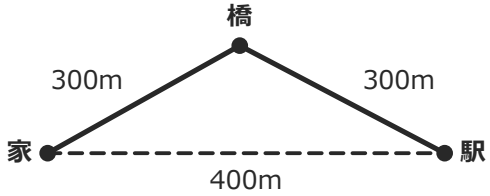

400 m

→ よくある×：600m

考え方：まっすぐはかった長さ（点線）