小3 長さ とっくんドリル②-4

まきじゃくの目もりと、道のりときょり　全8問

なまえ ＿＿＿＿＿＿＿＿

ひづけ ＿＿＿＿＿＿＿＿

下線には数だけ書く（たんいは書いてある）。まきじゃくは、やじるしがさす目もりを読む

1　やじるしが さす 目もりは、
何cmですか。

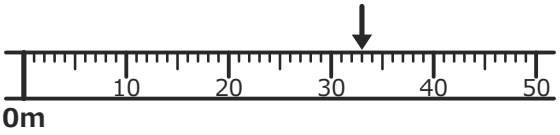

＿＿＿＿ cm

2　家から 学校までの
道のりは、何km何mですか。

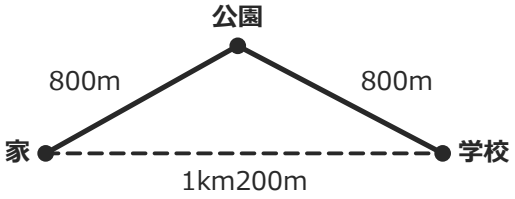

＿＿＿＿ km ＿＿＿＿ m

3　やじるしが さす 目もりは、
何m何cmですか。

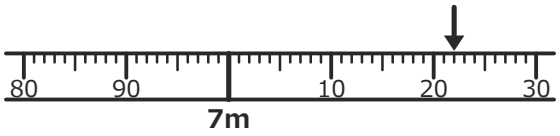

＿＿＿＿ m ＿＿＿＿ cm

4　家から 駅までの
きょりは、何mですか。

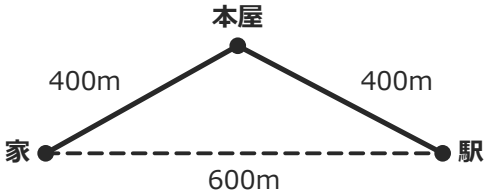

＿＿＿＿ m

5　やじるしが さす 目もりは、
何m何cmですか。

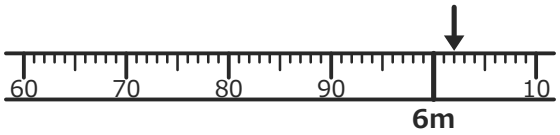

＿＿＿＿ m ＿＿＿＿ cm

6　学校から 図書館までの
道のりは、きょりより 何m 長い？

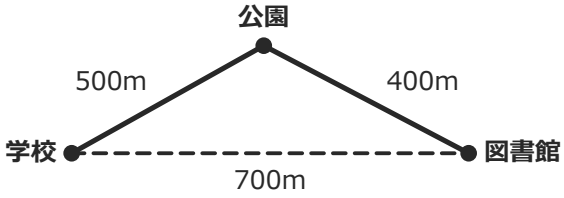

＿＿＿＿ m

7　やじるしが さす 目もりは、
何m何cmですか。

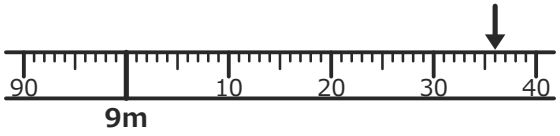

＿＿＿＿ m ＿＿＿＿ cm

8　家から 病院までの
道のりは、何mですか。

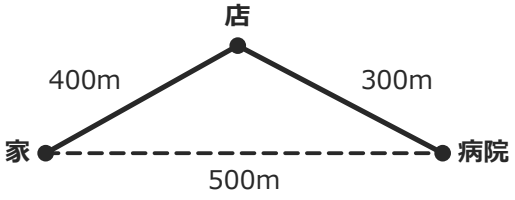

＿＿＿＿ m

いちごドリル プリント

つづきの無料プリント
「小3の長さ」のプリント一覧がひらきます

小3 長さ とっくんドリル②-4【こたえ】

まきじゃくの目もりと、道のりときょり　全8問

なまえ ＿＿＿＿＿＿＿＿

ひづけ ＿＿＿＿＿＿＿＿

×があったら「とっくんドリル②-5」へ、ぜんぶ○なら、まだやっていない「そうごうテスト（その2〜5）」へ

1　やじるしが さす 目もりは、何cmですか。

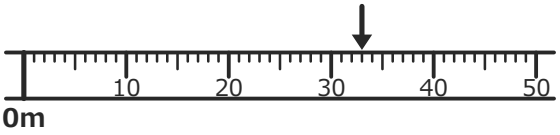

33 cm

→ よくある×：1m33cm

考え方：30から3目もり（1目もり1cm）

2　家から 学校までの道のりは、何km何mですか。

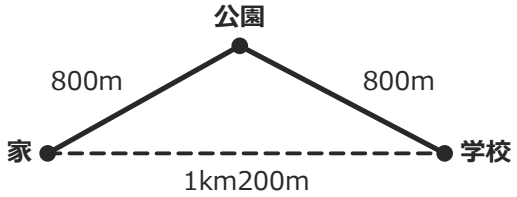

1 km 600 m

→ よくある×：1km200m

考え方：道にそった長さ：800＋800＝1600m

3　やじるしが さす 目もりは、何m何cmですか。

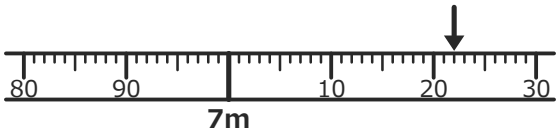

7 m 22 cm

→ よくある×：22cm

考え方：7mから22目もり（1目もり1cm）

4　家から 駅までのきょりは、何mですか。

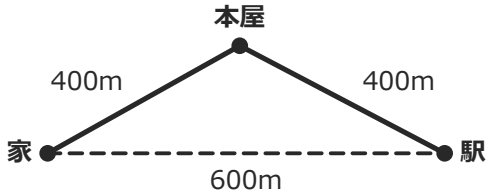

600 m

→ よくある×：800m

考え方：まっすぐはかった長さ（点線）

5　やじるしが さす 目もりは、何m何cmですか。

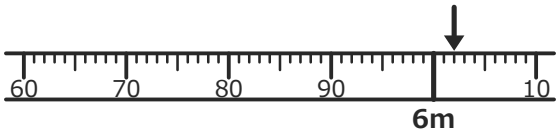

6 m 2 cm

→ よくある×：2cm

考え方：6mから2目もり（1目もり1cm）

6　学校から 図書館までの道のりは、きょりより 何m 長い？

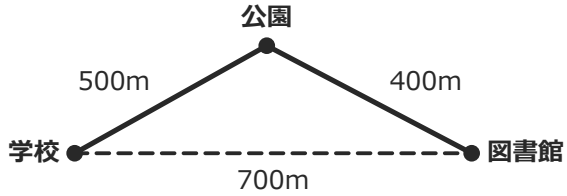

200 m

→ よくある×：900m

考え方：500＋400−700＝200m

7　やじるしが さす 目もりは、何m何cmですか。

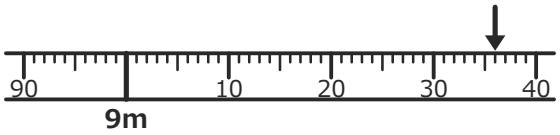

9 m 36 cm

→ よくある×：36cm

考え方：9mから36目もり（1目もり1cm）

8　家から 病院までの道のりは、何mですか。

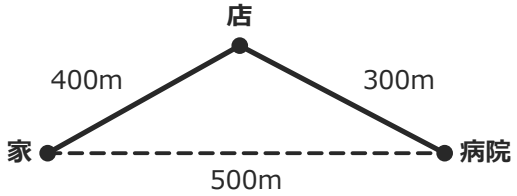

700 m

→ よくある×：500m

考え方：道にそった長さ：400＋300＝700m

いちごドリル プリント