小3 長さ とっくんドリル②-4

まきじゃくの目もりと、道のりときょり　全8問

なまえ ＿＿＿＿＿＿＿＿

ひづけ ＿＿＿＿＿＿＿＿

下線には数だけ書く（たんいは書いてある）。まきじゃくは、やじるしがさす目もりを読む

1　やじるしが さす 目もりは、
何cmですか。

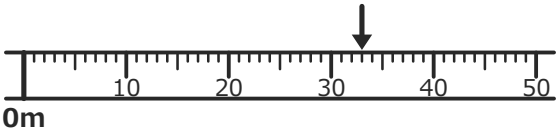

＿＿＿＿ cm

2　家から 学校までの
道のりは、何km何mですか。

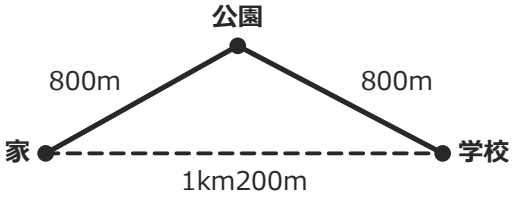

＿＿＿＿ km ＿＿＿＿ m

3　やじるしが さす 目もりは、
何m何cmですか。

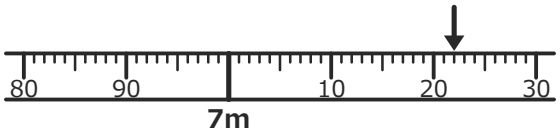

＿＿＿＿ m ＿＿＿＿ cm

4　家から 駅までの
きょりは、何mですか。

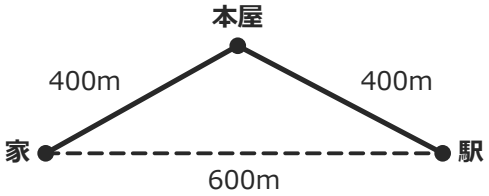

＿＿＿＿ m

5　やじるしが さす 目もりは、
何m何cmですか。

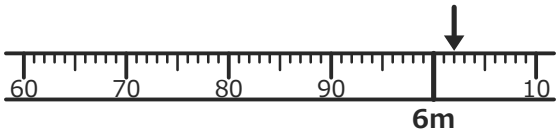

＿＿＿＿ m ＿＿＿＿ cm

6　学校から 図書館までの
道のりは、きょりより 何m 長い？

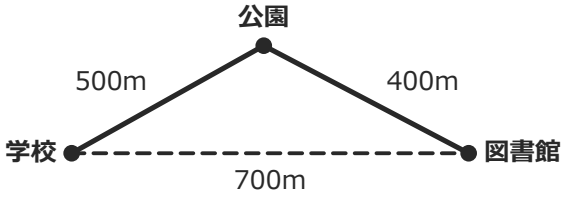

＿＿＿＿ m

7　やじるしが さす 目もりは、
何m何cmですか。

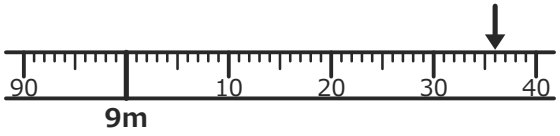

＿＿＿＿ m ＿＿＿＿ cm

8　家から 病院までの
道のりは、何mですか。

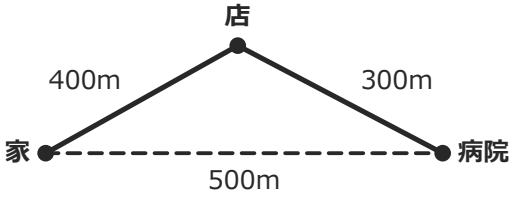

＿＿＿＿ m

いちごドリル プリント

つづきの無料プリント
「小3の長さ」のプリント一覧がひらきます