小3 長さ とっくんドリル②-3

まきじゃくの目もりと、道のりときょり　全8問

なまえ ＿＿＿＿＿＿＿＿

ひづけ ＿＿＿＿＿＿＿＿

下線には数だけ書く（たんいは書いてある）。まきじゃくは、やじるしがさす目もりを読む

1　やじるしが さす 目もりは、
何m何cmですか。

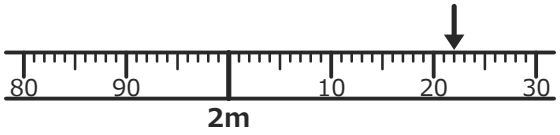

＿＿＿ m ＿＿＿ cm

2　学校から 家までの
道のりは、きょりより 何m 長い？

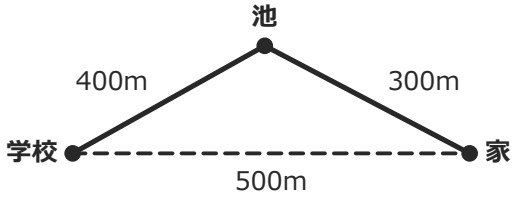

＿＿＿＿＿ m

3　やじるしが さす 目もりは、
何m何cmですか。

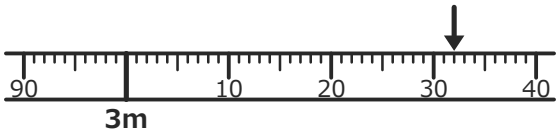

＿＿＿ m ＿＿＿ cm

4　家から 駅までの
道のりは、何km何mですか。

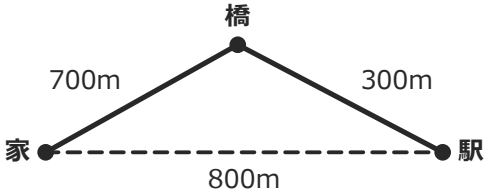

＿＿＿ km ＿＿＿＿＿ m

5　やじるしが さす 目もりは、
何m何cmですか。

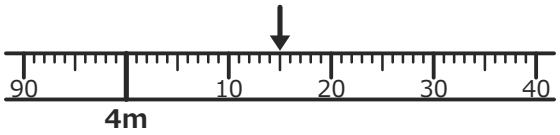

＿＿＿ m ＿＿＿ cm

6　公園から 家までの
きょりは、何mですか。

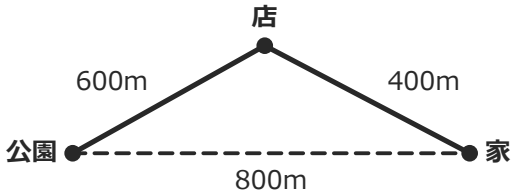

＿＿＿＿＿ m

7　やじるしが さす 目もりは、
何cmですか。

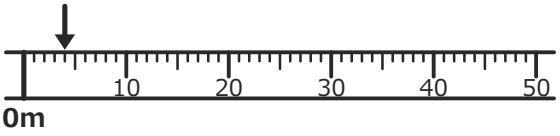

＿＿＿＿＿ cm

8　家から 学校までの
道のりは、きょりより 何m 長い？

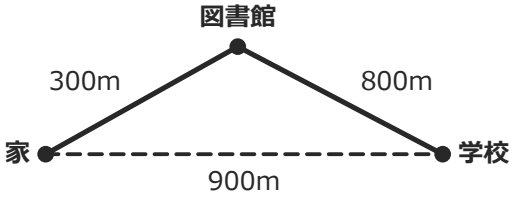

＿＿＿＿＿ m

いちごドリル プリント

つづきの無料プリント
「小3の長さ」のプリント一覧がひらきます

小3 長さ とっくんドリル②-3【こたえ】

まきじゃくの目もりと、道のりときょり　全8問

なまえ ＿＿＿＿＿＿＿＿

ひづけ ＿＿＿＿＿＿＿＿

×があったら「とっくんドリル②-4」へ、ぜんぶ○なら、まだやっていない「そうごうテスト（その2〜5）」へ

1　やじるしが さす 目もりは、何m何cmですか。

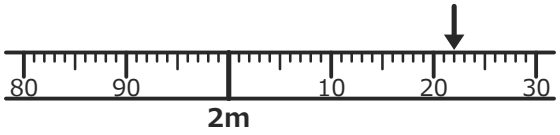

2 m 22 cm

→ よくある×：22cm

考え方：2mから22目もり（1目もり1cm）

2　学校から 家までの道のりは、きょりより 何m 長い？

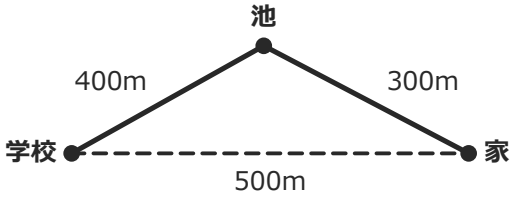

200 m

→ よくある×：700m

考え方：400＋300−500＝200m

3　やじるしが さす 目もりは、何m何cmですか。

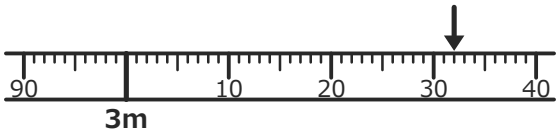

3 m 32 cm

→ よくある×：32cm

考え方：3mから32目もり（1目もり1cm）

4　家から 駅までの道のりは、何km何mですか。

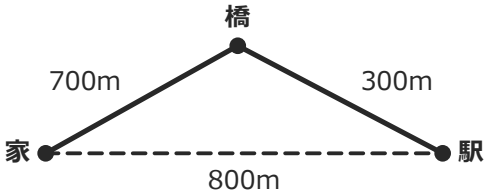

1 km 0 m

→ よくある×：800m

考え方：道にそった長さ：700＋300＝1000m

5　やじるしが さす 目もりは、何m何cmですか。

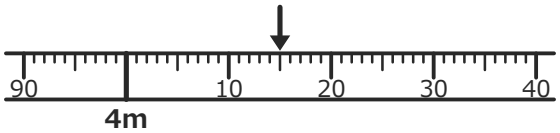

4 m 15 cm

→ よくある×：15cm

考え方：4mから15目もり（1目もり1cm）

6　公園から 家までのきょりは、何mですか。

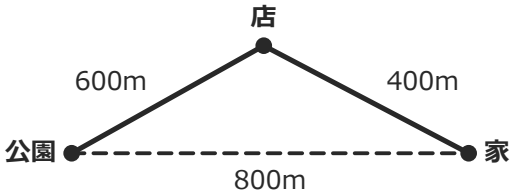

800 m

→ よくある×：1km

考え方：まっすぐはかった長さ（点線）

7　やじるしが さす 目もりは、何cmですか。

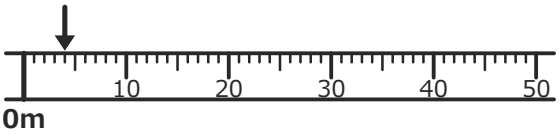

4 cm

→ よくある×：1m4cm

考え方：0から4目もり（1目もり1cm）

8　家から 学校までの道のりは、きょりより 何m 長い？

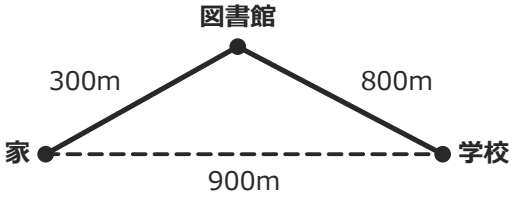

200 m

→ よくある×：1km100m

考え方：300＋800−900＝200m

いちごドリル プリント