小3 長さ とっくんドリル②-3

まきじゃくの目もりと、道のりときょり　全8問

なまえ ＿＿＿＿＿＿＿＿

ひづけ ＿＿＿＿＿＿＿＿

下線には数だけ書く（たんいは書いてある）。まきじゃくは、やじるしがさす目もりを読む

1　やじるしが さす 目もりは、
何m何cmですか。

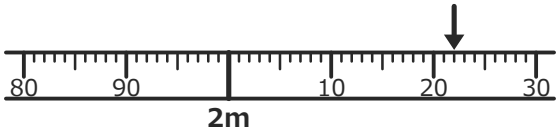

＿＿＿ m ＿＿＿ cm

2　学校から 家までの
道のりは、きょりより 何m 長い？

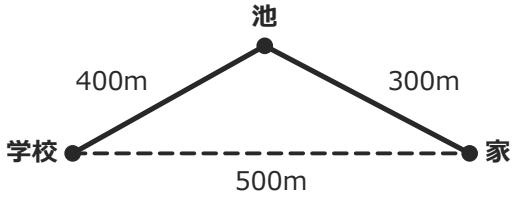

＿＿＿＿＿ m

3　やじるしが さす 目もりは、
何m何cmですか。

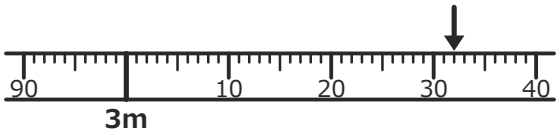

＿＿＿ m ＿＿＿ cm

4　家から 駅までの
道のりは、何km何mですか。

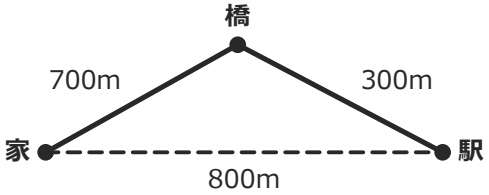

＿＿＿ km ＿＿＿＿＿ m

5　やじるしが さす 目もりは、
何m何cmですか。

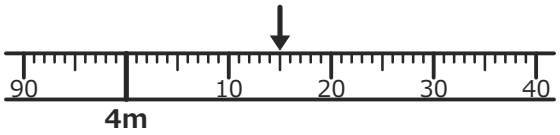

＿＿＿ m ＿＿＿ cm

6　公園から 家までの
きょりは、何mですか。

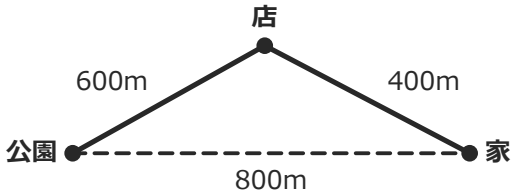

＿＿＿＿＿ m

7　やじるしが さす 目もりは、
何cmですか。

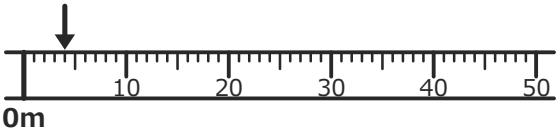

＿＿＿＿＿ cm

8　家から 学校までの
道のりは、きょりより 何m 長い？

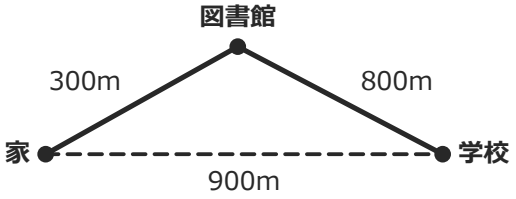

＿＿＿＿＿ m

いちごドリル プリント

つづきの無料プリント
「小3の長さ」のプリント一覧がひらきます