小3 長さ とっくんドリル②-2

まきじゃくの目もりと、道のりときょり　全8問

なまえ ＿＿＿＿＿＿＿＿

ひづけ ＿＿＿＿＿＿＿＿

下線には数だけ書く（たんいは書いてある）。まきじゃくは、やじるしがさす目もりを読む

1　やじるしが さす 目もりは、
何m何cmですか。

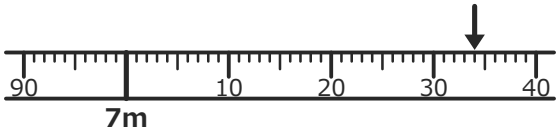

＿＿＿ m ＿＿＿ cm

2　学校から 図書館までの
きょりは、何km何mですか。

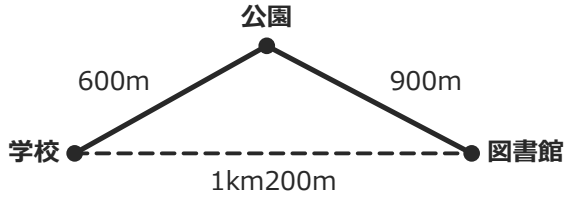

＿＿＿ km ＿＿＿＿ m

3　やじるしが さす 目もりは、
何m何cmですか。

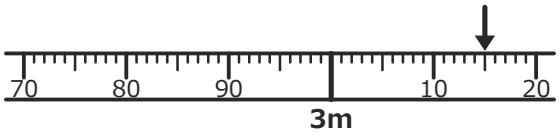

＿＿＿ m ＿＿＿ cm

4　家から 病院までの
道のりは、きょりより 何m 長い？

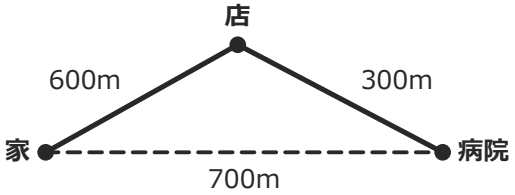

＿＿＿＿ m

5　やじるしが さす 目もりは、
何cmですか。

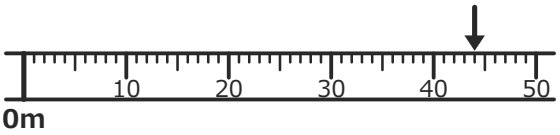

＿＿＿＿ cm

6　駅から 学校までの
道のりは、何km何mですか。

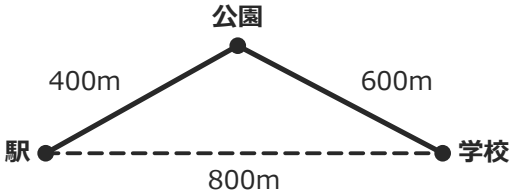

＿＿＿ km ＿＿＿＿ m

7　やじるしが さす 目もりは、
何m何cmですか。

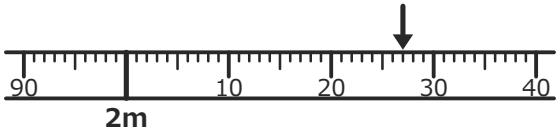

＿＿＿ m ＿＿＿ cm

8　家から 公園までの
きょりは、何mですか。

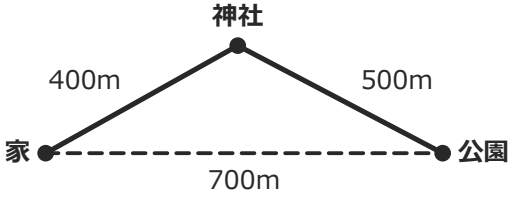

＿＿＿＿ m

いちごドリル プリント

つづきの無料プリント
「小3の長さ」のプリント一覧がひらきます

小3 長さ とっくんドリル②-2【こたえ】

まきじゃくの目もりと、道のりときょり　全8問

なまえ ＿＿＿＿＿＿＿＿

ひづけ ＿＿＿＿＿＿＿＿

×があったら「とっくんドリル②-3」へ、ぜんぶ○なら、まだやっていない「そうごうテスト（その2〜5）」へ

1　やじるしが さす 目もりは、何m何cmですか。

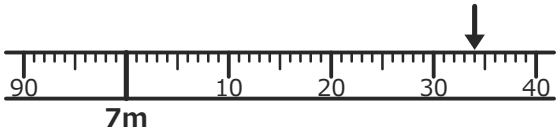

7 m 34 cm

→ よくある×：34cm

考え方：7mから34目もり（1目もり1cm）

2　学校から 図書館までの きょりは、何km何mですか。

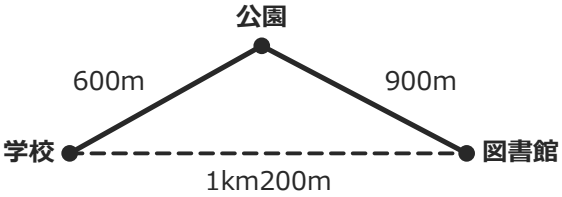

1 km 200 m

→ よくある×：1km500m

考え方：まっすぐはかった長さ（点線）

3　やじるしが さす 目もりは、何m何cmですか。

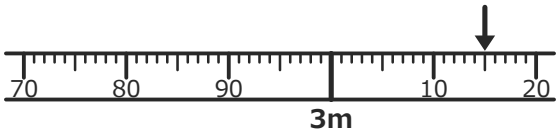

3 m 15 cm

→ よくある×：15cm

考え方：3mから15目もり（1目もり1cm）

4　家から 病院までの 道のりは、きょりより 何m 長い？

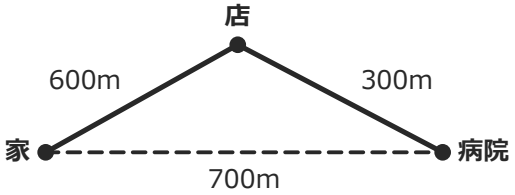

200 m

→ よくある×：900m

考え方：600＋300−700＝200m

5　やじるしが さす 目もりは、何cmですか。

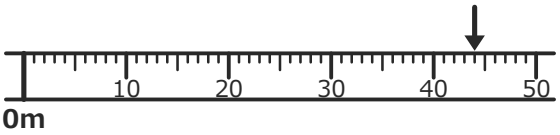

44 cm

→ よくある×：1m44cm

考え方：40から4目もり（1目もり1cm）

6　駅から 学校までの 道のりは、何km何mですか。

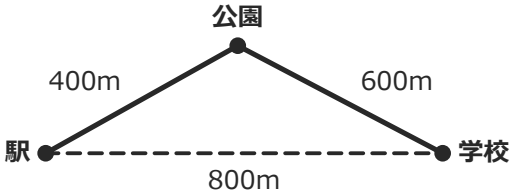

1 km 0 m

→ よくある×：800m

考え方：道にそった長さ：400＋600＝1000m

7　やじるしが さす 目もりは、何m何cmですか。

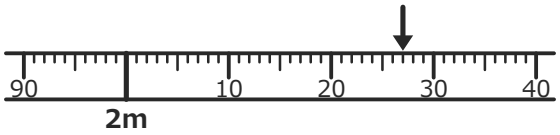

2 m 27 cm

→ よくある×：27cm

考え方：2mから27目もり（1目もり1cm）

8　家から 公園までの きょりは、何mですか。

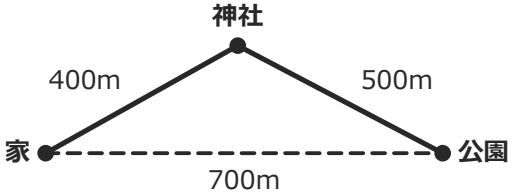

700 m

→ よくある×：900m

考え方：まっすぐはかった長さ（点線）

いちごドリル プリント