小3 長さ とっくんドリル②-1

まきじゃくの目もりと、道のりときょり　全8問

なまえ ＿＿＿＿＿＿＿＿

ひづけ ＿＿＿＿＿＿＿＿

下線には数だけ書く（たんいは書いてある）。まきじゃくは、やじるしがさす目もりを読む

1　やじるしが さす 目もりは、
何m何cmですか。

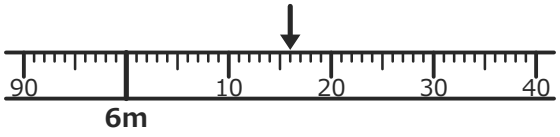

＿＿＿ m ＿＿＿ cm

2　公園から 家までの
道のりは、何km何mですか。

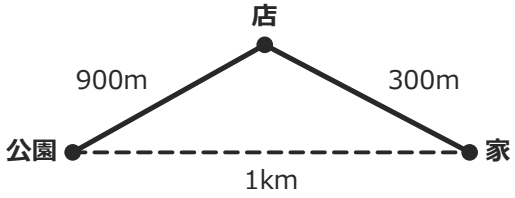

＿＿＿ km ＿＿＿ m

3　やじるしが さす 目もりは、
何cmですか。

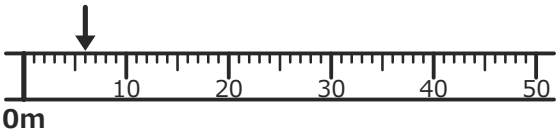

＿＿＿ cm

4　家から 学校までの
きょりは、何km何mですか。

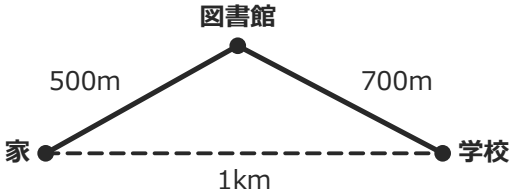

＿＿＿ km ＿＿＿ m

5　やじるしが さす 目もりは、
何m何cmですか。

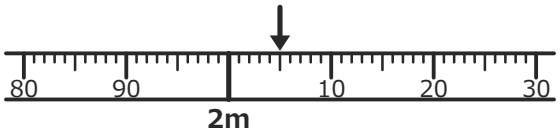

＿＿＿ m ＿＿＿ cm

6　家から 学校までの
道のりは、きょりより 何m 長い？

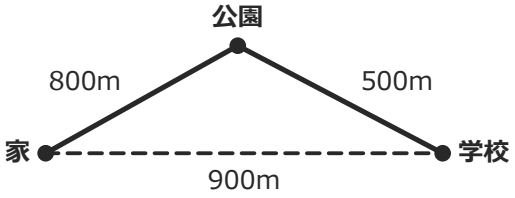

＿＿＿ m

7　やじるしが さす 目もりは、
何m何cmですか。

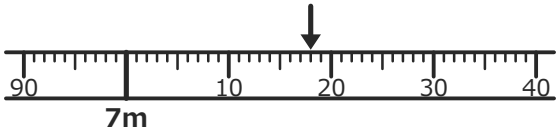

＿＿＿ m ＿＿＿ cm

8　家から 駅までの
道のりは、何km何mですか。

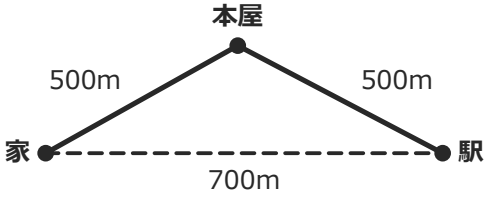

＿＿＿ km ＿＿＿ m

いちごドリル プリント

つづきの無料プリント
「小3の長さ」のプリント一覧がひらきます

小3 長さ とっくんドリル②-1【こたえ】

まきじゃくの目もりと、道のりときょり　全8問

なまえ ＿＿＿＿＿＿＿＿

ひづけ ＿＿＿＿＿＿＿＿

×があったら「とっくんドリル②-2」へ、ぜんぶ○なら、まだやっていない「そうごうテスト（その2〜5）」へ

1　やじるしが さす 目もりは、何m何cmですか。

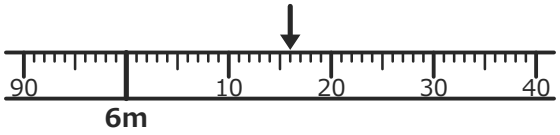

6 m 16 cm

→ よくある×：16cm

考え方：6mから16目もり（1目もり1cm）

2　公園から 家までの道のりは、何km何mですか。

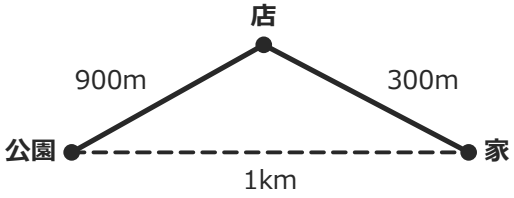

1 km 200 m

→ よくある×：1km

考え方：道にそった長さ：900＋300＝1200m

3　やじるしが さす 目もりは、何cmですか。

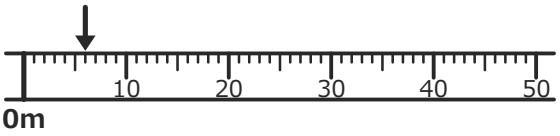

6 cm

→ よくある×：1m6cm

考え方：0から6目もり（1目もり1cm）

4　家から 学校までの きょりは、何km何mですか。

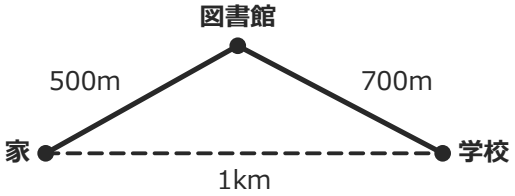

1 km 0 m

→ よくある×：1km200m

考え方：まっすぐはかった長さ（点線）

5　やじるしが さす 目もりは、何m何cmですか。

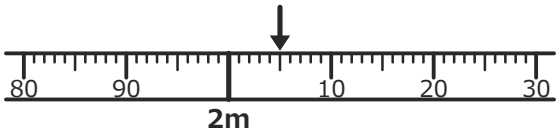

2 m 5 cm

→ よくある×：5cm

考え方：2mから5目もり（1目もり1cm）

6　家から 学校までの道のりは、きょりより 何m 長い？

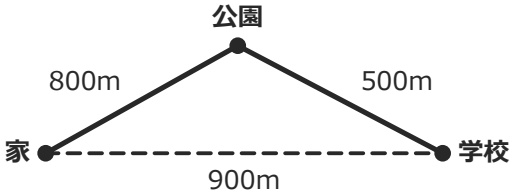

400 m

→ よくある×：1km300m

考え方：800＋500−900＝400m

7　やじるしが さす 目もりは、何m何cmですか。

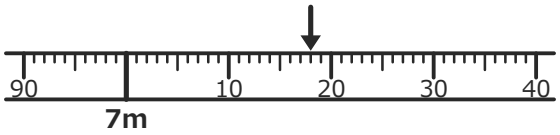

7 m 18 cm

→ よくある×：18cm

考え方：7mから18目もり（1目もり1cm）

8　家から 駅までの道のりは、何km何mですか。

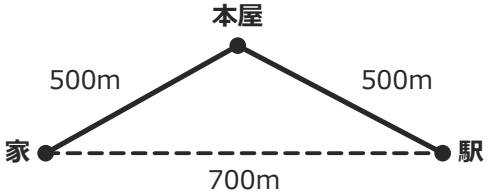

1 km 0 m

→ よくある×：700m

考え方：道にそった長さ：500＋500＝1000m

いちごドリル プリント