小3 長さ そうごうテスト（その1）

全12問　100点

なまえ ＿＿＿＿＿＿＿＿

ひづけ ＿＿＿＿＿＿　/100

下線には数だけ書く（たんいは書いてある）。「たんいは どれかな？」の問題は、たんいを○でかこむ

8点

1 2km50mは、
何mですか。

＿＿＿＿＿ m

8点

2 1km600m ＋ 700m ＝

＿＿＿＿ km ＿＿＿＿＿ m

8点

3 やじるしが さす 目もりは、
何m何cmですか。

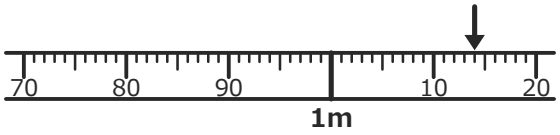

＿＿＿＿ m ＿＿＿＿ cm

8点

4 家から 学校までの
道のりは、何km何mですか。

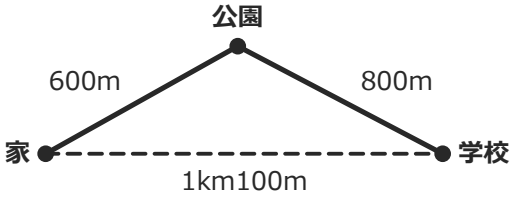

＿＿＿＿ km ＿＿＿＿＿ m

8点

5 3km200m − 1km600m ＝

＿＿＿＿ km ＿＿＿＿＿ m

8点

6 えんぴつの 長さは 17（　）。
たんいは どれかな？

m　　**cm**　　**km**

8点

7 1時間 歩いた 道のりは 4（　）。
たんいは どれかな？

cm　　**m**　　**km**

8点

8 4070mは、
何km何mですか。

＿＿＿＿ km ＿＿＿＿ m

9点

9 家から 駅までの
きょりは、何mですか。

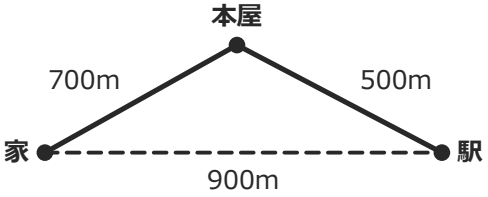

＿＿＿＿＿ m

9点

10 やじるしが さす 目もりは、
何m何cmですか。

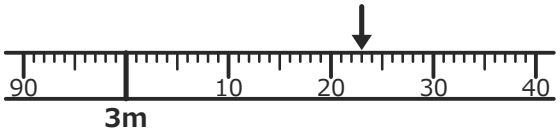

＿＿＿＿ m ＿＿＿＿ cm

9点

11 5km100m − 600m ＝

＿＿＿＿ km ＿＿＿＿＿ m

9点

12 2km450m ＋ 1km750m ＝

＿＿＿＿ km ＿＿＿＿＿ m

いちごドリル プリント

つづきの無料プリント
「小3の長さ」のプリント一覧がひらきます

小3 長さ そうごうテスト（その1）【こたえ】

なまえ ＿＿＿＿＿＿＿＿

全12問　100点

ひづけ ＿＿＿＿＿＿　/100

つまずき①　kmとmのなおし方

2問とも×→つまずき　1問だけ×→うっかりかも

問1 2050m

2km50mは何m

よくある×：250m

2km＝2000m

2000＋50＝2050m

問8 4km70m

4070mは何km何m

よくある×：4km700m

4000m＝4km

のこり70m

→ 4km70m

つまずき：mのけたを見ずに、0を入れない・入れすぎる

まちがえたら→「練習プリント①」→「とっくんドリル①」

問1の考え方：1km＝1000m

2000m＋50m＝2050m

つまずき②　まきじゃくの目もりの読み方

2問とも×→つまずき　1問だけ×→うっかりかも

問3 1m14cm

まきじゃくの目もり

よくある×：14cm

1目もり1cm

1mと14cm

→ 1m14cm

問10 3m23cm

まきじゃくの目もり

よくある×：23cm

1目もり1cm

3mと23cm

→ 3m23cm

つまずき：1mをこえたあとの数字を、そのままcmと読み、mを入れない

まちがえたら→「練習プリント②」→「とっくんドリル②」

問3の考え方：1目もりは1cm

1mの目もりから14目もりで1m14cm

つまずき③　道のりときょりのちがい

2問とも×→つまずき　1問だけ×→うっかりかも

問4 1km400m

家から学校までの道のり

よくある×：1km100m

道にそった長さ

600＋800＝1400m

→ 1km400m

問9 900m

家から駅までのきょり

よくある×：1km200m

まっすぐはかった長さ

→ 900m

つまずき：道にそってはかった長さ（道のり）と、まっすぐはかった長さ（きょり）を取りちがえる

まちがえたら→「練習プリント③」→「とっくんドリル②」

問4の考え方：道のりは道にそった長さ

600m＋800m＝1400m＝1km400m

つまずき④　長さのたし算のくり上がり

2問とも×→つまずき　1問だけ×→うっかりかも

問2 2km300m

1km600m＋700m

よくある×：1km1300m

600＋700＝1300m

＝1km300m

→ 2km300m

問12 4km200m

2km450m＋1km750m

よくある×：3km1200m

450＋750＝1200m

＝1km200m

→ 4km200m

つまずき：mが1000をこえても、1kmにくり上げない

まちがえたら→「練習プリント④」→「とっくんドリル③」

問2の考え方：600m＋700m＝1km300m

1＋1＝2km

つまずき⑤　長さのたんいえらび

2問とも×→つまずき　1問だけ×→うっかりかも

問6 cm

えんぴつの 長さは17（　）

よくある×：m

えんぴつは

17cmくらい

問7 km

1時間 歩いた

道のりは4（　）

よくある×：m

1時間で

4kmくらい

つまずき：長さの見当をつけずに、たんいをえらぶ

まちがえたら→「練習プリント⑤」→「とっくんドリル①」

問6の考え方：えんぴつは、cmで表す

つまずき⑥　長さのひき算のくり下がり

2問とも×→つまずき　1問だけ×→うっかりかも

問5 1km600m

3km200m−1km600m

よくある×：2km400m

3km200m＝2km1200m

1200−600＝600m

→ 1km600m

問11 4km500m

5km100m−600m

よくある×：5km500m

5km100m＝4km1100m

1100−600＝500m

→ 4km500m

つまずき：mがひけないとき、大きい方から小さい方をひく

まちがえたら→「練習プリント⑥」→「とっくんドリル③」

問5の考え方：1kmを1000mにする

1200m−600m＝600m

2km−1km＝1km