小3 長さ そうごうテスト（その1）

全12問　100点

なまえ ＿＿＿＿＿＿＿＿

ひづけ ＿＿＿＿＿＿　/100

下線には数だけ書く（たんいは書いてある）。「たんいは どれかな？」の問題は、たんいを○でかこむ

8点

1 2km50mは、
何mですか。

＿＿＿＿＿ m

8点

2 1km600m ＋ 700m ＝

＿＿＿＿ km ＿＿＿＿＿ m

8点

3 やじるしが さす 目もりは、
何m何cmですか。

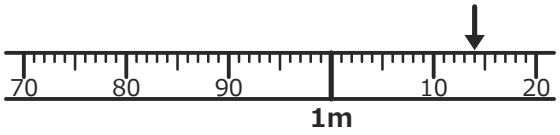

＿＿＿＿ m ＿＿＿＿ cm

8点

4 家から 学校までの
道のりは、何km何mですか。

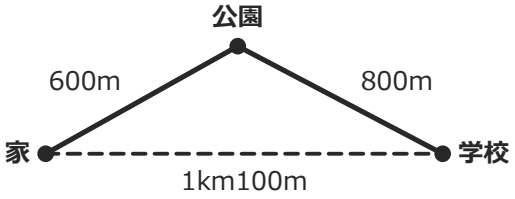

＿＿＿＿ km ＿＿＿＿＿ m

8点

5 3km200m − 1km600m ＝

＿＿＿＿ km ＿＿＿＿＿ m

8点

6 えんぴつの 長さは 17（　）。
たんいは どれかな？

m　　**cm**　　**km**

8点

7 1時間 歩いた 道のりは 4（　）。
たんいは どれかな？

cm　　**m**　　**km**

8点

8 4070mは、
何km何mですか。

＿＿＿＿ km ＿＿＿＿ m

9点

9 家から 駅までの
きょりは、何mですか。

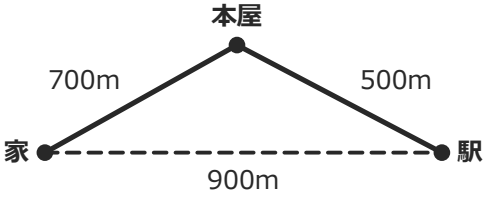

＿＿＿＿＿ m

9点

10 やじるしが さす 目もりは、
何m何cmですか。

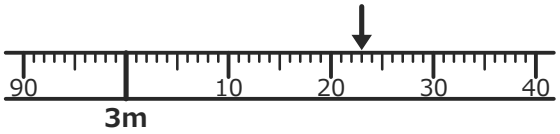

＿＿＿＿ m ＿＿＿＿ cm

9点

11 5km100m − 600m ＝

＿＿＿＿ km ＿＿＿＿＿ m

9点

12 2km450m ＋ 1km750m ＝

＿＿＿＿ km ＿＿＿＿＿ m

いちごドリル プリント

つづきの無料プリント
「小3の長さ」のプリント一覧がひらきます