直径から 体積 ドリル②

中1 空間図形／ドリル② 8問／目標 15分

なまえ ＿＿＿＿＿＿＿＿

ひづけ ＿＿＿＿＿＿＿＿

円の まん中を 通って 円を 横切る 線の 長さは 直径。体積を 求めて □ に π の 前の 数を 書く

① 円柱の 体積は？

□ π cm³

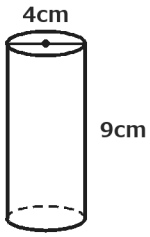

② 球の 体積は？

□ π cm³

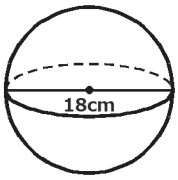

③ 円柱の 体積は？

□ π cm³

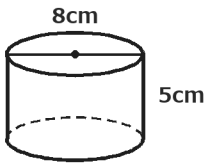

④ 球の 体積は？

□ π cm³

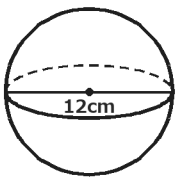

⑤ 円錐の 体積は？

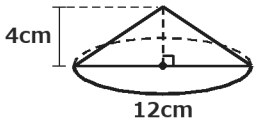

□ π cm³

⑥ 半球の 体積は？

□ π cm³

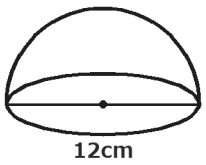

⑦ 円錐の 体積は？

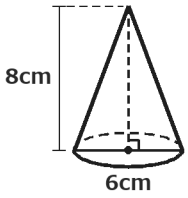

□ π cm³

⑧ 円柱の 体積は？

□ π cm³

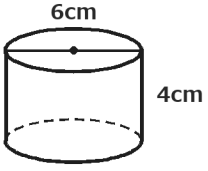

いちごドリル プリント

つづきの無料プリント
「空間図形」のプリント一覧がひらきます