柱・錐・球の 体積

なまえ ＿＿＿＿＿＿＿＿

中1 空間図形／解き方プリント 6問／目標 15分

ひづけ ＿＿＿＿＿＿＿＿

きまり

① 柱の 体積＝底面積×高さ。錐の 体積＝$\frac{1}{3}$×底面積×高さ。底面が 三角形なら 底面積は 底辺×高さ÷2。

② 図に 直径が 書いて あれば、半分に して 半径に する。

③ 球の 表面積＝4×π×半径^2、体積＝$\frac{4}{3}$×π×半径^3。半球の 体積は その 半分、表面積は 曲面（球の 半分）＋底の 円。

・体積・表面積を 求める。□π は π の 前の 数を 書く
・こまったら 各問の 下の 「ヒント」と、いちばん 上の 「きまり」を 見る

① **底面が 直角三角形の 三角柱の 体積（直角を はさむ 2辺は 3cm・4cm）。**

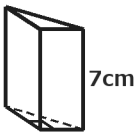

＿＿＿＿ cm^3

ヒント 底面の 三角形は ÷2

② **円錐の 体積。**

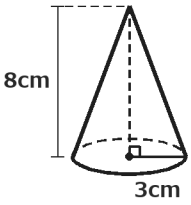

底面積 ＿＿＿＿ π cm^2

体積 ＿＿＿＿ π cm^3

ヒント $\frac{1}{3}$×底面積×高さ

③ **半径 12cm の 球。**

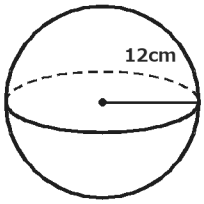

表面積 ＿＿＿＿ π cm^2

体積 ＿＿＿＿ π cm^3

ヒント 表面積は 2乗、体積は 3乗

④ **三角錐 P-OAB。底面は ∠AOB＝90°の 三角形で OA＝6cm、 OB＝4cm。 PO は 底面に 垂直で PO＝7cm。 体積は？**

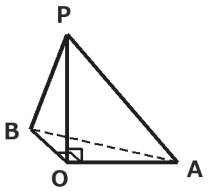

＿＿＿＿ cm^3

ヒント 錐は $\frac{1}{3}$ を かける

⑤ **円柱の 体積。**

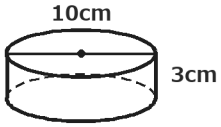

半径 ＿＿＿＿ cm

体積 ＿＿＿＿ π cm^3

ヒント 10cm は 直径

⑥ **半径 9cm の 半球の 体積。**

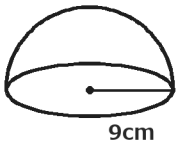

球の 体積 ＿＿＿＿ π cm^3

半球の 体積 ＿＿＿＿ π cm^3

ヒント 球の 体積の 半分

いちごドリル プリント

つづきの無料プリント
「空間図形」のプリント一覧がひらきます

柱・錐・球の 体積【こたえ】

なまえ ＿＿＿＿＿＿＿＿

中1 空間図形／解き方プリント 6問／目標 15分

ひづけ ＿＿＿＿＿＿＿＿

きまり

① 柱の 体積＝底面積×高さ。錐の 体積＝$\frac{1}{3}$×底面積×高さ。底面が 三角形なら 底面積は 底辺×高さ÷2。

② 図に 直径が 書いて あれば、半分に して 半径に する。

③ 球の 表面積＝4×π×半径²、体積＝$\frac{4}{3}$×π×半径³。半球の 体積は その 半分、表面積は 曲面（球の 半分）＋底の 円。

・体積・表面積を 求める。□π は π の 前の 数を 書く
・こまったら 各問の 下の 「ヒント」と、いちばん 上の 「きまり」を 見る

① 底面が 直角三角形の 三角柱の 体積（直角を はさむ 2辺は 3cm・4cm）。

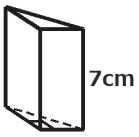

42 cm³

底面 3×4÷2＝6。6×7＝42

② 円錐の 体積。

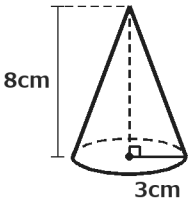

底面積 9 π cm²

体積 24 π cm³

底面 π×3²＝9π。$\frac{1}{3}$×9π×8＝24π（$\frac{1}{3}$ を 忘れると 72π で ×）

③ 半径 12cm の 球。

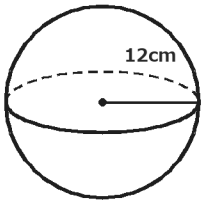

表面積 576 π cm²

体積 2304 π cm³

表面積 4×π×12²＝576π。体積 $\frac{4}{3}$×π×12³＝2304π

④ 三角錐 P-OAB。底面は ∠AOB＝90°の 三角形で OA＝6cm、OB＝4cm。PO は 底面に 垂直で PO＝7cm。体積は？

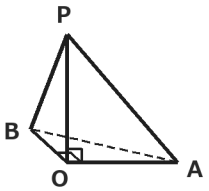

28 cm³

底面 6×4÷2＝12。$\frac{1}{3}$×12×7＝28（$\frac{1}{3}$ を 忘れると 84 で ×）

⑤ 円柱の 体積。

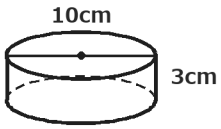

半径 5 cm

体積 75 π cm³

半径は 10÷2＝5cm。π×5²×3＝75π（10 を 半径に すると 300π で ×）

⑥ 半径 9cm の 半球の 体積。

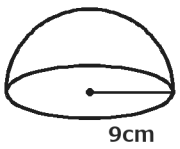

球の 体積 972 π cm³

半球の 体積 486 π cm³

球 $\frac{4}{3}$×π×9³＝972π。半球は その 半分で 486π（球の ままだと ×）

丸つけ π の 前の 数で 見る（24π と 書いても ○）

いちごドリル プリント

柱と 錐の 体積 ドリル①

なまえ ＿＿＿＿＿＿＿＿

中1 空間図形／ドリル① 6問／目標 12分

ひづけ ＿＿＿＿＿＿＿＿

・三角柱・三角錐・四角錐・円錐の 体積を cm³ で 出して □ に 書く
・円錐の 答えは π の 前の 数だけ。図の ない 問題は 文の 長さを 使う

① 三角錐 P-OAB。底面は ∠AOB＝90°の 三角形で OA＝8cm、OB＝3cm。PO は 底面に 垂直で PO＝5cm。体積は？

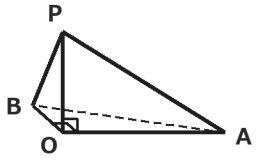

□ cm³

② 底面が 1辺 6cm の 正方形、高さ 5cm の 正四角錐の 体積は？

□ cm³

③ 円錐の 体積は？

□ π cm³

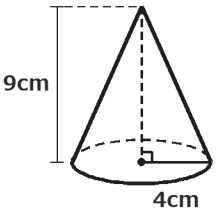

④ 三角錐 P-OAB。底面は ∠AOB＝90°の 三角形で OA＝10cm、OB＝6cm。PO は 底面に 垂直で PO＝4cm。体積は？

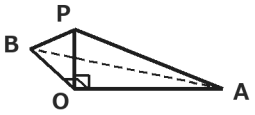

□ cm³

⑤ 底面が 底辺 7cm・高さ 4cm の 三角形で、高さ 9cm の 三角柱の 体積は？

□ cm³

⑥ 円錐の 体積は？



□ π cm³

いちごドリル プリント

つづきの無料プリント
「空間図形」のプリント一覧がひらきます

柱と 錐の 体積 ドリル①【こたえ】

なまえ ＿＿＿＿＿＿＿＿

中1 空間図形／ドリル① 6問／目標 12分

ひづけ ＿＿＿＿＿＿＿＿

・三角柱・三角錐・四角錐・円錐の 体積を cm³ で 出して □ に 書く
・円錐の 答えは π の 前の 数だけ。図の ない 問題は 文の 長さを 使う

① 三角錐 P-OAB。底面は
∠AOB＝90°の 三角形で
OA＝8cm、 OB＝3cm。
PO は 底面に 垂直で
PO＝5cm。 体積は？

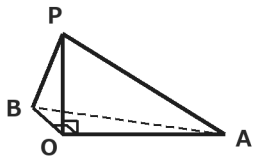

20 cm³

底面 8×3÷2＝12。$\frac{1}{3}$×12×5＝20（$\frac{1}{3}$ を 忘れると 60 で ×）

② 底面が 1辺 6cm の 正方形、高さ 5cm の
正四角錐の 体積は？

60 cm³

$\frac{1}{3}$×6×6×5＝60（$\frac{1}{3}$ を 忘れると 180 で ×）

③ 円錐の 体積は？

48 π cm³

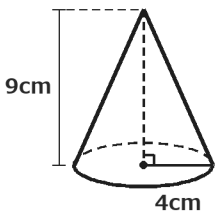

$\frac{1}{3}$×π×4²×9＝48π

④ 三角錐 P-OAB。底面は
∠AOB＝90°の 三角形で
OA＝10cm、
OB＝6cm。 PO は
底面に 垂直で
PO＝4cm。 体積は？

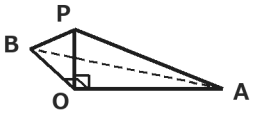

40 cm³

底面 10×6÷2＝30。$\frac{1}{3}$×30×4＝40（$\frac{1}{3}$ を 忘れると 120 で ×）

⑤ 底面が 底辺 7cm・高さ 4cm の 三角形で、
高さ 9cm の 三角柱の 体積は？

126 cm³

底面 7×4÷2＝14。14×9＝126（÷2 を 忘れると 252 で ×）

⑥ 円錐の 体積は？



24 π cm³

$\frac{1}{3}$×π×6²×2＝24π

丸つけ 錐は $\frac{1}{3}$、三角形の 底面は ÷2。どちらか 落とすと ×

いちごドリル プリント

直径から 体積 ドリル②

中1 空間図形／ドリル② 8問／目標 15分

なまえ ＿＿＿＿＿＿＿＿

ひづけ ＿＿＿＿＿＿＿＿

円の まん中を 通って 円を 横切る 線の 長さは 直径。体積を 求めて □ に π の 前の 数を 書く

① 円柱の 体積は？

□ π cm³

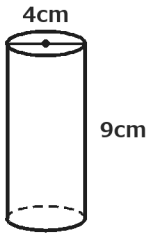

② 球の 体積は？

□ π cm³

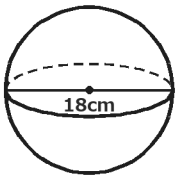

③ 円柱の 体積は？

□ π cm³

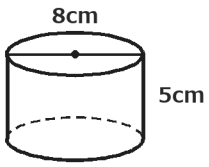

④ 球の 体積は？

□ π cm³

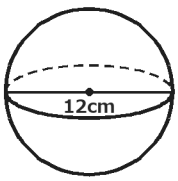

⑤ 円錐の 体積は？

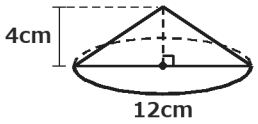

□ π cm³

⑥ 半球の 体積は？

□ π cm³

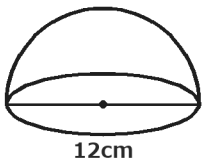

⑦ 円錐の 体積は？

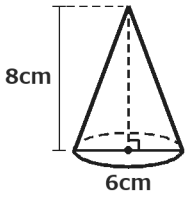

□ π cm³

⑧ 円柱の 体積は？

□ π cm³

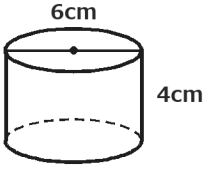

いちごドリル プリント

つづきの無料プリント
「空間図形」のプリント一覧がひらきます

直径から 体積 ドリル②【こたえ】

中1 空間図形／ドリル② 8問／目標 15分

なまえ ＿＿＿＿＿＿＿＿

ひづけ ＿＿＿＿＿＿＿＿

円の まん中を 通って 円を 横切る 線の 長さは 直径。体積を 求めて □ に π の 前の 数を 書く

① **円柱の 体積は？**

36 π cm³

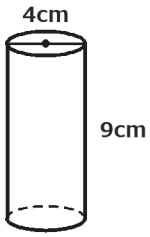

半径 4÷2＝2。π×2²×9＝36π（直径 4 を 半径に すると ×）

② **球の 体積は？**

972 π cm³

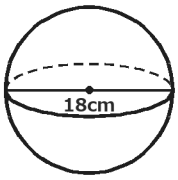

半径 9。$\frac{4}{3}$×π×9³＝972π（直径 18 を 半径に すると ×）

③ **円柱の 体積は？**

80 π cm³

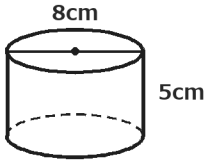

半径 8÷2＝4。π×4²×5＝80π（直径 8 を 半径に すると ×）

④ **球の 体積は？**

288 π cm³

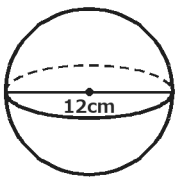

半径 6。$\frac{4}{3}$×π×6³＝288π（直径 12 を 半径に すると ×）

⑤ **円錐の 体積は？**

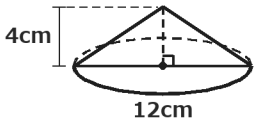

48 π cm³

半径 6。$\frac{1}{3}$×π×6²×4＝48π（直径 12 を 半径に すると ×）

⑥ **半球の 体積は？**

144 π cm³

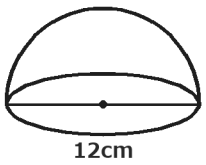

半径 6。$\frac{4}{3}$×π×6³÷2＝144π（÷2 を 忘れると ×）（直径 12 を 半径に すると ×）

⑦ **円錐の 体積は？**

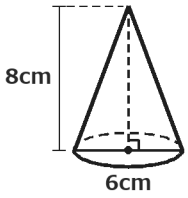

24 π cm³

半径 3。$\frac{1}{3}$×π×3²×8＝24π（直径 6 を 半径に すると ×）

⑧ **円柱の 体積は？**

36 π cm³

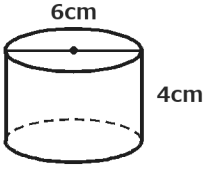

半径 6÷2＝3。π×3²×4＝36π（直径 6 を 半径に すると ×）

丸つけ どの 問題も まず 直径÷2 で 半径。π の 前の 数で 見る

いちごドリル プリント

球と 半球 ドリル③

なまえ ＿＿＿＿＿＿＿＿

中1 空間図形／ドリル③ 7問／目標 12分

ひづけ ＿＿＿＿＿＿＿＿

・球・半球の 表面積と 体積を 求める。□ には π の 前の 数を 書く
・ア・イ… は 正しい ものを 1つ ○ で かこむ。文の 問題は ○か×を □ に 書く

① 半径 15cm の 球の 表面積と 体積は？

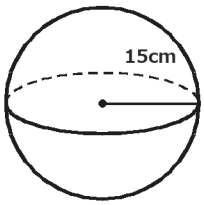

表面積 □ π cm²

体積 □ π cm³

② 4×π×半径² で 求める ものは？

ア 球の 表面積　　イ 球の 体積

③ 半径 9cm の 半球の 表面積と 体積は？

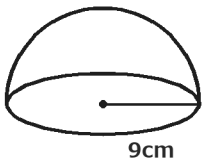

表面積 □ π cm²

体積 □ π cm³

④ $\frac{4}{3}$×π×半径³ で 求める ものは？

ア 球の 表面積　　イ 球の 体積

⑤ 半球の 表面積は、もとの 球の 表面積の 半分。 □

⑥ 半球の 体積は、もとの 球の 体積の 半分。 □

⑦ 半径 3cm の 球は、表面積も 体積も 36π に なる。それでも 同じ もの では ない わけは？

ア 単位が cm² と cm³ で ちがう

イ π の 値が ちがう

ウ 半径が ちがう

いちごドリル プリント

つづきの無料プリント
「空間図形」のプリント一覧がひらきます

球と 半球 ドリル③【こたえ】

中1 空間図形／ドリル③ 7問／目標 12分

なまえ ＿＿＿＿＿＿＿＿

ひづけ ＿＿＿＿＿＿＿＿

・球・半球の 表面積と 体積を 求める。□ には π の 前の 数を 書く
・ア・イ… は 正しい ものを 1つ ○ で かこむ。文の 問題は ○か×を □ に 書く

① 半径 15cm の 球の 表面積と 体積は？

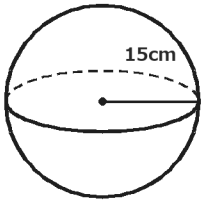

表面積 900 π cm²

体積 4500 π cm³

表面積 $4\times\pi\times15^2=900\pi$。体積 $\frac{4}{3}\times\pi\times15^3=4500\pi$

② 4×π×半径² で 求める ものは？

(ア)球の 表面積　　イ 球の 体積

2乗は 面積（cm²）。体積は 3乗（cm³）

③ 半径 9cm の 半球の 表面積と 体積は？

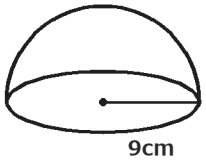

表面積 243 π cm²

体積 486 π cm³

曲面 $4\times\pi\times9^2\div2=162\pi$、底 $\pi\times9^2=81\pi$。$162\pi+81\pi=243\pi$。体積 $\frac{4}{3}\times\pi\times9^3\div2=486\pi$

④ $\frac{4}{3}$×π×半径³ で 求める ものは？

ア 球の 表面積　　(イ)球の 体積

3乗は 体積

⑤ 半球の 表面積は、もとの 球の 表面積の 半分。 ×

×。底の 円の 分 だけ 多い

⑥ 半球の 体積は、もとの 球の 体積の 半分。 ○

○。半球は 球を 半分に 切った 立体

⑦ 半径 3cm の 球は、表面積も 体積も 36π に なる。それでも 同じ もの では ない わけは？

(ア)単位が cm² と cm³ で ちがう

イ π の 値が ちがう

ウ 半径が ちがう

表面積は 面の 広さ（cm²）、体積は かさ（cm³）。数が 同じでも 別の 量

丸つけ 表面積は cm²（2乗）、体積は cm³（3乗）。π の 前の 数で 見る

いちごドリル プリント

組み合わせた 立体 ドリル④

中1 空間図形／ドリル④ 9問／目標 20分

なまえ ＿＿＿＿＿＿＿＿

ひづけ ＿＿＿＿＿＿＿＿

・立体を 円柱・円錐・半球に 分けて 体積を 求める。□ には π の 前の 数を 書く
・文の 問題は 正しければ ○、まちがいなら × を □ に 書く

① 円柱の 上に 同じ 半径の 半球を のせた 立体の 体積は？

□ π cm³

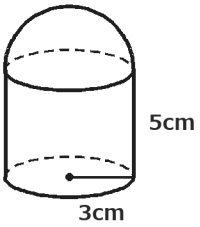

② 円柱の 上に 同じ 半径の 半球を のせた 立体の 体積は？

□ π cm³

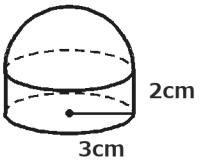

③ 底面の 半径 6cm、高さ 5cm の 円柱から、同じ 底面・高さの 円錐を くりぬいた 立体の 体積は？

□ π cm³

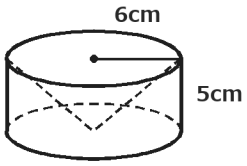

④ 円柱の 上に、同じ 底面の 円錐を のせた 立体の 体積は？

□ π cm³

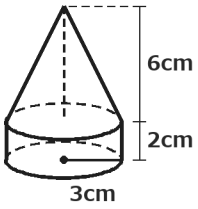

⑤ 円柱の 上に、同じ 底面の 円錐を のせた 立体の 体積は？

□ π cm³

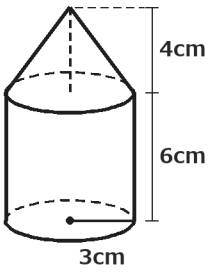

⑥ 円柱の 上に、同じ 底面の 円錐を のせた 立体の 体積は？

□ π cm³

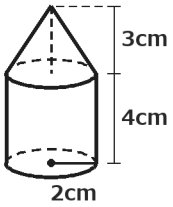

⑦ 半径 3cm の 球が ちょうど 入る 円柱（高さ 6cm）と、同じ 底面・高さの 円錐。体積は？

円錐 □ π cm³

球 □ π cm³

円柱 □ π cm³

⑧ 球の 体積は、ちょうど 入る 円柱の 体積の $\frac{1}{3}$ で ある。 □

⑨ 円錐の 体積は、同じ 底面・高さの 円柱の 体積の $\frac{1}{3}$ で ある。 □

いちごドリル プリント

つづきの無料プリント
「空間図形」のプリント一覧がひらきます

組み合わせた 立体 ドリル④【こたえ】

なまえ ＿＿＿＿＿＿＿＿

中1 空間図形／ドリル④ 9問／目標 20分

ひづけ ＿＿＿＿＿＿＿＿

・立体を 円柱・円錐・半球に 分けて 体積を 求める。□ には π の 前の 数を 書く
・文の 問題は 正しければ ○、まちがいなら × を □ に 書く

① 円柱の 上に 同じ 半径の 半球を のせた 立体の 体積は？

63 π cm³

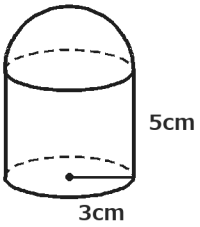

円柱 $\pi\times3^2\times5=45\pi$、半球 $\frac{4}{3}\times\pi\times3^3\div2=18\pi$。合わせて 63π

② 円柱の 上に 同じ 半径の 半球を のせた 立体の 体積は？

36 π cm³

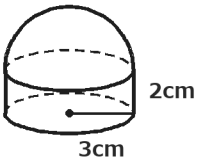

円柱 $\pi\times3^2\times2=18\pi$、半球 $\frac{4}{3}\times\pi\times3^3\div2=18\pi$。合わせて 36π

③ 底面の 半径 6cm、高さ 5cm の 円柱から、同じ 底面・高さの 円錐を くりぬいた 立体の 体積は？

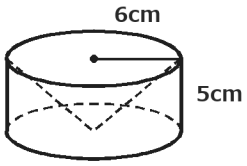

120 π cm³

円柱 180π、円錐 60π。$180\pi-60\pi=120\pi$（円柱の $\frac{2}{3}$）

④ 円柱の 上に、同じ 底面の 円錐を のせた 立体の 体積は？

36 π cm³

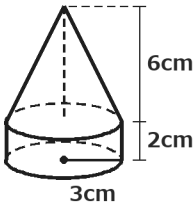

円錐 $\frac{1}{3}\times\pi\times3^2\times6=18\pi$、円柱 $\pi\times3^2\times2=18\pi$。合わせて 36π（円錐に $\frac{1}{3}$ を 忘れると ×）

⑤ 円柱の 上に、同じ 底面の 円錐を のせた 立体の 体積は？

66 π cm³

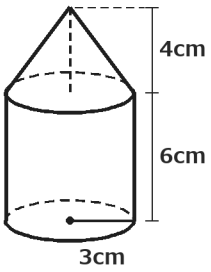

円錐 $\frac{1}{3}\times\pi\times3^2\times4=12\pi$、円柱 $\pi\times3^2\times6=54\pi$。合わせて 66π（円錐に $\frac{1}{3}$ を 忘れると ×）

⑥ 円柱の 上に、同じ 底面の 円錐を のせた 立体の 体積は？

20 π cm³

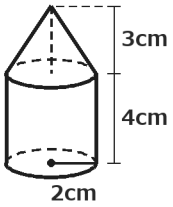

円錐 $\frac{1}{3}\times\pi\times2^2\times3=4\pi$、円柱 $\pi\times2^2\times4=16\pi$。合わせて 20π（円錐に $\frac{1}{3}$ を 忘れると ×）

⑦ 半径 3cm の 球が ちょうど 入る 円柱（高さ 6cm）と、同じ 底面・高さの 円錐。体積は？

円錐 **18** π cm³

球 **36** π cm³

円柱 **54** π cm³

円錐 18π、球 36π、円柱 54π。円錐：球：円柱＝1：2：3

⑧ 球の 体積は、ちょうど 入る 円柱の 体積の $\frac{1}{3}$ で ある。 **×**

×。$\frac{2}{3}$。$\frac{1}{3}$ なのは 円錐

⑨ 円錐の 体積は、同じ 底面・高さの 円柱の 体積の $\frac{1}{3}$ で ある。 **○**

○。円柱 $\pi\times r^2\times h$ の $\frac{1}{3}$ が 円錐

丸つけ π の 前の 数で 見る。部分ごとに 合って いれば 途中点を あげて よい

いちごドリル プリント

体積と 球 まとめの ドリル⑤

なまえ ＿＿＿＿＿＿＿＿

中1 空間図形／ドリル⑤ 7問／目標 15分

ひづけ ＿＿＿＿＿＿ /25

・ヒントなしで 解く。□ に 数を 書く。□π は π の 前の 数
・問いが 「体積」か 「表面積」かを 見てから 計算する

① 三角錐 P-OAB。底面は
4点 ∠AOB＝90°の 三角形で
OA＝9cm、 OB＝4cm。
PO は 底面に 垂直で
PO＝5cm。 体積は？

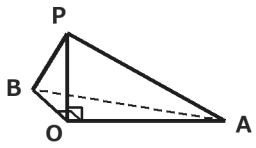

＿＿＿＿ cm³

② 底面の 半径 5cm、高さ 9cm の
4点 円錐の 体積は？

＿＿＿＿ π cm³

③ 半径 6cm の 半球の 体積は？
3点

＿＿＿＿ π cm³

④ 円柱の 体積は？
4点

＿＿＿＿ π cm³

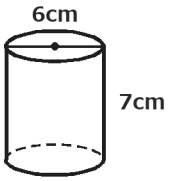

⑤ 円柱の 上に、同じ 底面の
4点 円錐を
のせた 立体の 体積は？

＿＿＿＿ π cm³

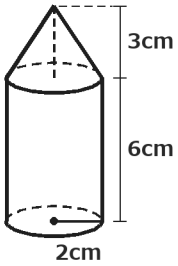

⑥ 半径 5cm の 球の 表面積は？
3点

＿＿＿＿ π cm²

⑦ 半径 2cm の 半球の 表面積は？
3点

＿＿＿＿ π cm²

いちごドリル プリント

つづきの無料プリント
「空間図形」のプリント一覧がひらきます

体積と 球 まとめの ドリル⑤【こたえ】

なまえ ＿＿＿＿＿＿＿＿

中1 空間図形／ドリル⑤ 7問／目標 15分

ひづけ ＿＿＿＿＿＿ /25

・ヒントなしで 解く。□ に 数を 書く。□π は π の 前の 数
・問いが 「体積」か 「表面積」かを 見てから 計算する

① 三角錐 P-OAB。底面は
4点 ∠AOB＝90°の 三角形で
OA＝9cm、 OB＝4cm。
PO は 底面に 垂直で
PO＝5cm。 体積は？

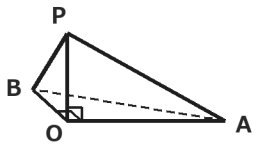

30 cm³

底面 9×4÷2＝18。$\frac{1}{3}$×18×5＝30（$\frac{1}{3}$ を 忘れると 90 で ×）

② 底面の 半径 5cm、高さ 9cm の
4点 円錐の 体積は？

75 π cm³

$\frac{1}{3}$×π×5²×9＝75π

③ 半径 6cm の 半球の 体積は？
3点

144 π cm³

$\frac{4}{3}$×π×6³÷2＝144π

④ 円柱の 体積は？
4点

63 π cm³

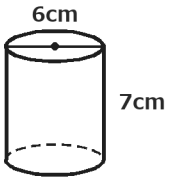

半径 3。π×3²×7＝63π

⑤ 円柱の 上に、同じ 底面の
4点 円錐を
のせた 立体の 体積は？

28 π cm³

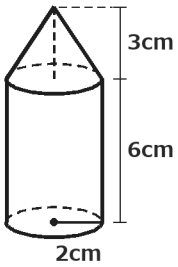

円柱 π×2²×6＝24π、円錐 $\frac{1}{3}$×π×2²×3＝4π。24π+4π＝28π

⑥ 半径 5cm の 球の 表面積は？
3点

100 π cm²

4×π×5²＝100π

⑦ 半径 2cm の 半球の 表面積は？
3点

12 π cm²

曲面 4×π×2²÷2＝8π、底 π×2²＝4π。8π+4π＝12π

丸つけ ①②④⑤は 4点、ほかは 3点。π の 前の 数で 見る

いちごドリル プリント