展開図で 表面積 ドリル③

中1 空間図形／ドリル③ 5問／目標 15分

なまえ ＿＿＿＿＿＿＿＿

ひづけ ＿＿＿＿＿＿＿＿

・展開図の 面を 1つずつ 求めて、表面積に まとめる
・□π は π の 前の 数を 書く。図は 測らず 書いてある 長さで

① 円柱の 展開図。それぞれ 求める。

底面 1つ □ π cm² 側面の 横 □ π cm

側面積 □ π cm² 表面積 □ π cm²

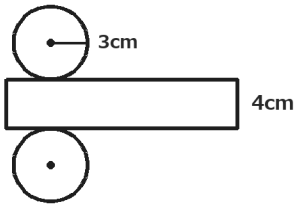

② 円柱の 展開図。それぞれ 求める。

底面 1つ □ π cm² 側面の 横 □ π cm

側面積 □ π cm² 表面積 □ π cm²

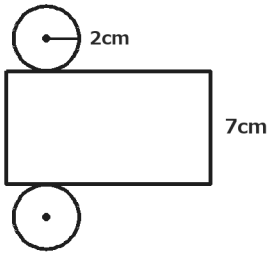

③ 円錐の 展開図。それぞれ 求める。

底面積 □ π cm² 弧の 長さ □ π cm

側面積 □ π cm² 表面積 □ π cm²

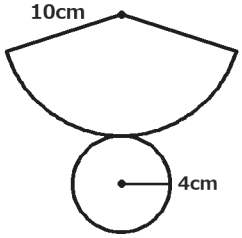

④ 円錐の 展開図。それぞれ 求める。

底面積 □ π cm² 弧の 長さ □ π cm

側面積 □ π cm² 表面積 □ π cm²

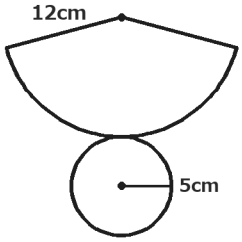

⑤ 底面の 1辺 10cm の 正四角錐の 展開図。それぞれ 求める。

底面積 □ cm² 三角形 1つ □ cm²

側面積 □ cm² 表面積 □ cm²

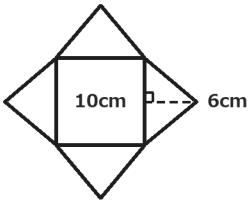

いちごドリル プリント

つづきの無料プリント
「空間図形」のプリント一覧がひらきます