柱と 錐の 表面積

なまえ ＿＿＿＿＿＿＿＿

中1 空間図形／解き方プリント 4問／目標 15分

ひづけ ＿＿＿＿＿＿＿＿

きまり

① 表面積＝すべての 面の 面積の 和。柱は 底面積×2+側面積。側面は 横の 長さが 底面の 周の 長方形。
② 錐は 底面積+側面積（底面は 1つ）。正四角錐の 側面は 三角形 4つ（1つは 底辺×高さ÷2）。
③ 円柱の 側面の 横＝底面の 円周（2×π×半径）。円錐の 側面積＝π×母線×半径（母線を 半径と する おうぎ形）。

・表面積を、底面積と 側面積に 分けて 求める。□π は π の 前の 数を 書く
・こまったら 各問の 下の 「ヒント」と、いちばん 上の 「きまり」を 見る

① 底面が 直角三角形（3辺 6cm・8cm・10cm）の 三角柱の 表面積。

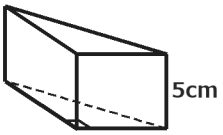

底面 1つ ＿＿＿＿ cm²

側面積 ＿＿＿＿ cm²

表面積 ＿＿＿＿ cm²

ヒント 底面は 上と 下の 2つ

② 底面の 1辺 4cm の 正四角錐の 展開図。表面積は？



底面積 ＿＿＿＿ cm²

側面積 ＿＿＿＿ cm²

表面積 ＿＿＿＿ cm²

ヒント 三角形は ÷2 を 忘れない

③ 円柱の 表面積。

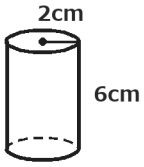

底面積 ＿＿＿＿ π cm²

側面の 横 ＿＿＿＿ π cm

側面積 ＿＿＿＿ π cm²

表面積 ＿＿＿＿ π cm²

ヒント 側面の 横＝底面の 円周

④ 円錐の 表面積。

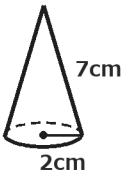

底面積 ＿＿＿＿ π cm²

側面積 ＿＿＿＿ π cm²

表面積 ＿＿＿＿ π cm²

ヒント 側面積＝π×母線×半径

いちごドリル プリント

つづきの無料プリント
「空間図形」のプリント一覧がひらきます

柱と 錐の 表面積【こたえ】

なまえ ＿＿＿＿＿＿＿＿

中1 空間図形／解き方プリント 4問／目標 15分

ひづけ ＿＿＿＿＿＿＿＿

きまり

① 表面積＝すべての 面の 面積の 和。柱は 底面積×2+側面積。側面は 横の 長さが 底面の 周の 長方形。
② 錐は 底面積+側面積（底面は 1つ）。正四角錐の 側面は 三角形 4つ（1つは 底辺×高さ÷2）。
③ 円柱の 側面の 横＝底面の 円周（2×π×半径）。円錐の 側面積＝π×母線×半径（母線を 半径と する おうぎ形）。

・表面積を、底面積と 側面積に 分けて 求める。□π は π の 前の 数を 書く
・こまったら 各問の 下の 「ヒント」と、いちばん 上の 「きまり」を 見る

① 底面が 直角三角形（3辺 6cm・8cm・10cm）の 三角柱の 表面積。

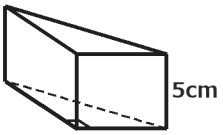

底面 1つ **24** cm²

側面積 **120** cm²

表面積 **168** cm²

底面 6×8÷2＝24 が 2つで 48。側面 (6+8+10)×5＝120。48+120＝168（底面1つ だと 144 で ×）

② 底面の 1辺 4cm の 正四角錐の 展開図。表面積は？



底面積 **16** cm²

側面積 **48** cm²

表面積 **64** cm²

底面 4×4＝16。三角形 4×6÷2＝12 が 4つで 48。16+48＝64

③ 円柱の 表面積。

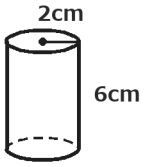

底面積 **4** π cm²

側面の 横 **4** π cm

側面積 **24** π cm²

表面積 **32** π cm²

横 2×π×2＝4π。側面 4π×6＝24π。底面 π×2²×2＝8π。合わせて 32π

④ 円錐の 表面積。

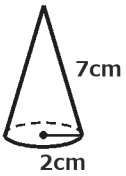

底面積 **4** π cm²

側面積 **14** π cm²

表面積 **18** π cm²

底面 π×2²＝4π。側面 π×7×2＝14π（π×7²＝49π は ×）。合わせて 18π

丸つけ π の 前の 数で 見る（32π と 書いても ○）

いちごドリル プリント

柱の 表面積 ドリル①

中1 空間図形／ドリル① 6問／目標 12分

なまえ ＿＿＿＿＿＿＿＿

ひづけ ＿＿＿＿＿＿＿＿

・右の 角柱・円柱の 表面積（全部の 面の 面積の 和）を □ に 書く
・円柱の 答えは π の 前の 数だけ。図は 測らず 書いてある 長さで

① 直方体の 表面積は？

□ cm^2

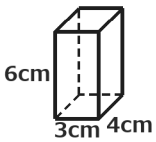

② 円柱の 表面積は？

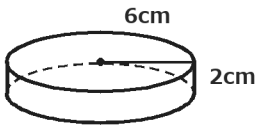

□ π cm^2

③ 円柱の 表面積は？

□ π cm^2

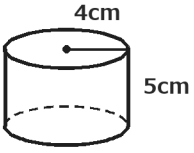

④ 底面が 直角三角形（3辺 5cm・12cm・13cm）の 三角柱の 表面積は？

□ cm^2

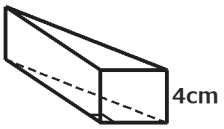

⑤ 円柱の 表面積は？

□ π cm^2

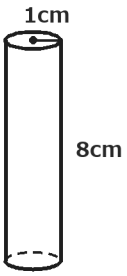

⑥ 円柱の 表面積は？

□ π cm^2

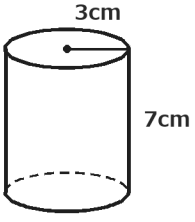

いちごドリル プリント

つづきの無料プリント
「空間図形」のプリント一覧がひらきます

柱の 表面積 ドリル①【こたえ】

中1 空間図形／ドリル① 6問／目標 12分

なまえ ＿＿＿＿＿＿＿＿

ひづけ ＿＿＿＿＿＿＿＿

・右の 角柱・円柱の 表面積（全部の 面の 面積の 和）を □ に 書く
・円柱の 答えは π の 前の 数だけ。図は 測らず 書いてある 長さで

① 直方体の 表面積は？

108 cm²

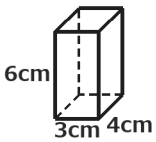

底面 3×4＝12 が 2つ で 24。側面
(3+4)×2×6＝84。合わせて 108

② 円柱の 表面積は？

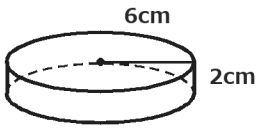

96 π cm²

底面 π×6²×2＝72π。側面 2×π×6×2＝24π。合わせて 96π

③ 円柱の 表面積は？

72 π cm²

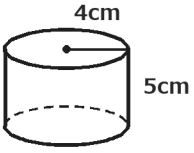

底面 π×4²×2＝32π。側面 2×π×4×5＝40π。合わせて 72π

④ 底面が 直角三角形（3辺 5cm・12cm・13cm）の 三角柱の 表面積は？

180 cm²

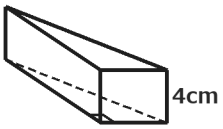

底面 5×12÷2＝30 が 2つ で 60。側面
(5+12+13)×4＝120。合わせて 180

⑤ 円柱の 表面積は？

18 π cm²

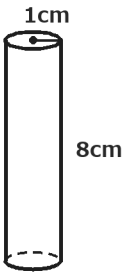

底面 π×1²×2＝2π。側面 2×π×1×8＝16π。合わせて 18π

⑥ 円柱の 表面積は？

60 π cm²

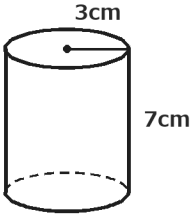

底面 π×3²×2＝18π。側面 2×π×3×7＝42π。合わせて 60π

丸つけ 底面は 2つ。円柱の 側面の 横は 2×π×半径

いちごドリル プリント

錐の 表面積 ドリル②

なまえ ＿＿＿＿＿＿＿＿

中1 空間図形／ドリル② 5問／目標 12分

ひづけ ＿＿＿＿＿＿＿＿

・正四角錐は 展開図、円錐は 見取図を 見て 表面積を 出す
・円錐の 答えは π の 前の 数。底面と 側面を 足した 数を 書く

① 底面の 1辺 6cm の 正四角錐の 展開図。
表面積は？

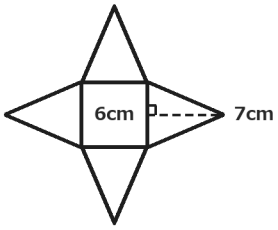

□ cm²

② 円錐の 表面積は？

□ π cm²

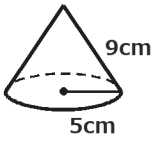

③ 円錐の 表面積は？

□ π cm²

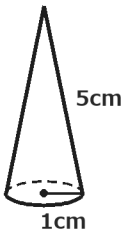

④ 底面の 1辺 10cm の 正四角錐の 展開図。
表面積は？

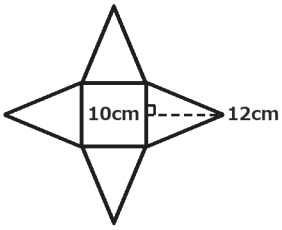

□ cm²

⑤ 円錐の 表面積は？

□ π cm²

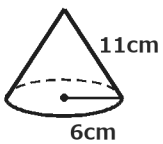

いちごドリル プリント

つづきの無料プリント
「空間図形」のプリント一覧がひらきます

錐の 表面積 ドリル②【こたえ】

中1 空間図形／ドリル② 5問／目標 12分

なまえ ＿＿＿＿＿＿＿＿

ひづけ ＿＿＿＿＿＿＿＿

・正四角錐は 展開図、円錐は 見取図を 見て 表面積を 出す
・円錐の 答えは π の 前の 数。底面と 側面を 足した 数を 書く

① 底面の 1辺 6cm の 正四角錐の 展開図。表面積は？

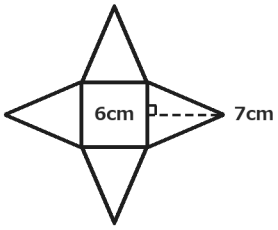

120 cm²

底面 6×6＝36。三角形 6×7÷2 が 4つで 84。合わせて 120（÷2 を 忘れると ×）

② 円錐の 表面積は？

70 π cm²

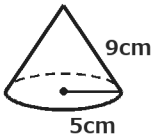

底面 π×5²＝25π。側面 π×9×5＝45π（π×9² は ×）。合わせて 70π

③ 円錐の 表面積は？

6 π cm²

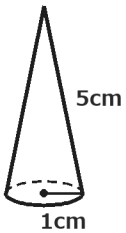

底面 π×1²＝1π。側面 π×5×1＝5π（π×5² は ×）。合わせて 6π

④ 底面の 1辺 10cm の 正四角錐の 展開図。表面積は？

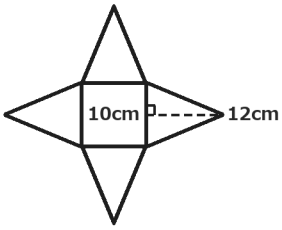

340 cm²

底面 10×10＝100。三角形 10×12÷2 が 4つで 240。合わせて 340（÷2 を 忘れると ×）

⑤ 円錐の 表面積は？

102 π cm²

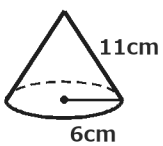

底面 π×6²＝36π。側面 π×11×6＝66π（π×11² は ×）。合わせて 102π

丸つけ 錐の 底面は 1つ。円錐の 側面積＝π×母線×半径

いちごドリル プリント

展開図で 表面積 ドリル③

中1 空間図形／ドリル③ 5問／目標 15分

なまえ ＿＿＿＿＿＿＿＿

ひづけ ＿＿＿＿＿＿＿＿

・展開図の 面を 1つずつ 求めて、表面積に まとめる
・□π は π の 前の 数を 書く。図は 測らず 書いてある 長さで

① 円柱の 展開図。それぞれ 求める。

底面 1つ □ π cm² 側面の 横 □ π cm

側面積 □ π cm² 表面積 □ π cm²

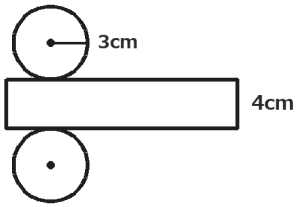

② 円柱の 展開図。それぞれ 求める。

底面 1つ □ π cm² 側面の 横 □ π cm

側面積 □ π cm² 表面積 □ π cm²

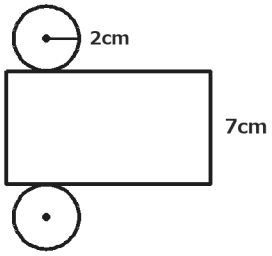

③ 円錐の 展開図。それぞれ 求める。

底面積 □ π cm² 弧の 長さ □ π cm

側面積 □ π cm² 表面積 □ π cm²

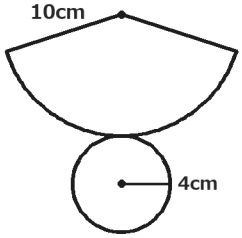

④ 円錐の 展開図。それぞれ 求める。

底面積 □ π cm² 弧の 長さ □ π cm

側面積 □ π cm² 表面積 □ π cm²

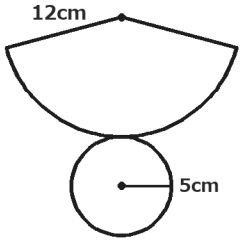

⑤ 底面の 1辺 10cm の 正四角錐の 展開図。それぞれ 求める。

底面積 □ cm² 三角形 1つ □ cm²

側面積 □ cm² 表面積 □ cm²

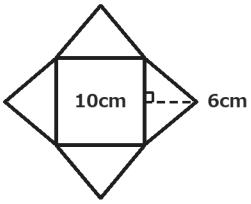

いちごドリル プリント

つづきの無料プリント
「空間図形」のプリント一覧がひらきます

展開図で 表面積 ドリル③【こたえ】

なまえ ＿＿＿＿＿＿＿＿

中1 空間図形／ドリル③ 5問／目標 15分

ひづけ ＿＿＿＿＿＿＿＿

・展開図の 面を 1つずつ 求めて、表面積に まとめる
・□π は π の 前の 数を 書く。図は 測らず 書いてある 長さで

① 円柱の 展開図。それぞれ 求める。

底面 1つ **9** π cm² 側面の 横 **6** π cm

側面積 **24** π cm² 表面積 **42** π cm²

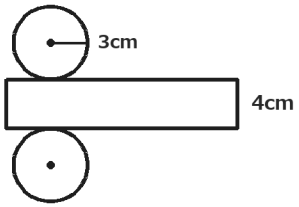

底面 π×3²＝9π。横は 円周 2×π×3＝6π。側面 6π×4＝24π。表面積 9π×2+24π＝42π

② 円柱の 展開図。それぞれ 求める。

底面 1つ **4** π cm² 側面の 横 **4** π cm

側面積 **28** π cm² 表面積 **36** π cm²

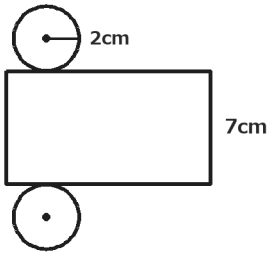

底面 π×2²＝4π。横は 円周 2×π×2＝4π。側面 4π×7＝28π。表面積 4π×2+28π＝36π

③ 円錐の 展開図。それぞれ 求める。

底面積 **16** π cm² 弧の 長さ **8** π cm

側面積 **40** π cm² 表面積 **56** π cm²

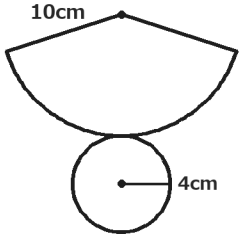

底面 π×4²＝16π。弧＝底面の 円周 2×π×4＝8π。側面 π×10×4＝40π。合わせて 56π

④ 円錐の 展開図。それぞれ 求める。

底面積 **25** π cm² 弧の 長さ **10** π cm

側面積 **60** π cm² 表面積 **85** π cm²

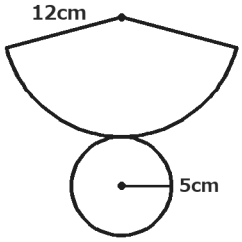

底面 π×5²＝25π。弧＝底面の 円周 2×π×5＝10π。側面 π×12×5＝60π。合わせて 85π

⑤ 底面の 1辺 10cm の 正四角錐の 展開図。それぞれ 求める。

底面積 **100** cm² 三角形 1つ **30** cm²

側面積 **120** cm² 表面積 **220** cm²

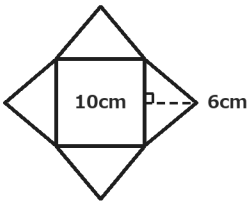

三角形 10×6÷2＝30 が 4つで 120。底面 10×10＝100。合わせて 220

丸つけ 円柱の 側面の 横と 円錐の 弧の 長さは、どちらも 底面の 円周

いちごドリル プリント

表面積の まちがい直し ドリル④

中1 空間図形／ドリル④ 8問／目標 20分

なまえ ＿＿＿＿＿＿＿＿

ひづけ ＿＿＿＿＿＿＿＿

・友だちの 答えの まちがいを 見つけて、正しい 答えを □ に 書く
・□π は π の 前の 数。単位は 書いて ある ものを 使う

① Aさん「半径 2cm、高さ 9cm の 円柱の 側面積は、横が π×2 で 2π×9＝18π」。正しい 側面積と 表面積は？

側面積 □ π cm²

表面積 □ π cm²

② Bさん「底面が 9cm・12cm・15cm の 直角三角形、高さ 2cm の 三角柱の 表面積は、54+36×2＝126cm²」。正しい 表面積は？

□ cm²

③ Fさん「縦 3cm・横 4cm・高さ 5cm の 直方体の 表面積は、3×4+4×5+3×5＝47cm²」。正しい 表面積は？

□ cm²

④ Gさん「半径 4cm・高さ 3cm の 円柱の 表面積は、16π+24π＝40π」。正しい 表面積は？

□ π cm²

⑤ Dさん「底面 1辺 6cm、側面の 三角形の 高さ 4cm の 正四角錐の 表面積は、36+6×4×4＝132cm²」。正しい 表面積は？

□ cm²

⑥ Hさん「底面 1辺 8cm、側面の 三角形の 高さ 5cm の 正四角錐の 表面積は、8×8+8×5＝104cm²」。正しい 表面積は？

□ cm²

⑦ Eさん「底面の 半径 3cm、母線 7cm の 円錐の 側面積は、π×7²＝49π」。正しい 側面積と 表面積は？

側面積 □ π cm²

表面積 □ π cm²

⑧ Cさん「表面積 0.5m² は、×100 で 50cm²」。正しくは 何cm²？

□ cm²

いちごドリル プリント

つづきの無料プリント
「空間図形」のプリント一覧がひらきます

表面積の まちがい直し ドリル④【こたえ】

中1 空間図形／ドリル④ 8問／目標 20分

なまえ ＿＿＿＿＿＿＿＿

ひづけ ＿＿＿＿＿＿＿＿

・友だちの 答えの まちがいを 見つけて、正しい 答えを □ に 書く
・□π は π の 前の 数。単位は 書いて ある ものを 使う

① Aさん「半径 2cm、高さ 9cm の 円柱の 側面積は、横が π×2 で 2π×9＝18π」。正しい 側面積と 表面積は？

側面積 **36** π cm²

表面積 **44** π cm²

横は 円周 2×π×2＝4π。側面 4π×9＝36π。底面 π×2²×2＝8π。表面積 8π+36π＝44π

② Bさん「底面が 9cm・12cm・15cm の 直角三角形、高さ 2cm の 三角柱の 表面積は、54+36×2＝126cm²」。正しい 表面積は？

180 cm²

底面 9×12÷2＝54 が 2つ。54×2+(9+12+15)×2＝108+72＝180

③ Fさん「縦 3cm・横 4cm・高さ 5cm の 直方体の 表面積は、3×4+4×5+3×5＝47cm²」。正しい 表面積は？

94 cm²

向かい合う 面が 2つずつ ある ので 2倍。2×(12+20+15)＝94（47 は 半分）

④ Gさん「半径 4cm・高さ 3cm の 円柱の 表面積は、16π+24π＝40π」。正しい 表面積は？

56 π cm²

底面は 上と 下の 2つ。16π×2+24π＝56π（40π は 底面を 1つしか 足して いない）

⑤ Dさん「底面 1辺 6cm、側面の 三角形の 高さ 4cm の 正四角錐の 表面積は、36+6×4×4＝132cm²」。正しい 表面積は？

84 cm²

三角形は 6×4÷2＝12。36+12×4＝84（÷2 を 忘れると 132で ×）

⑥ Hさん「底面 1辺 8cm、側面の 三角形の 高さ 5cm の 正四角錐の 表面積は、8×8+8×5＝104cm²」。正しい 表面積は？

144 cm²

三角形は 8×5÷2＝20 が 4つで 80。64+80＝144（104 は 三角形 1つ分を ÷2 しないで 足した もの）

⑦ Eさん「底面の 半径 3cm、母線 7cm の 円錐の 側面積は、π×7²＝49π」。正しい 側面積と 表面積は？

側面積 **21** π cm²

表面積 **30** π cm²

側面積は π×母線×半径＝π×7×3＝21π。底面 π×3²＝9π。表面積 21π+9π＝30π（π×7² は 母線を 半径に して いる）

⑧ Cさん「表面積 0.5m² は、×100 で 50cm²」。正しくは 何cm²？

5000 cm²

面積は ×10000。0.5×10000＝5000cm²

丸つけ 面積の 単位は 1m²＝10000cm²（長さの ×100 を 2回）。πの 前の 数で 見る

いちごドリル プリント

表面積 まとめの ドリル⑤

中1 空間図形／ドリル⑤ 7問／目標 15分

なまえ ＿＿＿＿＿＿＿＿

ひづけ ＿＿＿＿＿＿＿＿ /25

・ヒントなしで 解く。答えを □ に 書く。□π は π の 前の 数
・文の 問題は 正しければ ○、まちがいなら × を □ に 書く

① 底面が 直角三角形（3辺 8cm・15cm・17cm）の 三角柱の 表面積は？
4点

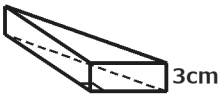

□ cm²

② 底面 1辺 12cm、側面の 三角形の 高さ 10cm の 正四角錐の 表面積は？
4点

□ cm²

③ 半径 7cm の 円柱の 展開図で、側面の 長方形の 横の 長さは？
3点

□ π cm

④ 円柱の 表面積は？
4点

□ π cm²

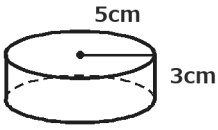

⑤ 円錐の 表面積は？
4点

□ π cm²

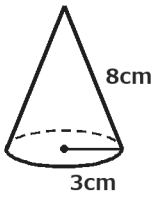

⑥ 4m² は 何cm²？
3点

□ cm²

⑦ 円錐の 側面積は、母線を 半径と する 円の 面積と 同じ。
3点

□

いちごドリル プリント

つづきの無料プリント
「空間図形」のプリント一覧がひらきます

表面積 まとめの ドリル⑤【こたえ】

中1 空間図形／ドリル⑤ 7問／目標 15分

なまえ ＿＿＿＿＿＿＿＿

ひづけ ＿＿＿＿＿＿ /25

・ヒントなしで 解く。答えを □ に 書く。□π は π の 前の 数
・文の 問題は 正しければ ○、まちがいなら × を □ に 書く

① 底面が 直角三角形（3辺 8cm・15cm・17cm）の 三角柱の 表面積は？ 4点

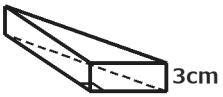

240 cm²

底面 8×15÷2＝60 が 2つ。60×2+(8+15+17)×3＝120+120＝240

② 底面 1辺 12cm、側面の 三角形の 高さ 10cm の 正四角錐の 表面積は？ 4点

384 cm²

底面 12×12＝144。144+12×10÷2×4＝144+240＝384

③ 半径 7cm の 円柱の 展開図で、側面の 長方形の 横の 長さは？ 3点

14 π cm

横＝底面の 円周＝2×π×7＝14π

④ 円柱の 表面積は？ 4点

80 π cm²

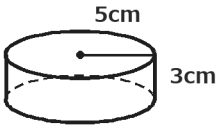

底面 π×5²×2＝50π。側面 2×π×5×3＝30π。合わせて 80π

⑤ 円錐の 表面積は？ 4点

33 π cm²

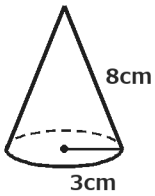

底面 π×3²＝9π、側面 π×8×3＝24π。9π+24π＝33π

⑥ 4m² は 何cm²？ 3点

40000 cm²

1m²＝10000cm²。4×10000＝40000

⑦ 円錐の 側面積は、母線を 半径と する 円の 面積と 同じ。 3点

×

×。側面は その 円の 一部（おうぎ形）。π×母線×半径

丸つけ ①②④⑤は 4点、③⑥⑦は 3点。π の 前の 数で 見る

いちごドリル プリント