重なる 点と 辺 ドリル②

なまえ ＿＿＿＿＿＿＿＿

中1 空間図形／ドリル② 8問／目標 20分

ひづけ ＿＿＿＿＿＿＿＿

・展開図を 組み立てた ときに 重なる 点・辺、さいころの 目を 答える
・点や 辺は 図の アルファベットで 書く。重なる 点が 2つ あれば 両方

① 組み立てた ときに、点B と 重なる 点を 全部 書く。

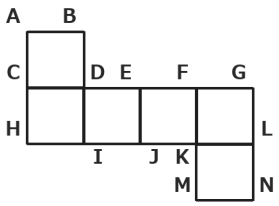

② 組み立てた ときに、点G と 重なる 点を 全部 書く。

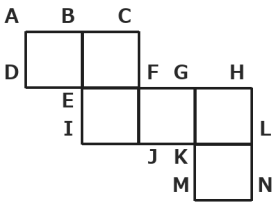

③ 組み立てた ときに、辺AB と 重なる 辺は？

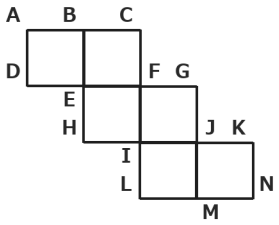

辺 ＿＿＿＿

④ 組み立てた ときに、辺CD と 重なる 辺は？

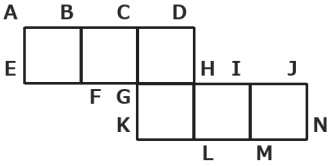

辺 ＿＿＿＿

⑤ 組み立てた ときに、点H と 重なる 点を 全部 書く。

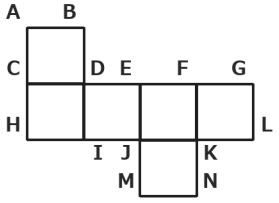

⑥ 組み立てた ときに、点K と 重なる 点を 全部 書く。

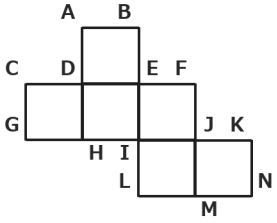

⑦ さいころ（向かい合う 面の 目の 和が 7）の 展開図。ア・イ・ウ の 目は？

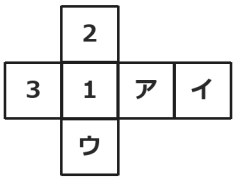

ア ＿＿＿＿ イ ＿＿＿＿ ウ ＿＿＿＿

⑧ さいころ（向かい合う 面の 目の 和が 7）の 展開図。ア・イ・ウ の 目は？

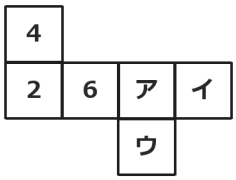

ア ＿＿＿＿ イ ＿＿＿＿ ウ ＿＿＿＿

いちごドリル プリント

つづきの無料プリント
「空間図形」のプリント一覧がひらきます