回転体と 投影図

中1 空間図形／解き方プリント 6問／目標 15分

なまえ ＿＿＿＿＿＿＿＿

ひづけ ＿＿＿＿＿＿＿＿

きまり

① 回転体は、軸に した 辺が 高さ。軸から いちばん 遠い 点までの 長さが 半径（直径 では ない）。
② 軸から 離れた 図形を 回すと、中が 空いた 立体。体積＝外の 円柱－中の 空き。
③ 円錐の 体積＝$\frac{1}{3}$×底面積×高さ。高さは 底面に 垂直な 長さで、斜めの 母線 では ない。
④ 投影図は 立面図（正面から）と 平面図（真上から）を 両方 見て 立体を 決める。

・図形を 直線ℓ の まわりに 1回転 させて できる 立体を 考える。□π は π の 前の 数を 書く
・ア・イ… は 正しい ものを 1つ ○ で かこむ。こまったら 各問の 下の 「ヒント」と、いちばん 上の 「きまり」を 見る

① **長方形を 直線ℓ を 軸に 1回転 させる。**

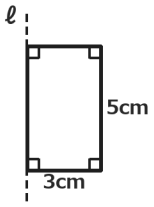

半径 ＿＿＿＿ cm

高さ ＿＿＿＿ cm

体積 ＿＿＿＿ π cm³

ヒント 軸から はしまでが 半径

② **軸から 2cm 離れた 長方形を 1回転 させる。**

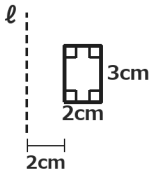

外側 ＿＿＿＿ π cm³

空き ＿＿＿＿ π cm³

体積 ＿＿＿＿ π cm³

ヒント 外の 半径は 2+2＝4cm

③ **直角三角形を 直線ℓ を 軸に 1回転 させる。**

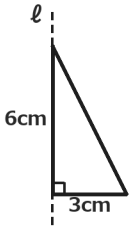

半径 ＿＿＿＿ cm

高さ ＿＿＿＿ cm

体積 ＿＿＿＿ π cm³

ヒント 軸に した 辺が 高さ

④ **右は 円錐の 投影図。この 円錐の 体積は？**

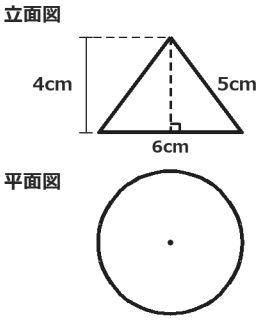

高さ ＿＿＿＿ cm

体積 ＿＿＿＿ π cm³

ヒント 高さは 点線の 長さ

⑤ **右の 投影図で 表される 立体は？**

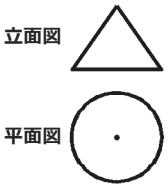

ア 三角錐

イ 円錐

ウ 四角錐

ヒント 平面図も 見る

⑥ **右の 投影図で 表される 立体は？**

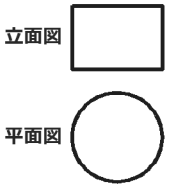

ア 四角柱

イ 三角柱

ウ 円柱

ヒント 立面図 だけで 決めない

いちごドリル プリント

つづきの無料プリント
「空間図形」のプリント一覧がひらきます