# 中が 空いた 回転体 ドリル②

なまえ ＿＿＿＿＿＿＿＿

中1 空間図形／ドリル② 6問／目標 15分

ひづけ ＿＿＿＿＿＿＿＿

・軸から離れた 図形や、段のある 図形を、直線ℓの まわりに 1回転させる
・□には πの前の数を 書く。ア・イ…は ○で かこむ

① 右の 長方形を 直線ℓ を 軸に 1回転 させて できる 立体は？

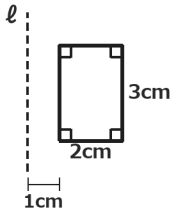


ア 円柱

イ 中が 空いた 円柱

ウ 円錐

② 図形を 直線ℓ を 軸に 1回転 させた 立体の 体積は？

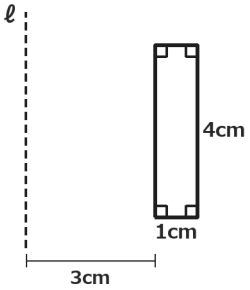


□ π cm³

③ 図形を 直線ℓ を 軸に 1回転 させた 立体の 体積は？

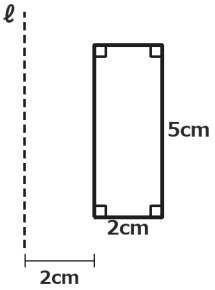


□ π cm³

④ 図形を 直線ℓ を 軸に 1回転 させた 立体の 体積は？

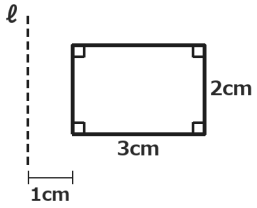


□ π cm³

⑤ 図形を 直線ℓ を 軸に 1回転 させた 立体の 体積は？

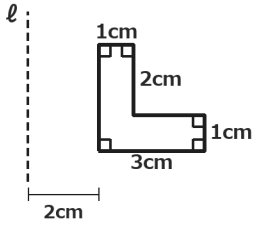


□ π cm³

⑥ 図形を 直線ℓ を 軸に 1回転 させた 立体の 体積は？

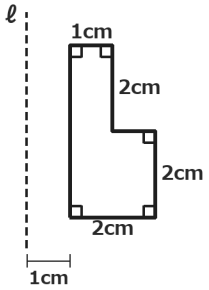


□ π cm³


いちごドリル プリント

つづきの無料プリント
「空間図形」のプリント一覧がひらきます

# 中が 空いた 回転体 ドリル②【こたえ】

なまえ ＿＿＿＿＿＿＿＿

中1 空間図形／ドリル② 6問／目標 15分

ひづけ ＿＿＿＿＿＿＿＿

・軸から離れた 図形や、段のある 図形を、直線ℓの まわりに 1回転させる
・□には πの前の数を 書く。ア・イ…は ○で かこむ

① 右の 長方形を 直線ℓ を 軸に 1回転 させて できる 立体は？

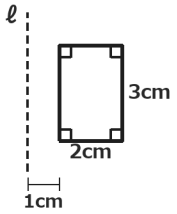


ア 円柱

(イ) 中が 空いた 円柱

ウ 円錐

軸と 長方形の 間の 1cm が、中の 空き（穴）に なる

② 図形を 直線ℓ を 軸に 1回転 させた 立体の 体積は？

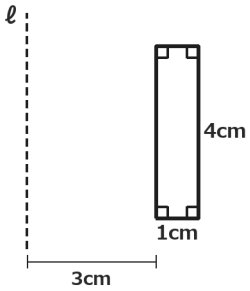


**28** π cm³

外 π×4²×4＝64π、空き π×3²×4＝36π。64π−36π＝28π

③ 図形を 直線ℓ を 軸に 1回転 させた 立体の 体積は？

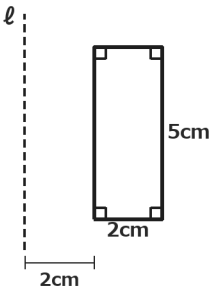


**60** π cm³

外 π×4²×5＝80π、空き π×2²×5＝20π。80π−20π＝60π

④ 図形を 直線ℓ を 軸に 1回転 させた 立体の 体積は？

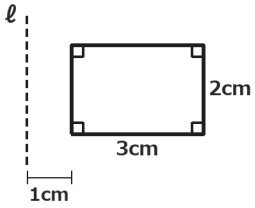


**30** π cm³

外 π×4²×2＝32π、空き π×1²×2＝2π。32π−2π＝30π

⑤ 図形を 直線ℓ を 軸に 1回転 させた 立体の 体積は？

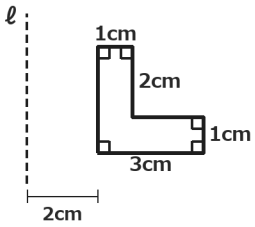


**31** π cm³

下 π×(5²−2²)×1＝21π、上 π×(3²−2²)×2＝10π。合わせて 31π

⑥ 図形を 直線ℓ を 軸に 1回転 させた 立体の 体積は？

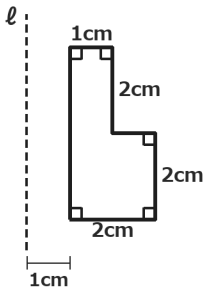


**22** π cm³

下 π×(3²−1²)×2＝16π、上 π×(2²−1²)×2＝6π。合わせて 22π

丸つけ π の 前の 数で 見る。中の 空きを ひいて いれば 途中点を あげて よい

いちごドリル プリント