立体の 面・辺・頂点

中1 空間図形／解き方プリント 10問／目標 15分

なまえ ＿＿＿＿＿＿＿＿

ひづけ ＿＿＿＿＿＿＿＿

きまり① 柱と 錐

まず 柱か 錐かを 決める。柱は 底面が 2つ。錐は 底面が 1つで、てっぺんにも 頂点が ある。

	面	辺	頂点
れい 四角柱	4+2=6	4×3=12	4×2=8
れい 四角錐	4+1=5	4×2=8	4+1=5

きまり② 正多面体

面が すべて 合同な 正多角形で、どの 頂点にも 同じ 数の 面が 集まる 立体。

辺の 数＝面の 数×1つの 面の 辺の 数÷2

頂点の 数＝面の 数×1つの 面の 頂点の 数÷1つの 頂点に 集まる 面の 数

れい 正六面体の 辺 (6×4)÷2=12

・答えを □ に 書く。ア・イ… の 問題は 正しい ものを ○ で かこむ（2つ 以上 あるときは 全部）

・点線は 見えない 辺。こまったら 各問の 下の 「ヒント」と、いちばん 上の 「きまり」を 見る

① **六角柱の 面・辺・頂点の 数は？**

面 □

辺 □

頂点 □

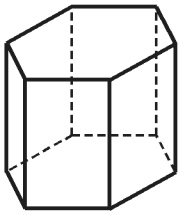

ヒント 底面は 上と 下の 2つ

② **六角錐の 面・辺・頂点の 数は？**

面 □

辺 □

頂点 □

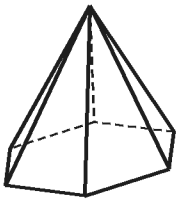

ヒント てっぺんの 頂点も 数える

③ **面が 10 ある 角錐の 名前は？** □ 角錐

ヒント 面＝底面 1つ+側面

④ **頂点が 16 の 角柱の 名前は？** □ 角柱

ヒント 上と 下の 底面に 同じ 数ずつ

⑤ **多面体を 全部 えらぶ。**

ア 三角柱　イ 円柱　ウ 球

エ 四角錐　オ 正八面体　カ 円錐

ヒント 曲面が ある 立体は 多面体では ない

⑥ **正六角形だけの 正多面体が ない わけ。**

正六角形の 1つの 角 □ °

3まいの 角の 和 □ °

立体に なる？ □ ○か×

ヒント 正六角形の 角の 和は 720°

⑦ **正三角形 6まいの 右の 立体。A・B に 集まる 面の 数は？**

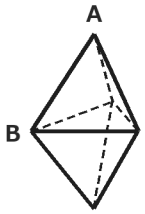

A □ まい

B □ まい

ヒント A と B に 集まる 面を 数える

⑧ **⑦の 立体は 正多面体か。**

ア 正多面体 である　イ 正多面体 では ない

ヒント 面が 合同でも 集まる 数を 見る

⑨ **正二十面体（正三角形 20まい）の 辺の 数**

(20×3)÷ □ = □

ヒント 1本の 辺は 2つの 面に またがる

⑩ **正八面体（正三角形 8まい・1つの 頂点に 4まいずつ 集まる）の 頂点の 数**

(8×3)÷ □ = □

ヒント 重ねて 数えた 分で わる

いちごドリル プリント

つづきの無料プリント
「空間図形」のプリント一覧がひらきます

立体の 面・辺・頂点【こたえ】

中1 空間図形／解き方プリント 10問／目標 15分

なまえ ＿＿＿＿＿＿＿＿

ひづけ ＿＿＿＿＿＿＿＿

きまり① 柱と 錐

まず 柱か 錐かを 決める。柱は 底面が 2つ。錐は 底面が 1つで、てっぺんにも 頂点が ある。

	面	辺	頂点
れい 四角柱	4+2=6	4×3=12	4×2=8
れい 四角錐	4+1=5	4×2=8	4+1=5

きまり② 正多面体

面が すべて 合同な 正多角形で、どの 頂点にも 同じ 数の 面が 集まる 立体。

辺の 数＝面の 数×1つの 面の 辺の 数÷2

頂点の 数＝面の 数×1つの 面の 頂点の 数÷1つの 頂点に 集まる 面の 数

れい 正六面体の 辺 (6×4)÷2=12

・答えを □ に 書く。ア・イ… の 問題は 正しい ものを ○ で かこむ（2つ 以上 あるときは 全部）

・点線は 見えない 辺。こまったら 各問の 下の 「ヒント」と、いちばん 上の 「きまり」を 見る

① **六角柱の 面・辺・頂点の 数は？**

面 **8**

辺 **18**

頂点 **12**

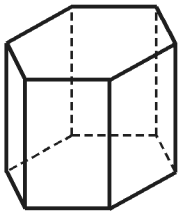

面 6+2=8、辺 6×3=18、頂点 6×2=12（面7 は ×）

② **六角錐の 面・辺・頂点の 数は？**

面 **7**

辺 **12**

頂点 **7**

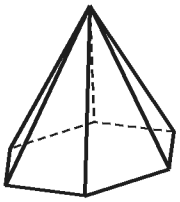

面 6+1=7、辺 6×2=12、頂点 6+1=7（辺18 は ×）

③ **面が 10 ある 角錐の 名前は？** **九** 角錐

側面は 10−1=9まい。底面は 九角形で 九角錐（十角錐 は ×）

④ **頂点が 16 の 角柱の 名前は？** **八** 角柱

16÷2=8。底面は 八角形で 八角柱（十六角柱 は ×）

⑤ **多面体を 全部 えらぶ。**

(ア)三角柱　イ 円柱　ウ 球

(エ)四角錐　(オ)正八面体　カ 円錐

円柱・球・円錐は 曲面が ある ので 多面体では ない

⑥ **正六角形だけの 正多面体が ない わけ。**

正六角形の 1つの 角 **120** °

3まいの 角の 和 **360** °

立体に なる？ **×** ○か×

720°÷6=120°。3まいで 360°に なり 平らに なる。とがらないので 立体に ならない（×）

⑦ **正三角形 6まいの 右の 立体。A・B に 集まる 面の 数は？**

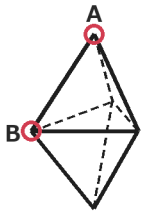

A **3** まい

B **4** まい

A に 3まい、B に 4まい。集まる 数が そろわない

⑧ **⑦の 立体は 正多面体か。**

ア 正多面体 である　(イ)正多面体 では ない

面は 合同でも、集まる 数が そろわない ので 正多面体では ない

⑨ **正二十面体（正三角形 20まい）の 辺の 数**

(20×3)÷ **2** = **30**

20×3=60 は 1本の 辺を 2回 数えて いる。60÷2=30本

⑩ **正八面体（正三角形 8まい・1つの 頂点に 4まいずつ 集まる）の 頂点の 数**

(8×3)÷ **4** = **6**

24 は 1つの 頂点を 4回 数えた 数。24÷4=6（8 は ×）

丸つけ ③④は 数字（9・8）でも ○。⑤は 3つ 全部 えらんで ○

いちごドリル プリント

柱と錐の　面・辺・頂点　ドリル①

中1　空間図形／ドリル①　8問／目標　10分

なまえ

ひづけ

・図の　ない　立体の　面・辺・頂点の　数を　□　に　書く
・名前の　「柱」「錐」と　「○角」を　見てから　数える

① **四角錐**　面 [ ]　辺 [ ]　頂点 [ ]

② **九角柱**　面 [ ]　辺 [ ]　頂点 [ ]

③ **三角柱**　面 [ ]　辺 [ ]　頂点 [ ]

④ **十角錐**　面 [ ]　辺 [ ]　頂点 [ ]

⑤ **十二角柱**　面 [ ]　辺 [ ]　頂点 [ ]

⑥ **九角錐**　面 [ ]　辺 [ ]　頂点 [ ]

⑦ **五角柱**　面 [ ]　辺 [ ]　頂点 [ ]

⑧ **十二角錐**　面 [ ]　辺 [ ]　頂点 [ ]

いちごドリル プリント

つづきの無料プリント
「空間図形」のプリント一覧がひらきます

柱と錐の　面・辺・頂点　ドリル①【こたえ】

なまえ ＿＿＿＿＿＿＿＿

中1　空間図形／ドリル①　8問／目標　10分

ひづけ ＿＿＿＿＿＿＿＿

・図の　ない　立体の　面・辺・頂点の　数を　□　に　書く
・名前の　「柱」「錐」と　「○角」を　見てから　数える

① **四角錐**　面 **5**　辺 **8**　頂点 **5**

四角錐：面　4+1＝5、辺　4×2＝8、頂点　4+1＝5

② **九角柱**　面 **11**　辺 **27**　頂点 **18**

九角柱：面　9+2＝11、辺　9×3＝27、頂点　9×2＝18

③ **三角柱**　面 **5**　辺 **9**　頂点 **6**

三角柱：面　3+2＝5、辺　3×3＝9、頂点　3×2＝6

④ **十角錐**　面 **11**　辺 **20**　頂点 **11**

十角錐：面　10+1＝11、辺　10×2＝20、頂点　10+1＝11

⑤ **十二角柱**　面 **14**　辺 **36**　頂点 **24**

十二角柱：面　12+2＝14、辺　12×3＝36、頂点　12×2＝24

⑥ **九角錐**　面 **10**　辺 **18**　頂点 **10**

九角錐：面　9+1＝10、辺　9×2＝18、頂点　9+1＝10

⑦ **五角柱**　面 **7**　辺 **15**　頂点 **10**

五角柱：面　5+2＝7、辺　5×3＝15、頂点　5×2＝10

⑧ **十二角錐**　面 **13**　辺 **24**　頂点 **13**

十二角錐：面　12+1＝13、辺　12×2＝24、頂点　12+1＝13

丸つけ　□ごとに　○×。n＝底面の　角の　数。柱は　面　n+2・辺　3n・頂点　2n、錐は　面　n+1・辺　2n・頂点　n+1

いちごドリル プリント

数から 立体の 名前 ドリル②

なまえ ＿＿＿＿＿＿＿＿

中1 空間図形／ドリル② 10問／目標 10分

ひづけ ＿＿＿＿＿＿＿＿

・面・辺・頂点の 数から、立体の 名前を 考える
・□ には「◯角」の ◯ に 入る 数を 漢字か 数字で 書く

① 面が 12 ある 角柱の 名前は？

□ 角柱

② 面が 7 ある 角錐の 名前は？

□ 角錐

③ 辺が 15 ある 角柱の 名前は？

□ 角柱

④ 辺が 16 ある 角錐の 名前は？

□ 角錐

⑤ 頂点が 10 ある 角錐の 名前は？

□ 角錐

⑥ 頂点が 14 ある 角柱の 名前は？

□ 角柱

⑦ 辺が 24 ある 角柱の 名前は？

□ 角柱

⑧ 面が 6 ある 角錐の 名前は？

□ 角錐

⑨ 面が 11 ある 立体。角柱 なら？ 角錐 なら？

□ 角柱 □ 角錐

⑩ 頂点が 12 ある 立体。角柱 なら？ 角錐 なら？

□ 角柱 □ 角錐

いちごドリル プリント

つづきの無料プリント
「空間図形」のプリント一覧がひらきます

数から 立体の 名前 ドリル②【こたえ】

なまえ ＿＿＿＿＿＿＿＿

中1 空間図形／ドリル② 10問／目標 10分

ひづけ ＿＿＿＿＿＿＿＿

・面・辺・頂点の 数から、立体の 名前を 考える
・□ には「○角」の ○ に 入る 数を 漢字か 数字で 書く

① 面が 12 ある 角柱の 名前は？

十 角柱

側面は 12−2＝10まい。底面は 十角形で 十角柱（十二角柱 は ×）

② 面が 7 ある 角錐の 名前は？

六 角錐

側面は 7−1＝6まい。底面は 六角形で 六角錐（七角錐 は ×）

③ 辺が 15 ある 角柱の 名前は？

五 角柱

15÷3＝5。底面は 五角形で 五角柱（十五角柱 は ×）

④ 辺が 16 ある 角錐の 名前は？

八 角錐

16÷2＝8。底面は 八角形で 八角錐（十六角錐 は ×）

⑤ 頂点が 10 ある 角錐の 名前は？

九 角錐

底面の 頂点は 10−1＝9こ。底面は 九角形で 九角錐（十角錐 は ×）

⑥ 頂点が 14 ある 角柱の 名前は？

七 角柱

14÷2＝7。底面は 七角形で 七角柱（十四角柱 は ×）

⑦ 辺が 24 ある 角柱の 名前は？

八 角柱

24÷3＝8。底面は 八角形で 八角柱

⑧ 面が 6 ある 角錐の 名前は？

五 角錐

側面は 6−1＝5まい。底面は 五角形で 五角錐（六角錐 は ×）

⑨ 面が 11 ある 立体。角柱 なら？ 角錐 なら？

九 角柱 十 角錐

角柱は 11−2＝9 で 九角柱、角錐は 11−1＝10 で 十角錐

⑩ 頂点が 12 ある 立体。角柱 なら？ 角錐 なら？

六 角柱 十一 角錐

角柱は 12÷2＝6 で 六角柱、角錐は 12−1＝11 で 十一角錐

丸つけ □ は 漢字でも 数字でも ○（九 と 9）。⑨⑩は 柱と 錐の 両方 合って ○

いちごドリル プリント

多面体と 正多面体 ドリル③

中1 空間図形／ドリル③ 11問／目標 10分

なまえ ＿＿＿＿＿＿＿＿

ひづけ ＿＿＿＿＿＿＿＿

・ア・イ… の 問題は 正しい ものを ○ で かこむ（全部 えらぶ ときは 全部）
・文の 問題は、正しければ ○、まちがいなら × を □ に 書く

① 次の 立体の うち、多面体を 全部 えらぶ。

ア 立方体　　イ 円錐　　ウ 三角錐　　エ 半球　　オ 円柱　　カ 正十二面体

② 円柱は 多面体 である。 □

③ 正四面体は 多面体 である。 □

④ 正多面体は 全部で 5種類 ある。 □

⑤ すべての 面が 合同な 正多角形 なら、正多面体 である。 □

⑥ 正六角形 3まいを 1つの 頂点に 集めると、とがった 頂点が できる。 □

⑦ 正五角形 3まいを 1つの 頂点に 集めると、とがった 頂点が できる。 □

⑧ 面が すべて 合同な 正多角形で、どの 頂点にも 同じ 数の 面が 集まる へこみの ない 立体は 正多面体。 □

⑨ 正方形 4まいを 1つの 頂点に 集めると、とがった 頂点が できる。 □

⑩ ア・イは どちらも 正三角形 だけで できて いる。
正多面体は どちら？ ア か イ を □ に 書く。 □

ア

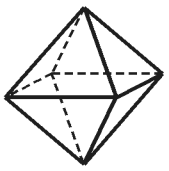

イ

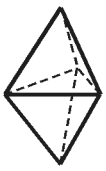

⑪ 正多面体の 面に なる 正多角形を 全部 えらぶ。

ア 正六角形　　イ 正三角形　　ウ 正八角形　　エ 正方形　　オ 正五角形

いちごドリル プリント

つづきの無料プリント
「空間図形」のプリント一覧がひらきます

多面体と 正多面体 ドリル③【こたえ】

なまえ ＿＿＿＿＿＿＿＿

中1 空間図形／ドリル③ 11問／目標 10分

ひづけ ＿＿＿＿＿＿＿＿

・ア・イ… の 問題は 正しい ものを ○ で かこむ（全部 えらぶ ときは 全部）
・文の 問題は、正しければ ○、まちがいなら × を □ に 書く

① 次の 立体の うち、多面体を 全部 えらぶ。

(ア)立方体　イ 円錐　(ウ)三角錐　エ 半球　オ 円柱　(カ)正十二面体

円錐・半球・円柱は 曲面が ある ので 多面体では ない

② 円柱は 多面体 である。 ×

×。円柱には 曲面が ある

③ 正四面体は 多面体 である。 ○

○。平面（正三角形）だけで かこまれて いる

④ 正多面体は 全部で 5種類 ある。 ○

○。正四面体・正六面体・正八面体・正十二面体・正二十面体

⑤ すべての 面が 合同な 正多角形 なら、正多面体 である。 ×

×。どの 頂点にも 同じ 数の 面が 集まる ことも いる

⑥ 正六角形 3まいを 1つの 頂点に 集めると、とがった 頂点が できる。 ×

×。120°×3＝360°で 平らに なる

⑦ 正五角形 3まいを 1つの 頂点に 集めると、とがった 頂点が できる。 ○

○。108°×3＝324°で 360°より 小さい

⑧ 面が すべて 合同な 正多角形で、どの 頂点にも 同じ 数の 面が 集まる へこみの ない 立体は 正多面体。 ○

○。正多面体の 条件 どおり

⑨ 正方形 4まいを 1つの 頂点に 集めると、とがった 頂点が できる。 ×

×。90°×4＝360°で 平らに なる

⑩ ア・イは どちらも 正三角形 だけで できて いる。
正多面体は どちら？ ア か イ を □ に 書く。

ア

ア　イ



アは どの 頂点にも 4まい。イは 3まいと 4まいの 頂点が あるので 正多面体では ない

⑪ 正多面体の 面に なる 正多角形を 全部 えらぶ。

ア 正六角形　(イ)正三角形　ウ 正八角形　(エ)正方形　(オ)正五角形

1つの 頂点に 3まい 以上 集めて 360°より 小さく なるのは 正三角形・正方形・正五角形 だけ

丸つけ 全部 えらぶ 問題は、正しい ものを 全部 えらび、ほかを えらんで いなければ ○

いちごドリル プリント

重ねて 数えて わる ドリル④

中1 空間図形／ドリル④ 9問／目標 12分

なまえ ＿＿＿＿＿＿＿＿

ひづけ ＿＿＿＿＿＿＿＿

・面ごとに 数えた 合計を、重ねて 数えた 回数で わる 式を 完成させる
・□ に 答えを 書く。式の 問題は 左の □ に わる 数、右の □ に 答え

① 正四面体（正三角形 4まい・1つの 頂点に 3まい）の 頂点の 数

(4×3)÷ □ ＝ □

② 五角柱（五角形 2まい・長方形 5まい）の 辺の 数

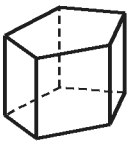

(2×5+5×4)÷ □ ＝ □

③ 五角柱（どの 頂点にも 3まい 集まる）の 頂点の 数

(2×5+5×4)÷ □ ＝ □

④ 正二十面体（正三角形 20まい・1つの 頂点に 5まい 集まる）の 頂点の 数は？

□ こ

⑤ サッカーボールの 形（正五角形 12まい・正六角形 20まい）の 辺の 数

(12×5+20×6)÷ □ ＝ □

⑥ サッカーボールの 形（どの 頂点にも 3まい 集まる）の 頂点の 数

(12×5+20×6)÷ □ ＝ □

⑦ 立方八面体（正三角形 8まい・正方形 6まい）の 辺の 数

(8×3+6×4)÷ □ ＝ □

⑧ 立方八面体（どの 頂点にも 4まい 集まる）の 頂点の 数

(8×3+6×4)÷ □ ＝ □

⑨ 正二十面体の 辺は 30本。正三角形 20まいの 辺を 1まいずつ 全部 数えると 何本分？

□ 本分

いちごドリル プリント

つづきの無料プリント
「空間図形」のプリント一覧がひらきます

重ねて 数えて わる ドリル④【こたえ】

なまえ ＿＿＿＿＿＿＿＿

中1 空間図形／ドリル④ 9問／目標 12分

ひづけ ＿＿＿＿＿＿＿＿

・面ごとに 数えた 合計を、重ねて 数えた 回数で わる 式を 完成させる
・□ に 答えを 書く。式の 問題は 左の □ に わる 数、右の □ に 答え

① 正四面体（正三角形 4まい・1つの 頂点に 3まい）の 頂点の 数

(4×3)÷ 3 = 4

(4×3)＝12 は 1つの 頂点を 3回 数えて いる。12÷3＝4

② 五角柱（五角形 2まい・長方形 5まい）の 辺の 数

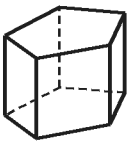

(2×5+5×4)÷ 2 = 15

(2×5+5×4)＝30 は 1つの 辺を 2回 数えて いる。30÷2＝15

③ 五角柱（どの 頂点にも 3まい 集まる）の 頂点の 数

(2×5+5×4)÷ 3 = 10

(2×5+5×4)＝30 は 1つの 頂点を 3回 数えて いる。30÷3＝10

④ 正二十面体（正三角形 20まい・1つの 頂点に 5まい 集まる）の 頂点の 数は？

12 こ

頂点は 面の 数（20）と ちがう。20×3÷5＝12こ。面の 数を そのまま 使わない

⑤ サッカーボールの 形（正五角形 12まい・正六角形 20まい）の 辺の 数

(12×5+20×6)÷ 2 = 90

(12×5+20×6)＝180 は 1つの 辺を 2回 数えて いる。180÷2＝90

⑥ サッカーボールの 形（どの 頂点にも 3まい 集まる）の 頂点の 数

(12×5+20×6)÷ 3 = 60

(12×5+20×6)＝180 は 1つの 頂点を 3回 数えて いる。180÷3＝60

⑦ 立方八面体（正三角形 8まい・正方形 6まい）の 辺の 数

(8×3+6×4)÷ 2 = 24

(8×3+6×4)＝48 は 1つの 辺を 2回 数えて いる。48÷2＝24

⑧ 立方八面体（どの 頂点にも 4まい 集まる）の 頂点の 数

(8×3+6×4)÷ 4 = 12

(8×3+6×4)＝48 は 1つの 頂点を 4回 数えて いる。48÷4＝12

⑨ 正二十面体の 辺は 30本。正三角形 20まいの 辺を 1まいずつ 全部 数えると 何本分？

60 本分

1本の 辺を 2つの 面で 数えるので 30×2＝60（20×3＝60 とも 合う）

丸つけ わる 数と 答えの 両方 合って ○。辺は 2回、頂点は 集まる まい数の 回だけ 重ねて 数えて いる

面・辺・頂点 まとめの ドリル⑤

中1 空間図形／ドリル⑤ 10問／目標 15分

なまえ ＿＿＿＿＿＿＿＿

ひづけ ＿＿＿＿＿＿＿＿ /25

・ヒントなしで 解く。答えを □ に 書き、ア・イ… は 正しい ものを 全部 ○ で かこむ
・□ の 横に 書いて ある 単位や 「角柱」は 書かなくて よい。文の 問題は ○か×を □ に 書く

① 十一角柱
3点

面 □ 辺 □ 頂点 □

② 十一角錐
3点

面 □ 辺 □ 頂点 □

③ 辺が 20 ある 角錐の 名前は？
2点

□ 角錐

④ 頂点が 18 ある 角柱の 名前は？
2点

□ 角柱

⑤ 多面体を 全部 えらぶ。
3点

ア 六角錐　イ 球　ウ 円錐
エ 四角柱　オ 正八面体　カ 円柱

⑥ 正八角形の 1つの 角は 135°。
3まい 集めた 角の 和は？
2点

□ °

⑦ 正八面体の 頂点は 6こで、1つの 頂点に
4まいずつ 集まる。面ごとに 頂点を
数えた 合計は？
3点

□ こ分

⑧ 三角柱（三角形 2まい・長方形 3まい）の 辺の 数
3点

(2×3+3×4)÷ □ ＝ □

⑨ 角錐は 頂点の 数と 面の 数が 同じ。
2点

□

⑩ 角柱の 辺の 数は、頂点の 数の 1.5倍。
2点

□

いちごドリル プリント

つづきの無料プリント
「空間図形」のプリント一覧がひらきます

面・辺・頂点 まとめの ドリル⑤【こたえ】

中1 空間図形／ドリル⑤ 10問／目標 15分

なまえ ＿＿＿＿＿＿＿＿

ひづけ ＿＿＿＿＿＿＿＿ /25

・ヒントなしで 解く。答えを □ に 書き、ア・イ… は 正しい ものを 全部 ○ で かこむ
・□ の 横に 書いて ある 単位や 「角柱」は 書かなくて よい。文の 問題は ○か×を □ に 書く

① 十一角柱
3点

面 13 辺 33 頂点 22

十一角柱：面 11+2＝13、辺 11×3＝33、頂点 11×2＝22

② 十一角錐
3点

面 12 辺 22 頂点 12

十一角錐：面 11+1＝12、辺 11×2＝22、頂点 11+1＝12

③ 辺が 20 ある 角錐の 名前は？
2点

十 角錐

20÷2＝10。底面は 十角形で 十角錐（二十角錐 は ×）

④ 頂点が 18 ある 角柱の 名前は？
2点

九 角柱

18÷2＝9。底面は 九角形で 九角柱（十八角柱 は ×）

⑤ 多面体を 全部 えらぶ。
3点

(ア)六角錐　イ 球　ウ 円錐
(エ)四角柱　(オ)正八面体　カ 円柱

球・円錐・円柱は 曲面が ある

⑥ 正八角形の 1つの 角は 135°。
3まい 集めた 角の 和は？
2点

405 °

135×3＝405°。360°を こえて 1つの 頂点に 集められない ので、正八角形の 正多面体は ない

⑦ 正八面体の 頂点は 6こで、1つの 頂点に 4まいずつ 集まる。面ごとに 頂点を 数えた 合計は？
3点

24 こ分

6×4＝24。面から 数えても 8×3＝24 で 合う

⑧ 三角柱（三角形 2まい・長方形 3まい）の 辺の 数
3点

(2×3+3×4)÷ 2 ＝ 9

(2×3+3×4)＝18 は 1つの 辺を 2回 数えて いる。18÷2＝9

⑨ 角錐は 頂点の 数と 面の 数が 同じ。
2点

○

○。n角錐は 頂点も 面も n+1

⑩ 角柱の 辺の 数は、頂点の 数の 1.5倍。
2点

○

○。n角柱の 辺 3n、頂点 2n で 3n÷2n＝1.5

丸つけ ①②は 3つ 全部 合って 3点。名前は 漢字でも 数字でも ○。⑤は 3つ 全部、⑧は □2つ とも 合って 点

いちごドリル プリント