小6 拡大図と 縮図 練習プリント①

たてと よこの 倍を くらべる 全6問

なまえ ＿＿＿＿＿＿＿＿

学習日 ＿＿月＿＿日

ねらい 大きく なって いても、たてと よこが 同じ 倍か しらべよう。

ときかた **イは アの 拡大図かな。マスを 数えて、倍を くらべる。**

たては 2マスから 4マスで ① ＿＿＿＿ **倍**

よこは 3マスから 3マスで ② ＿＿＿＿ **倍**

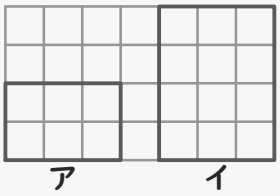

たてと よこの 倍が 同じなら 拡大図・縮図。ちがえば ちがう。

れんしゅう

拡大図・縮図か どうか、方眼の マスを 数えて たしかめましょう。
2は 数と 単位を。1・3・4・5・6は 正しいものに ○を つけましょう。

1

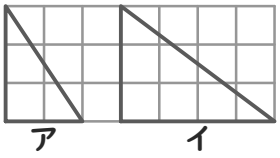

方眼の マスを 数えて、
イは アの 拡大図ですか。

はい **いいえ**

2 アと 形が 同じで 大きさが ちがう
図は、イ～エの うち 何こ ありますか。

＿＿＿＿ （単位も 書こう）

ア

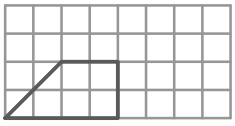

イ

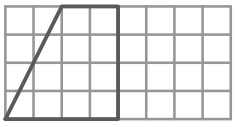

ウ

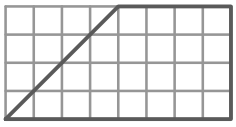

エ

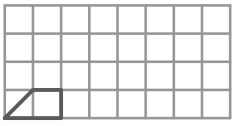

3 たて 4cm・よこ 5cm の 写真を よこだけ 2倍に のばした。
のばした 写真は、もとの 写真の どれですか。

拡大図 **縮図** **どちらでもない**

4 たても よこも 長く なった 長方形は、どれも もとの
長方形の 拡大図である。

○ **×**

5 アの 拡大図に なって いる
ものは A と B の どちら?

A **B**

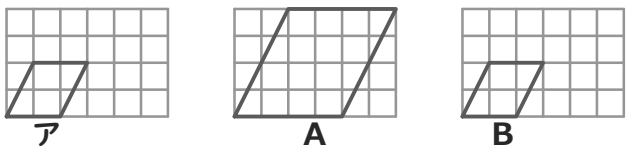

6 長方形 アは たて3cm よこ4cm、イは たて6cm よこ5cm。
さくらさん「大きいから 拡大図」。イは どれ?

たてだけ 2倍 **よこだけ 2倍** **どちらも 2倍**