分数の 交点 ドリル②

中2／ドリル 項目8 ②（分数の 交点）／目標 12分

なまえ ＿＿＿＿＿＿＿＿

ひづけ ＿＿＿＿＿＿＿＿

・方眼の グラフは 目安。交点の 座標は 2つの 式を 連立して 計算で 求め、四角に 書く。
・分数は 約分して 書く。方眼の 1目もりは 1。

大問1 計算で 交点を 出す

(1) 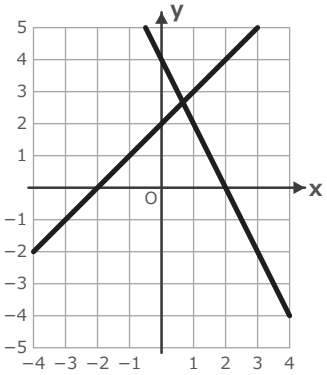

$y = x + 2$ と $y = -2x + 4$ の 交点

(2) 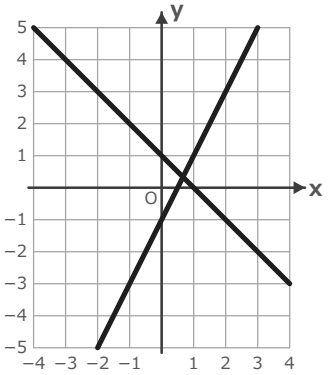

$y = 2x - 1$ と $y = -x + 1$ の 交点

(3) 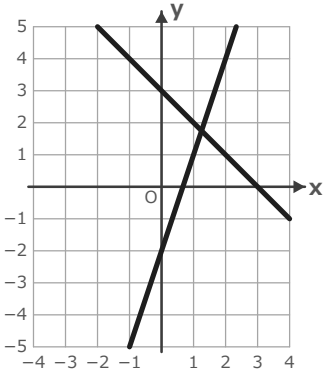

$y = -x + 3$ と $y = 3x - 2$ の 交点

(4) 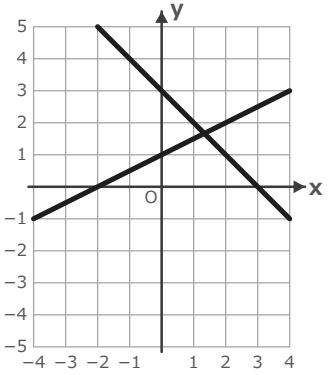

$y = \frac{x}{2} + 1$ と $y = -x + 3$ の 交点

(5) 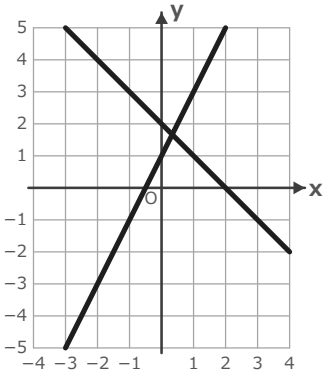

$y = -x + 2$ と $y = 2x + 1$ の 交点

(6) 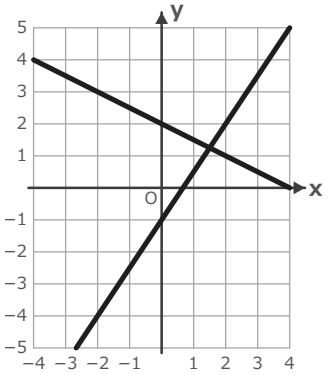

$y = \frac{3x}{2} - 1$ と $y = -\frac{x}{2} + 2$ の 交点

いちごドリル プリント

つづきの無料プリント
「一次関数」のプリント一覧がひらきます