グラフの まちがい ドリル④

中2／ドリル 項目3 ④（直す）／目標 12分

なまえ ＿＿＿＿＿＿＿＿

ひづけ ＿＿＿＿＿＿＿＿

・方眼の 直線は 式の グラフを まちがえて かいた もの。まちがい方を ○で かこむ。
・正しい 直線が 通る 点の y を 四角に 書く。方眼の 1目もりは 1。

大問1 まちがいを 見つける

(1)

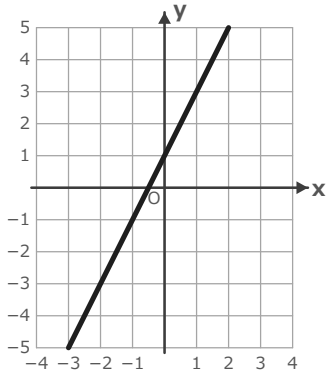

$y = -2x + 1$ を
かいたら この 直線

上下が 逆

右と 上が 逆

正しい 直線は (2, □)

(2)

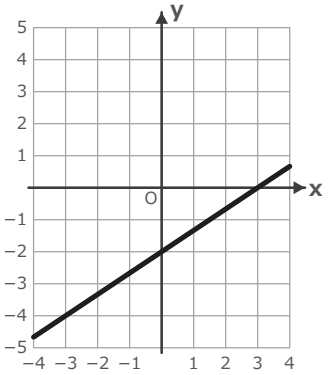

$y = \frac{3x}{2} - 2$ を
かいたら この 直線

上下が 逆

右と 上が 逆

正しい 直線は (2, □)

(3)

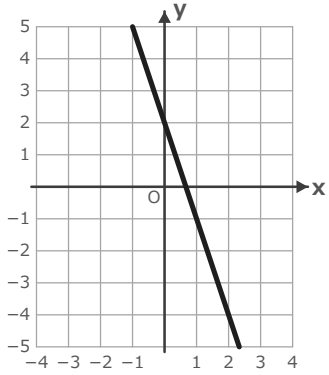

$y = -\frac{x}{3} + 2$ を
かいたら この 直線

上下が 逆

右と 上が 逆

正しい 直線は (3, □)

(4)

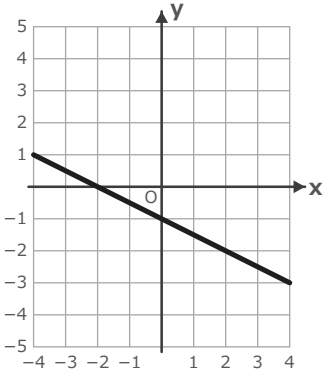

$y = \frac{x}{2} - 1$ を
かいたら この 直線

上下が 逆

右と 上が 逆

正しい 直線は (4, □)

(5)

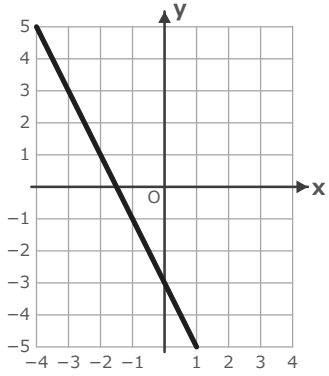

$y = 2x - 3$ を
かいたら この 直線

上下が 逆

右と 上が 逆

正しい 直線は (2, □)

(6)

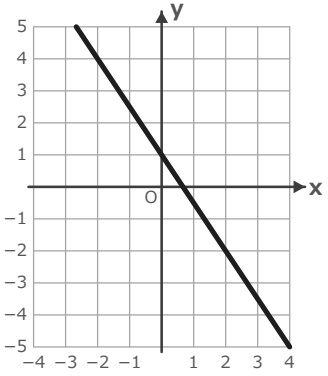

$y = -\frac{2x}{3} + 1$ を
かいたら この 直線

上下が 逆

右と 上が 逆

正しい 直線は (3, □)

いちごドリル プリント

つづきの無料プリント
「一次関数」のプリント一覧がひらきます