分数の 傾きの グラフ ドリル③

中2／ドリル 項目3 ③（かく・分数の傾き）／目標 12分

なまえ ＿＿＿＿＿＿＿＿

ひづけ ＿＿＿＿＿＿＿＿

・切片 (0, b) から 右へ 進んで、直線が 次に 通る 点のうち x も y も 整数の 点の 座標を (x, y) の 形で 四角に 書き、方眼に 直線を かく。
・方眼の 1目もりは 1。

大問1 分数の 傾き

(1) 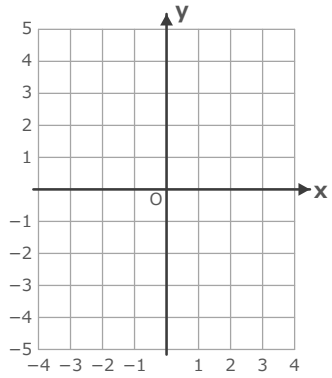

$y = \frac{2x}{3} - 1$

(0, b) の 次の 点

(2) 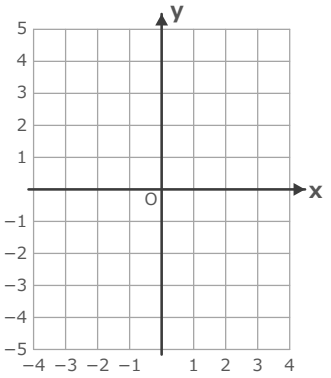

$y = -\frac{3x}{4} + 2$

(0, b) の 次の 点

(3) 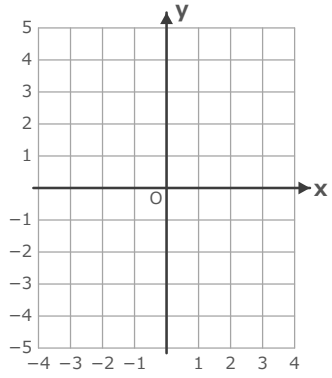

$y = \frac{x}{2} + 1$

(0, b) の 次の 点

(4) 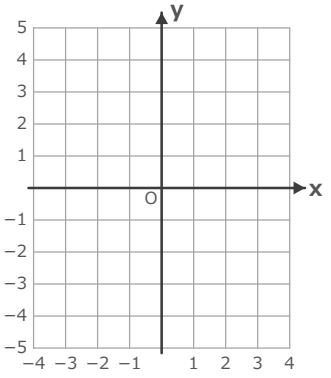

$y = -\frac{x}{3} - 2$

(0, b) の 次の 点

(5) 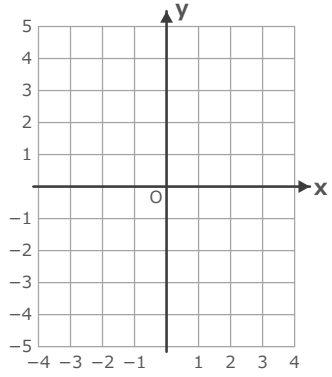

$y = \frac{3x}{2} - 3$

(0, b) の 次の 点

(6) 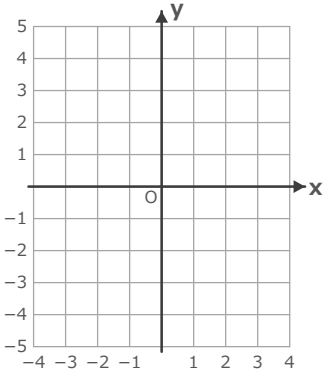

$y = -\frac{2x}{3} + 3$

(0, b) の 次の 点

いちごドリル プリント

つづきの無料プリント
「一次関数」のプリント一覧がひらきます