傾き・切片と グラフを かく

中2／解き方プリント 項目3／目標 15分

なまえ ＿＿＿＿＿＿＿＿

ひづけ ＿＿＿＿＿＿＿＿

きまり① $y = ax + b$ の a（x の 係数）が 傾き、b が 切片。項の 順が 逆でも x の 係数を 見る

きまり② (0, b) から 右へ 1 で 上へ a（a が 負なら 下へ）。傾き $\frac{c}{d}$ は 右へ d・上へ c

れい $y = 1 - 2x$ は 傾き −2・切片 1。(0, 1) から 右へ 1・下へ 2 で (1, −1)

○ 傾き −2・切片 1

× 傾き 1・切片 −2 前の 数を 傾きに した

・大問1は、傾きと 切片を 四角に 書く。大問2は、方眼に 直線を 定規で かき、四角に 数を 書く。
・大問3は、正しい 直線の $x = 2$ の ときの y を 書き、まちがい方を ○で かこむ。
・方眼の 1目もりは 1。

大問1 傾きと 切片

(1) $y = -4 + 3x$

傾き ＿＿＿＿ 切片 ＿＿＿＿

(2) $y = 5 - x$

傾き ＿＿＿＿ 切片 ＿＿＿＿

(3) $y = -3 + \frac{x}{2}$

傾き ＿＿＿＿ 切片 ＿＿＿＿

(4) $y = 1 - \frac{2x}{3}$

傾き ＿＿＿＿ 切片 ＿＿＿＿

大問2 グラフを かく

(1)

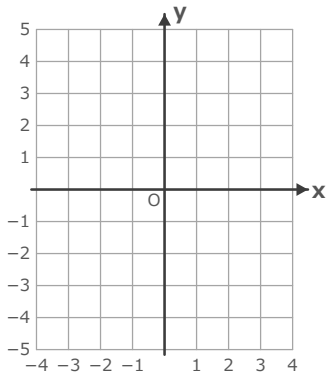

$y = -3x + 2$ を かく。

x = 1 の とき y = ＿＿＿＿

(2)

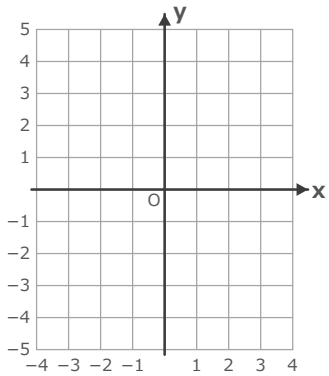

$y = \frac{2x}{3} - 1$ を かく。

(0, −1) から

右へ ＿＿＿＿

上へ ＿＿＿＿

大問3 まちがいを 直す

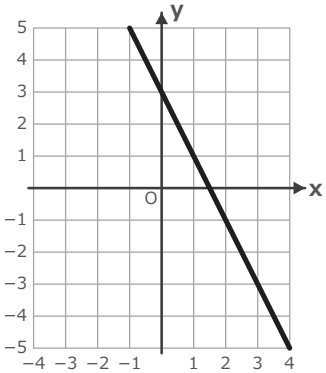

$y = -\frac{x}{2} + 3$ を、(0, 3) から 右へ 1・下へ 2 と かいた。

ア 右と 下が 逆　　イ 上と 下が 逆

x = 2 の とき y = ＿＿＿＿

見直し □ x の 係数を 傾きに した □ 負の 傾きは 下へ・分数は 右へ 分母 まちがい（ ）問

いちごドリル プリント

つづきの無料プリント
「一次関数」のプリント一覧がひらきます

傾きと 切片を 読む ドリル①

中2／ドリル 項目3 ①（読む）／目標 10分

なまえ ＿＿＿＿＿＿＿＿

ひづけ ＿＿＿＿＿＿＿＿

・大問1は、傾きと 切片を 四角に 書く。大問2は、ア～エ の 式の 直線から あてはまる ものを すべて 選び、記号を 書く（例 イ、エ）。
・大問3は、x が 1 ふえる ときの y の 変わり方を 数で 書く。分数は 約分する。

大問1 傾きと 切片

(1) $y = -7 + 2x$

傾き □　切片 □

(2) $y = 4 - 3x$

傾き □　切片 □

(3) $y = -x - 6$

傾き □　切片 □

(4) $y = 8 + \frac{x}{4}$

傾き □　切片 □

(5) $y = 3 - 5x$

傾き □　切片 □

(6) $y = -\frac{x}{2}$

傾き □　切片 □

大問2 あてはまる 直線を 選ぶ

ア $y = 4 - x$　　イ $y = -3 + 2x$　　ウ $y = -1 - \frac{3x}{2}$　　エ $y = x - 5$

(1) 傾きが 負の 直線を すべて □

(2) 切片が 負の 直線を すべて □

大問3 x が 1 ふえると

(1) $y = 2 - 5x$ で、x が 1 ふえる と y は いくつ ふえる（へるなら 負の 数） □

(2) $y = -6 + 4x$ で、x が 1 ふえる と y は いくつ ふえる（へるなら 負の 数） □

(3) $y = 7 - \frac{x}{2}$ で、x が 1 ふえる と y は いくつ ふえる（へるなら 負の 数） □

いちごドリル プリント

つづきの無料プリント
「一次関数」のプリント一覧がひらきます

負の 傾きの グラフ ドリル②

中2／ドリル 項目3 ②（かく・負の傾き）／目標 12分

なまえ ＿＿＿＿＿＿＿＿

ひづけ ＿＿＿＿＿＿＿＿

・切片から 右へ 1 進んだ 点の y を 四角に 書いてから、方眼に 直線を 定規で かく。
・方眼の 1目もりは 1。

大問1 グラフを かく

(1) 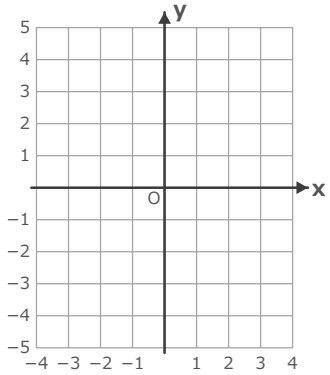

y = −2x + 3
を かく。
x = 1 の とき y =

(2) 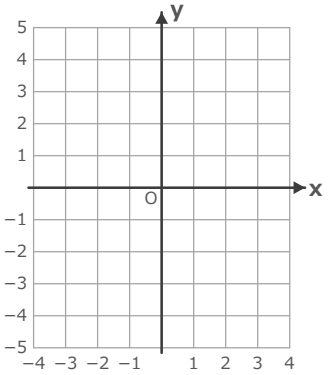

y = 1 − x
を かく。
x = 1 の とき y =

(3) 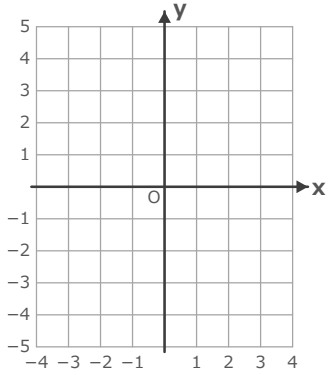

y = −3x − 1
を かく。
x = 1 の とき y =

(4) 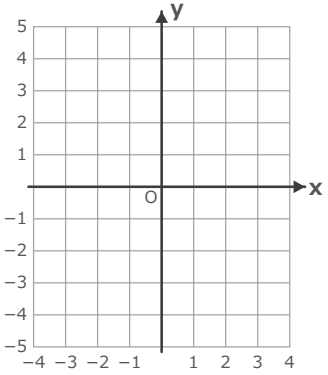

y = 2 − 4x
を かく。
x = 1 の とき y =

(5) 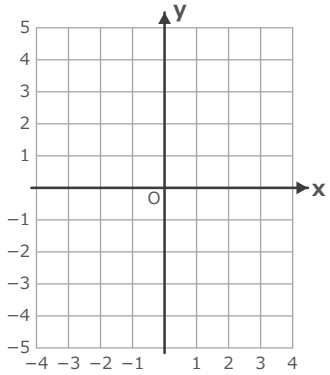

y = −2x − 2
を かく。
x = 1 の とき y =

(6) 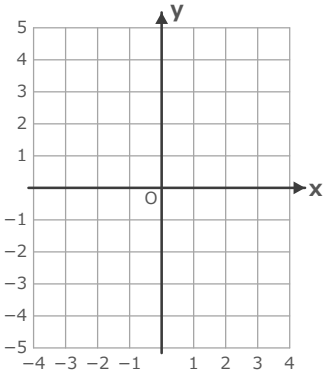

y = 3 − 3x
を かく。
x = 1 の とき y =

いちごドリル プリント

つづきの無料プリント
「一次関数」のプリント一覧がひらきます

分数の 傾きの グラフ ドリル③

中2／ドリル 項目3 ③（かく・分数の傾き）／目標 12分

なまえ ＿＿＿＿＿＿＿＿

ひづけ ＿＿＿＿＿＿＿＿

・切片 (0, b) から 右へ 進んで、直線が 次に 通る 点のうち x も y も 整数の 点の 座標を (x, y) の 形で 四角に 書き、方眼に 直線を かく。
・方眼の 1目もりは 1。

大問1 分数の 傾き

(1) 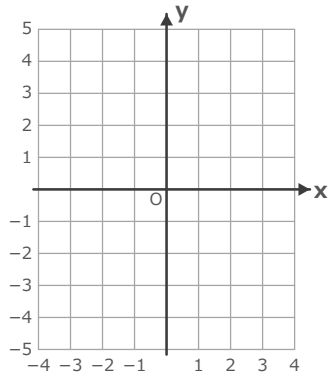

$y = \frac{2x}{3} - 1$

(0, b) の 次の 点

(2) 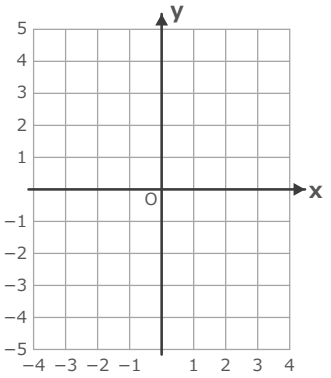

$y = -\frac{3x}{4} + 2$

(0, b) の 次の 点

(3) 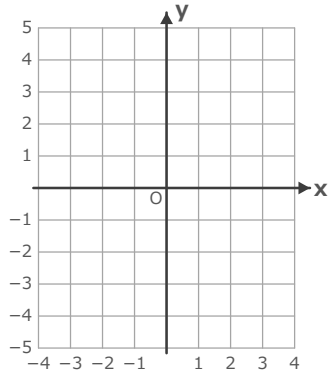

$y = \frac{x}{2} + 1$

(0, b) の 次の 点

(4) 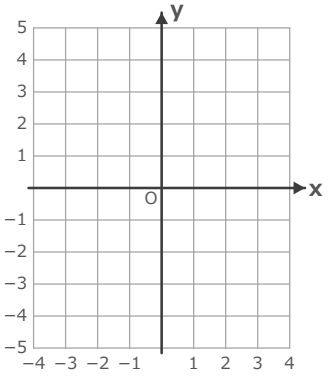

$y = -\frac{x}{3} - 2$

(0, b) の 次の 点

(5) 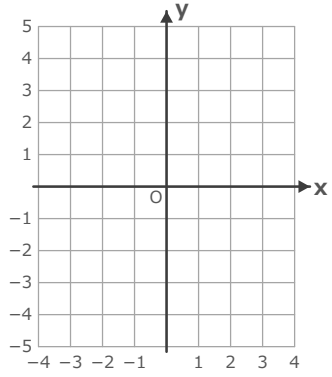

$y = \frac{3x}{2} - 3$

(0, b) の 次の 点

(6) 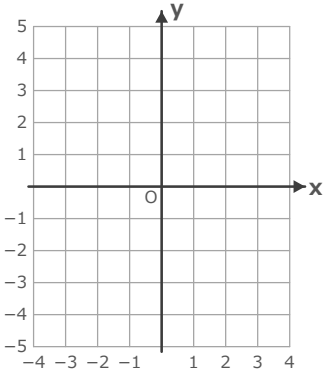

$y = -\frac{2x}{3} + 3$

(0, b) の 次の 点

いちごドリル プリント

つづきの無料プリント
「一次関数」のプリント一覧がひらきます

グラフの まちがい ドリル④

中2／ドリル 項目3 ④（直す）／目標 12分

なまえ ＿＿＿＿＿＿＿＿

ひづけ ＿＿＿＿＿＿＿＿

・方眼の 直線は 式の グラフを まちがえて かいた もの。まちがい方を ○で かこむ。
・正しい 直線が 通る 点の y を 四角に 書く。方眼の 1目もりは 1。

大問1 まちがいを 見つける

(1)

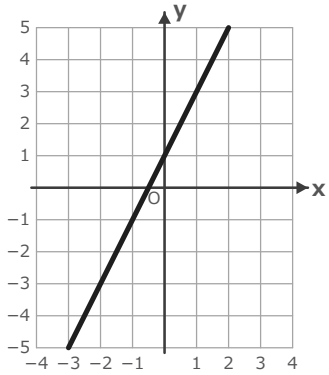

$y = -2x + 1$ を
かいたら この 直線

上下が 逆

右と 上が 逆

正しい 直線は (2, □)

(2)

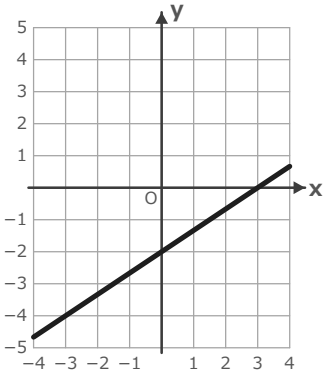

$y = \frac{3x}{2} - 2$ を
かいたら この 直線

上下が 逆

右と 上が 逆

正しい 直線は (2, □)

(3)

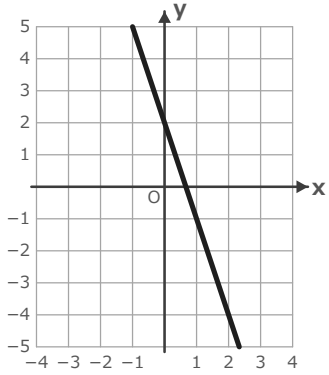

$y = -\frac{x}{3} + 2$ を
かいたら この 直線

上下が 逆

右と 上が 逆

正しい 直線は (3, □)

(4)

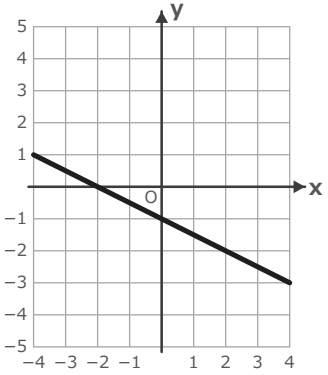

$y = \frac{x}{2} - 1$ を
かいたら この 直線

上下が 逆

右と 上が 逆

正しい 直線は (4, □)

(5)

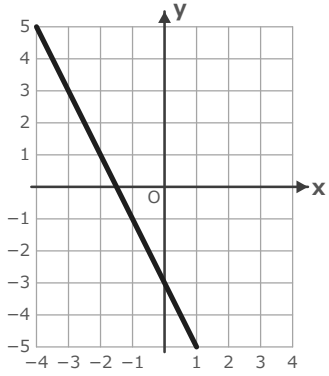

$y = 2x - 3$ を
かいたら この 直線

上下が 逆

右と 上が 逆

正しい 直線は (2, □)

(6)

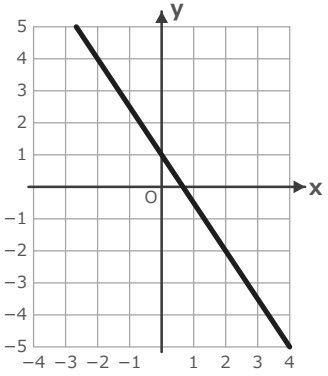

$y = -\frac{2x}{3} + 1$ を
かいたら この 直線

上下が 逆

右と 上が 逆

正しい 直線は (3, □)

いちごドリル プリント

つづきの無料プリント
「一次関数」のプリント一覧がひらきます

傾き・切片と グラフ ドリル⑤

中2／ドリル 項目3 ⑤ 定期テストの形／25点・15分

なまえ ＿＿＿＿＿＿＿＿

ひづけ ＿＿＿＿＿＿　/25

全部で 25点・15分。答えは 四角に 書き、グラフは 方眼に 定規で かく（1目もりは 1）。分数は 約分する。

大問1 傾きと 切片

各2点（6点）

(1) $y = -5 + 4x$

傾き ［　　］

切片 ［　　］

(2) $y = 7 - \frac{2x}{3}$

傾き ［　　］

切片 ［　　］

(3) $y = -3x$

傾き ［　　］

切片 ［　　］

大問2 グラフを かく

各4点（8点）

(1)

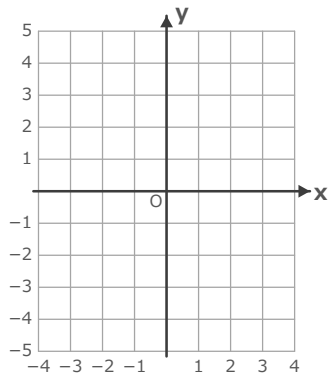

$y = -\frac{x}{2} + 3$ を かく。

(2)

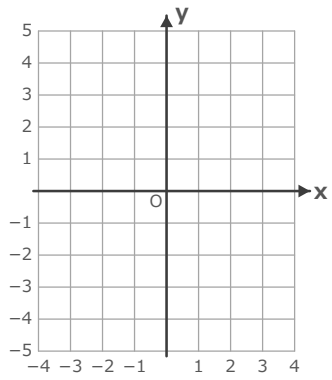

$y = 3x - 4$ を かく。

大問3 点と 動かし方

各3点（6点）

(1) $y = \frac{3x}{4} - 2$ の グラフが (0, −2) の 右で 次に 通る 目もりの 交わる 点

［　　］

(2) $y = 2 - x$ の グラフは 右へ 1 進むと、上・下の どちらへ いくつ 動く

［　　］ へ ［　　］

大問4 まちがいを 直す

3・2点（5点）

$y = \frac{2x}{5} + 1$ を、(0, 1) から 右へ 2・上へ 5 と かいた。

(1) 正しい 動かし方

右へ ［　　］　上へ ［　　］

(2) まちがいは

右と 上が 逆　　上下が 逆

いちごドリル プリント

つづきの無料プリント
「一次関数」のプリント一覧がひらきます