県庁所在地から 見た ほうい①

小3〜小5／●と ●を 線で むすんで ほういを 答えよう

なまえ ＿＿＿＿＿＿＿＿

ひづけ ＿＿＿＿＿＿＿＿

●は 県庁所在地の 場所です（名前の「市」は 省いて います）。地図の 上が 北です。
ほういは 右の ほういカードの 8つの 中から、いちばん 近い 矢印の ほういで 答えます。

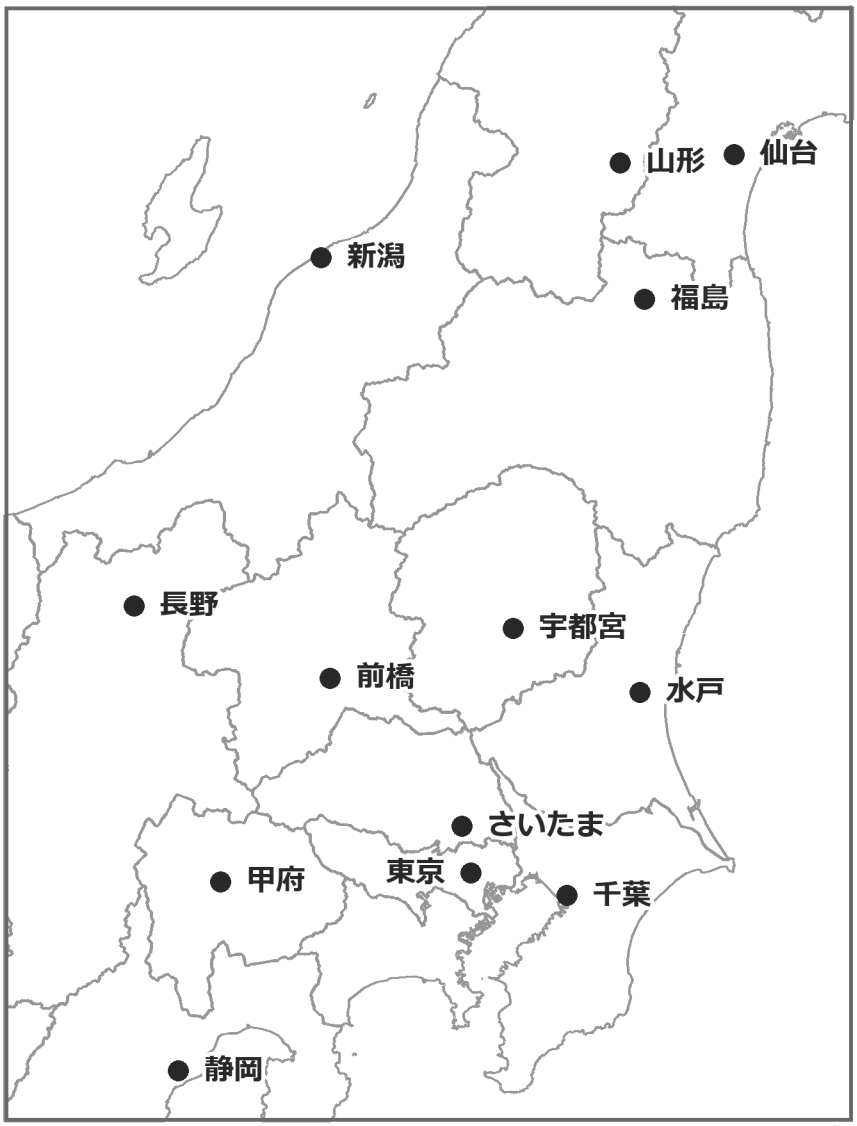

出典：地球地図日本（国土地理院）

ほういカード

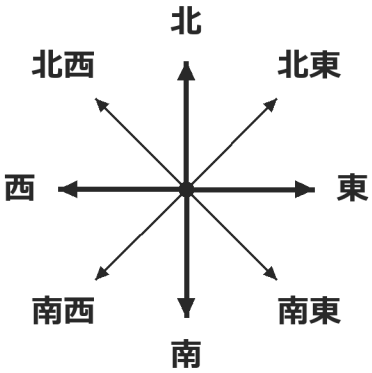

ほうい の 見つけ方

① 基準の ●から 目てきの ●まで 線を ひく。

② 線の 向きに いちばん 近い 矢印の ほういを 答える。

① 新潟から 見て、水戸は どの ほうい ですか。

② 水戸から 見て、新潟は どの ほうい ですか。

③ 福島から 見て、前橋は どの ほうい ですか。

④ 東京から 見て、南西に ある 県庁所在地を ぜんぶ 書きましょう。

⑤ 水戸から 見て、北に ある 県庁所在地を ぜんぶ 書きましょう。

いちごドリル プリント

つづきの無料プリント
「日本の白地図」のプリント一覧がひらきます

県庁所在地から 見た ほうい②（ななめの ほうい）

なまえ ＿＿＿＿＿＿＿＿

小3〜小5／●と ●を 線で むすんで ほういを 答えよう

ひづけ ＿＿＿＿＿＿＿＿

●は きんきの まわりの 県庁所在地の 場所です。地図の 上が 北です。
答えは「北東・南東・南西・北西」の 4つの、ななめの ほういだけです。

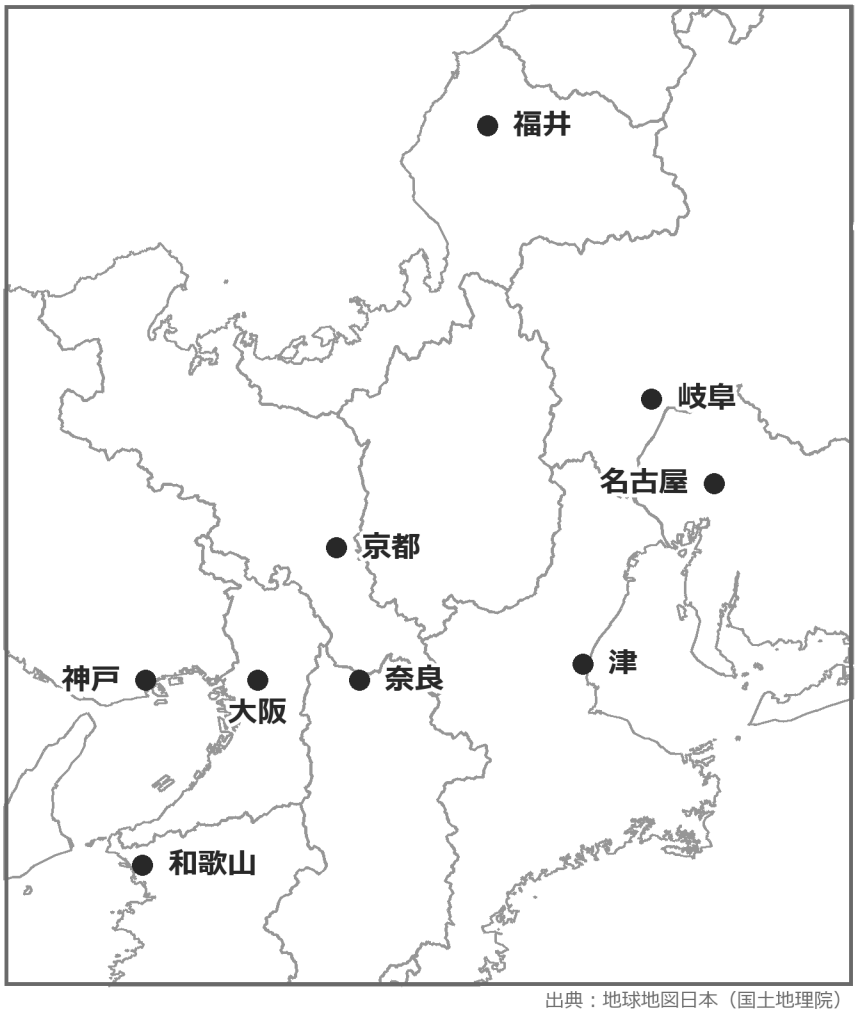

出典：地球地図日本（国土地理院）

ほういカード

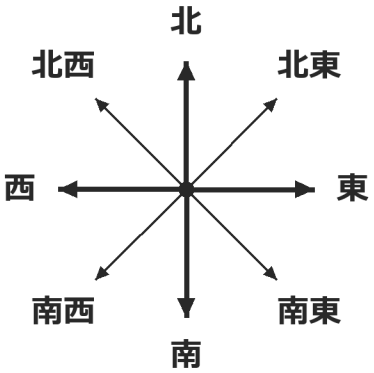

ほうい の 見つけ方

① もとの ●から ねらいの ●まで 線を ひく。

② 線の 向きに いちばん 近い 矢印の ほういを 答える。

① 奈良から 見て、岐阜は どの ほうい ですか。

② 福井から 見て、名古屋は どの ほうい ですか。

③ 岐阜から 見て、和歌山は どの ほうい ですか。

④ 名古屋から 見て、福井は どの ほうい ですか。

⑤ 和歌山から 見て、名古屋は どの ほうい ですか。

⑥ 岐阜から 見て、大阪は どの ほうい ですか。

いちごドリル プリント

つづきの無料プリント
「日本の白地図」のプリント一覧がひらきます

県庁所在地から 見た ほうい③（カードを 見ないで）

なまえ ＿＿＿＿＿＿＿＿

小3〜小5／●と ●を 線で むすんで ほういを 答えよう

ひづけ ＿＿＿＿＿＿＿＿

●は 東北の まわりの 県庁所在地の 場所です。地図の 上が 北です。
この 紙には ほういカードが ありません。先に 右の「反対の ほうい」を 書いて、思い出して 答えます。

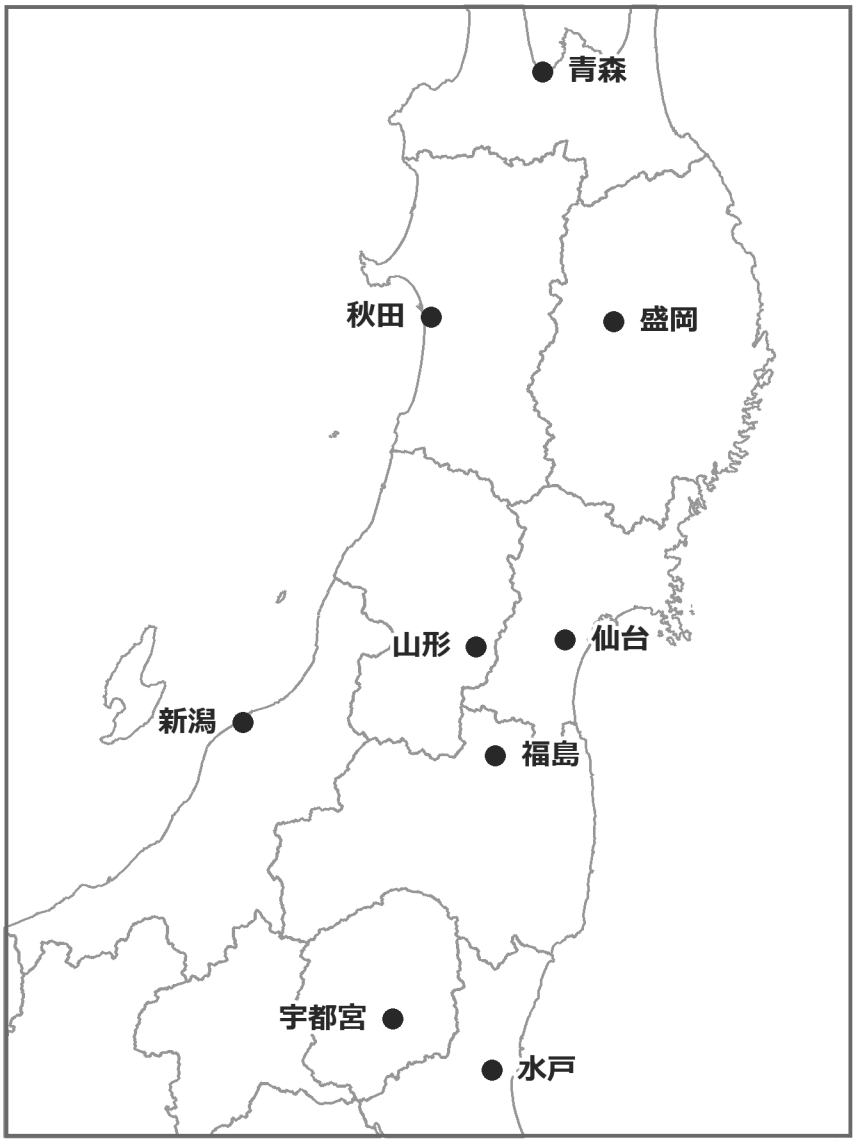

出典：地球地図日本（国土地理院）

反対の ほうい

（先に ここを 書きましょう）

北の 反対は

東の 反対は

北東の 反対は

南東の 反対は

① 新潟から 見て、盛岡は どの ほうい ですか。

② 盛岡から 見て、秋田は どの ほうい ですか。

③ 秋田から 見て、福島は どの ほうい ですか。

④ 新潟から 見て、福島は どの ほうい ですか。

⑤ 仙台から 見て、青森は どの ほうい ですか。

いちごドリル プリント

つづきの無料プリント
「日本の白地図」のプリント一覧がひらきます

県庁所在地から 見た ほうい④（さがそう）

なまえ ＿＿＿＿＿＿＿＿

小3〜小5／●と ●を 線で むすんで ほういを 答えよう

ひづけ ＿＿＿＿＿＿＿＿

●は 九州の まわりの 県庁所在地の 場所です。地図の 上が 北です。
もとの ●から 指定の ほういに ある ●を、あるだけ ぜんぶ 書きましょう。
反対の ほうい（北東なら 南西）は 入れません。答えは 1つか 2つ。□は あまっても かまいません。

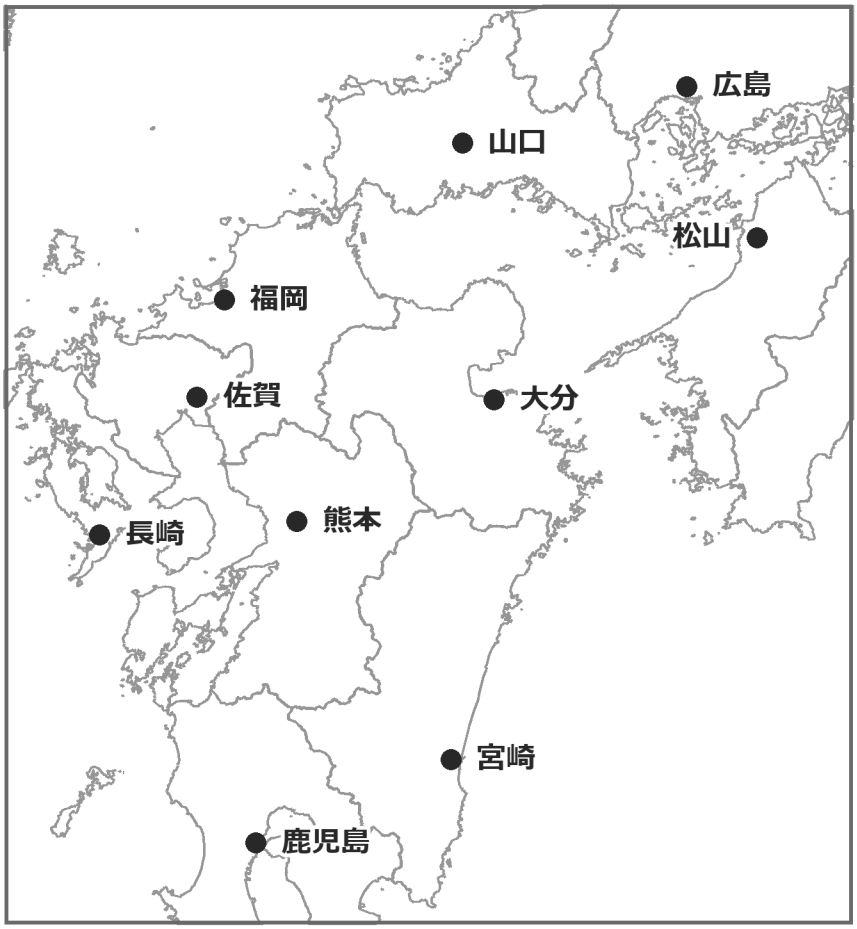

出典：地球地図日本（国土地理院）

ほういカード

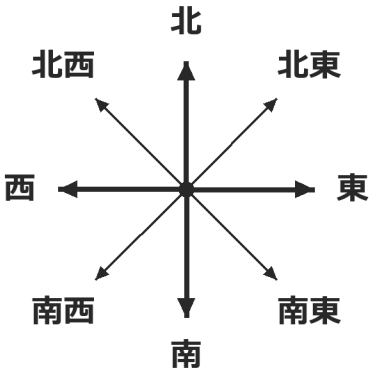

ほうい の 見つけ方

① もとの ●から ねらいの ●まで 線を ひく。

② 線の 向きに いちばん 近い 矢印の ほういを 答える。

① 佐賀から 見て、南東に ある 県庁所在地を ぜんぶ 書きましょう。

② 熊本から 見て、西に ある 県庁所在地を ぜんぶ 書きましょう。

③ 佐賀から 見て、南に ある 県庁所在地を ぜんぶ 書きましょう。

④ 熊本から 見て、南東に ある 県庁所在地を ぜんぶ 書きましょう。

いちごドリル プリント

つづきの無料プリント
「日本の白地図」のプリント一覧がひらきます

県庁所在地から 見た ほうい⑤（2つ 続けて 進もう）

なまえ ＿＿＿＿＿＿＿＿

小3〜小5／●と ●を 線で むすんで ほういを 答えよう

ひづけ ＿＿＿＿＿＿＿＿

●は 中国・四国の まわりの 県庁所在地の 場所です。地図の 上が 北です。
1つ目の ほういで 着いた ●を、新しい もとの ●に して、2つ目の ほういへ 進みます。
2つ目の ほういは、1つ目で 着いた ●から 見ます。さいしょの ●には もどりません。

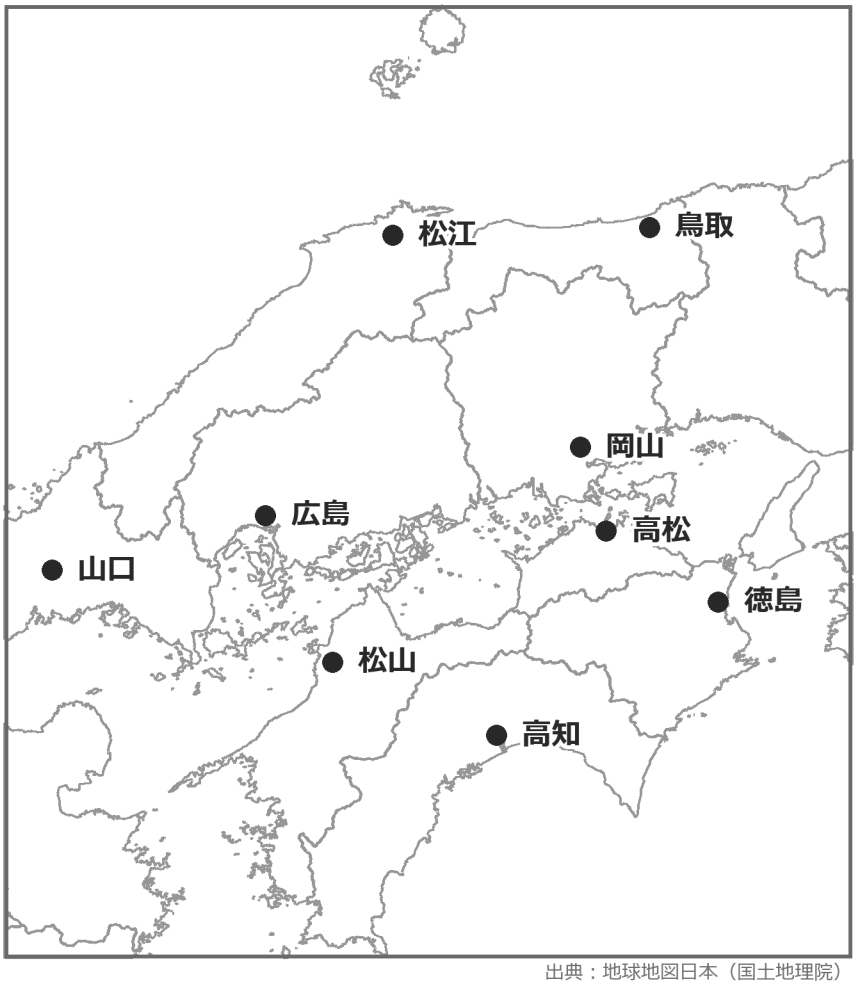

出典：地球地図日本（国土地理院）

ほういカード

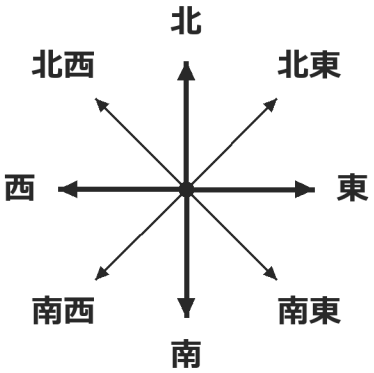

ほうい の 見つけ方

① もとの ●から ねらいの ●まで 線を ひく。
② 線の 向きに いちばん 近い 矢印の ほういを 答える。

① 山口から 見て 北東に ある ●の 1つは 松江です。松江から 見て 東に ある ●は どこ ですか。

② 広島から 見て 東に ある ●の 1つは 高松です。高松から 見て 南東に ある ●は どこ ですか。

③ 松山から 見て 北東に ある ●の 1つは 岡山です。岡山から 見て 北西に ある ●は どこ ですか。

④ 岡山から 見て 南東に ある ●の 1つは 徳島です。徳島から 見て 北に ある ●は どこ ですか。

いちごドリル プリント

つづきの無料プリント
「日本の白地図」のプリント一覧がひらきます

県庁所在地から 見た ほうい①【こたえ】

小3〜小5／●と ●を 線で むすんで ほういを 答えよう

なまえ ＿＿＿＿＿＿＿＿

ひづけ ＿＿＿＿＿＿＿＿

●は 県庁所在地の 場所です（名前の「市」は 省いて います）。地図の 上が 北です。
ほういは 右の ほういカードの 8つの 中から、いちばん 近い 矢印の ほういで 答えます。

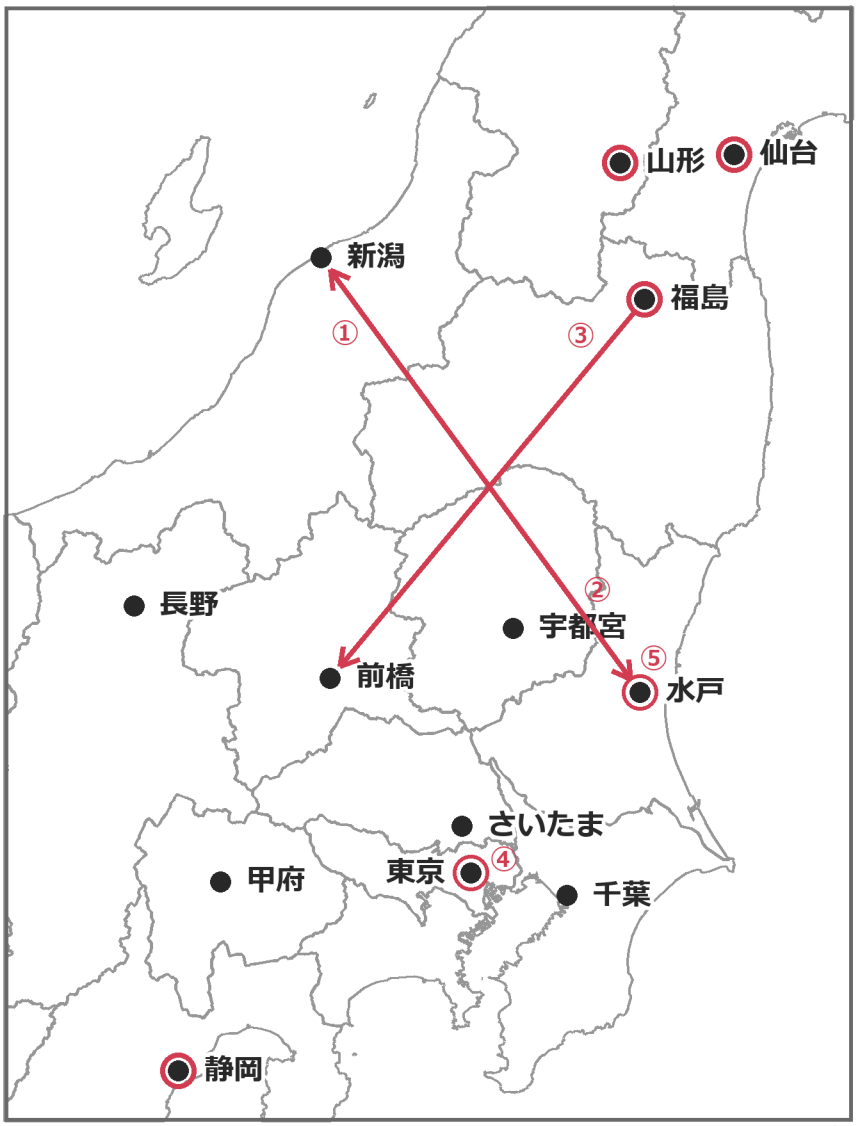

出典：地球地図日本（国土地理院）

ほういカード

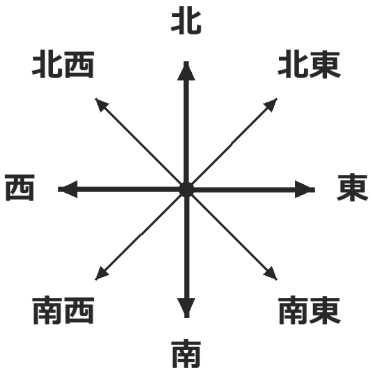

ほうい の 見つけ方

① 基準の ●から 目てきの ●まで 線を ひく。

② 線の 向きに いちばん 近い 矢印の ほういを 答える。

① 新潟から 見て、水戸は どの ほうい ですか。

南東

② 水戸から 見て、新潟は どの ほうい ですか。

北西

③ 福島から 見て、前橋は どの ほうい ですか。

南西

④ 東京から 見て、南西に ある 県庁所在地を ぜんぶ 書きましょう。

静岡

⑤ 水戸から 見て、北に ある 県庁所在地を ぜんぶ 書きましょう。

仙台　山形　福島

第2問は 第1問と 同じ 2つの ●。基準が かわると ほういは 反対に なる。
第4・5問は、基準の ●と 答えの ●を 赤い 輪で かこんで います。

いちごドリル プリント

県庁所在地から 見た ほうい②（ななめの ほうい）【こたえ】

なまえ ＿＿＿＿＿＿＿＿

小3〜小5／●と ●を 線で むすんで ほういを 答えよう

ひづけ ＿＿＿＿＿＿＿＿

●は きんきの まわりの 県庁所在地の 場所です。地図の 上が 北です。
答えは「北東・南東・南西・北西」の 4つの、ななめの ほういだけです。

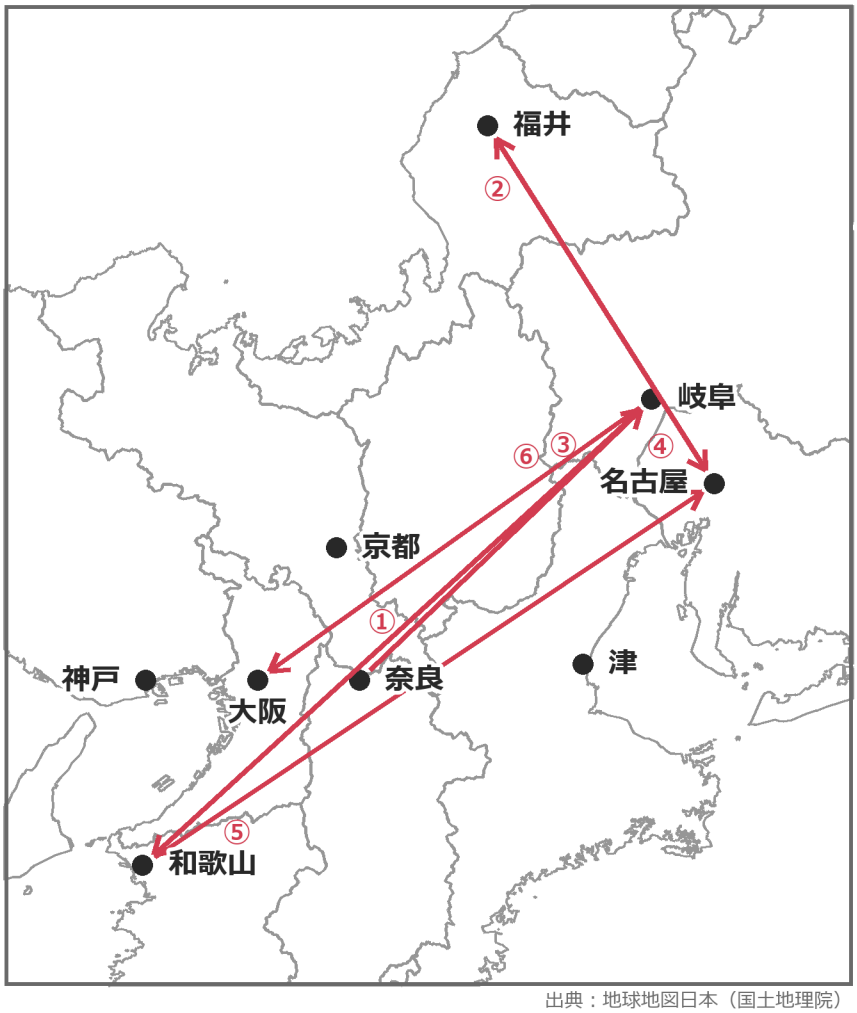

出典：地球地図日本（国土地理院）

ほういカード

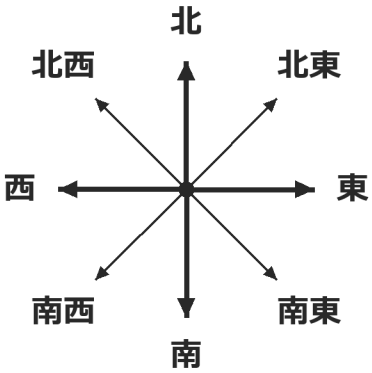

ほうい の 見つけ方

① もとの ●から ねらいの ●まで 線を ひく。

② 線の 向きに いちばん 近い 矢印の ほういを 答える。

① 奈良から 見て、岐阜は どの ほうい ですか。

北東

② 福井から 見て、名古屋は どの ほうい ですか。

南東

③ 岐阜から 見て、和歌山は どの ほうい ですか。

南西

④ 名古屋から 見て、福井は どの ほうい ですか。

北西

⑤ 和歌山から 見て、名古屋は どの ほうい ですか。

北東

⑥ 岐阜から 見て、大阪は どの ほうい ですか。

南西

答えは ぜんぶ ななめの ほうい（北東・南東・南西・北西）。
まちがえたら「東・西・南・北の どちらかに 近づけて 答えて いないか」を 聞いて みてください。
北東は 北と 東の 間、南西は 南と 西の 間。真ん中に 近い ほど、ななめの ほういに なります。
②と④は 同じ 2つの ●。基準が かわると ほういは 反対に なります。

県庁所在地から 見た ほうい③（カードを 見ないで）【こたえ】

なまえ ＿＿＿＿＿＿＿＿

小3〜小5／●と ●を 線で むすんで ほういを 答えよう

ひづけ ＿＿＿＿＿＿＿＿

●は 東北の まわりの 県庁所在地の 場所です。地図の 上が 北です。
この 紙には ほういカードが ありません。先に 右の「反対の ほうい」を 書いて、思い出して 答えます。

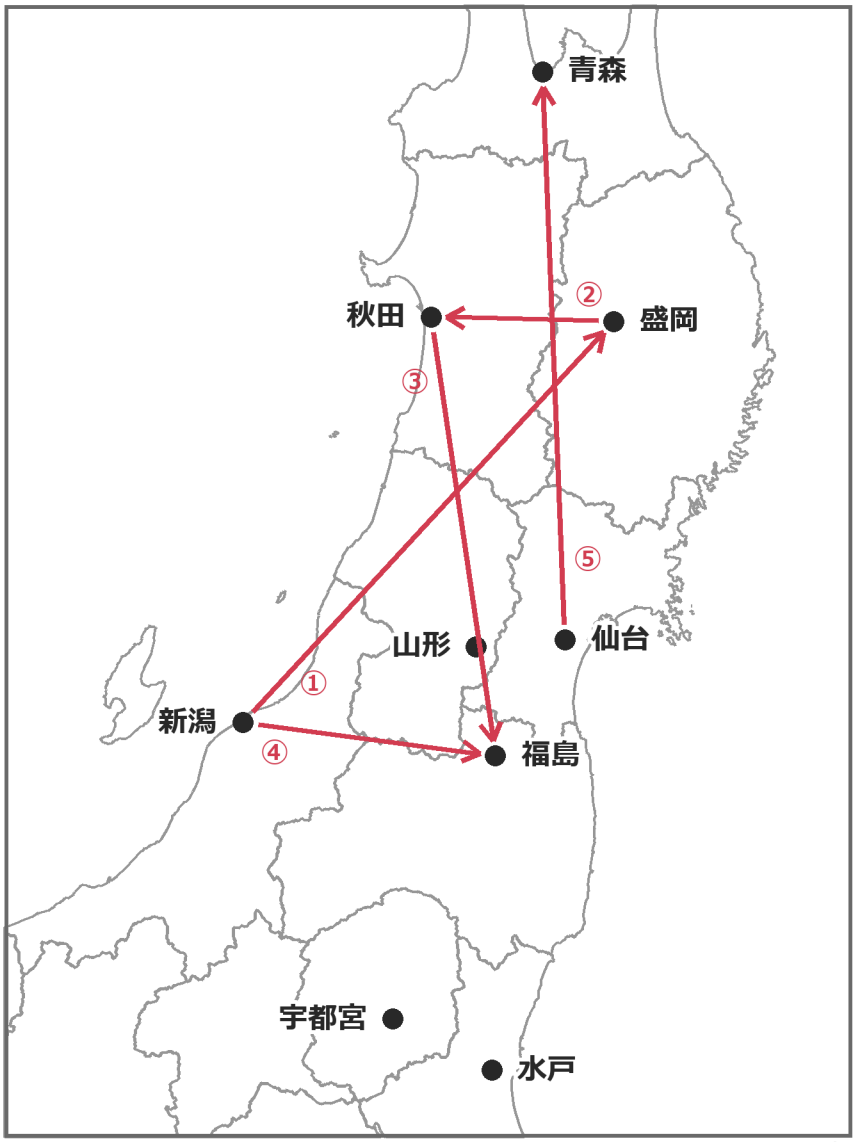

出典：地球地図日本（国土地理院）

反対の ほうい

（先に ここを 書きましょう）

北の 反対は

南

東の 反対は

西

北東の 反対は

南西

南東の 反対は

北西

① 新潟から 見て、盛岡は どの ほうい ですか。

北東

② 盛岡から 見て、秋田は どの ほうい ですか。

西

③ 秋田から 見て、福島は どの ほうい ですか。

南

④ 新潟から 見て、福島は どの ほうい ですか。

東

⑤ 仙台から 見て、青森は どの ほうい ですか。

北

ほういカードを 見ないで 答える 練習です。まちがえたら、右上の「反対の ほうい」を 確かめて ください。
北東は 北と 東の 間、南東は 南と 東の 間。真ん中に 近い ほど、ななめの ほういに なります。

県庁所在地から 見た ほうい④（さがそう）【こたえ】

なまえ ＿＿＿＿＿＿＿＿

小3〜小5／●と ●を 線で むすんで ほういを 答えよう

ひづけ ＿＿＿＿＿＿＿＿

●は 九州の まわりの 県庁所在地の 場所です。地図の 上が 北です。
もとの ●から 指定の ほういに ある ●を、あるだけ ぜんぶ 書きましょう。
反対の ほうい（北東なら 南西）は 入れません。答えは 1つか 2つ。□は あまっても かまいません。

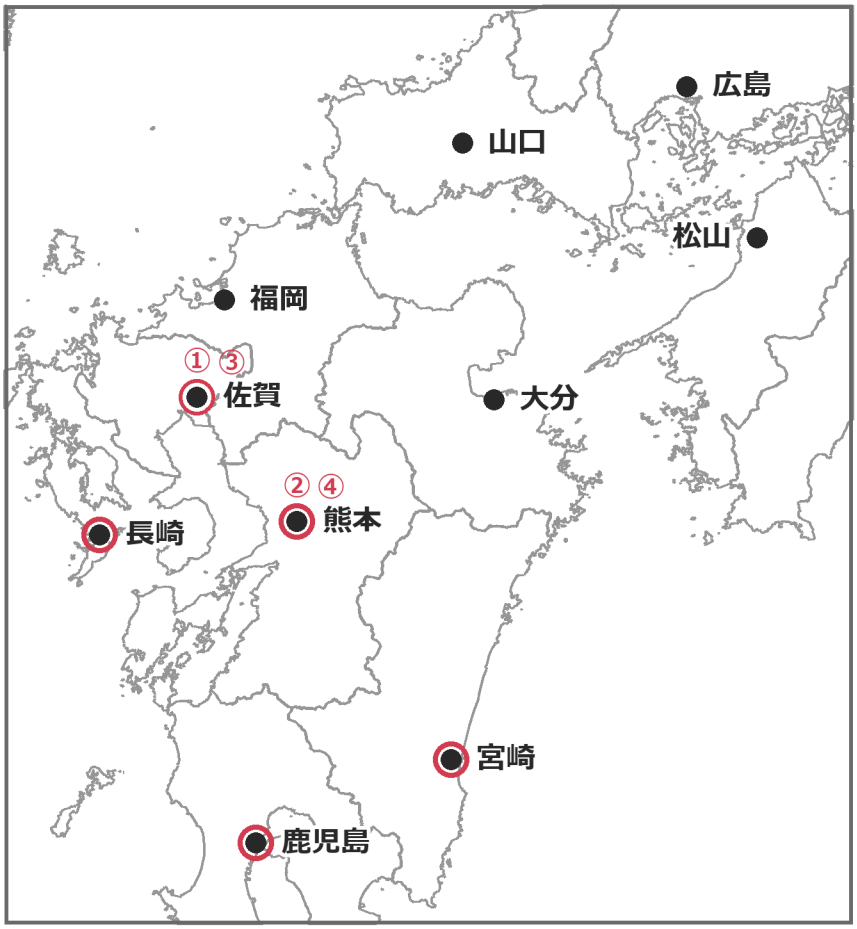

出典：地球地図日本（国土地理院）

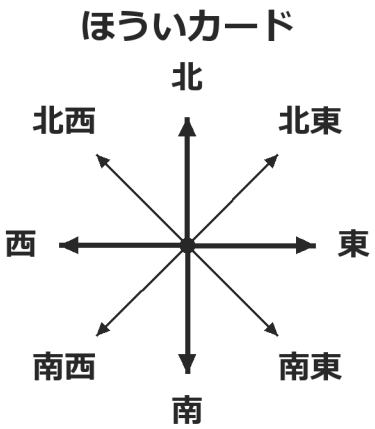

ほうい の 見つけ方

① もとの ●から ねらいの ●まで 線を ひく。

② 線の 向きに いちばん 近い 矢印の ほういを 答える。

① 佐賀から 見て、南東に ある 県庁所在地を ぜんぶ 書きましょう。

熊本　宮崎

② 熊本から 見て、西に ある 県庁所在地を ぜんぶ 書きましょう。

長崎

③ 佐賀から 見て、南に ある 県庁所在地を ぜんぶ 書きましょう。

鹿児島

④ 熊本から 見て、南東に ある 県庁所在地を ぜんぶ 書きましょう。

宮崎

答えの 数は 問題ごとに ちがう（①2つ・②1つ・③1つ・④1つ）。□は あまって いて よい。
矢印に いちばん 近い ほういの ●だけが 答え。①の 福岡は 北・長崎は 南西なので 入りません。

県庁所在地から 見た ほうい⑤（2つ 続けて 進もう）【こたえ】

なまえ ＿＿＿＿＿＿＿＿

小3〜小5／●と ●を 線で むすんで ほういを 答えよう

ひづけ ＿＿＿＿＿＿＿＿

●は 中国・四国の まわりの 県庁所在地の 場所です。地図の 上が 北です。
1つ目の ほういで 着いた ●を、新しい もとの ●に して、2つ目の ほういへ 進みます。
2つ目の ほういは、1つ目で 着いた ●から 見ます。さいしょの ●には もどりません。

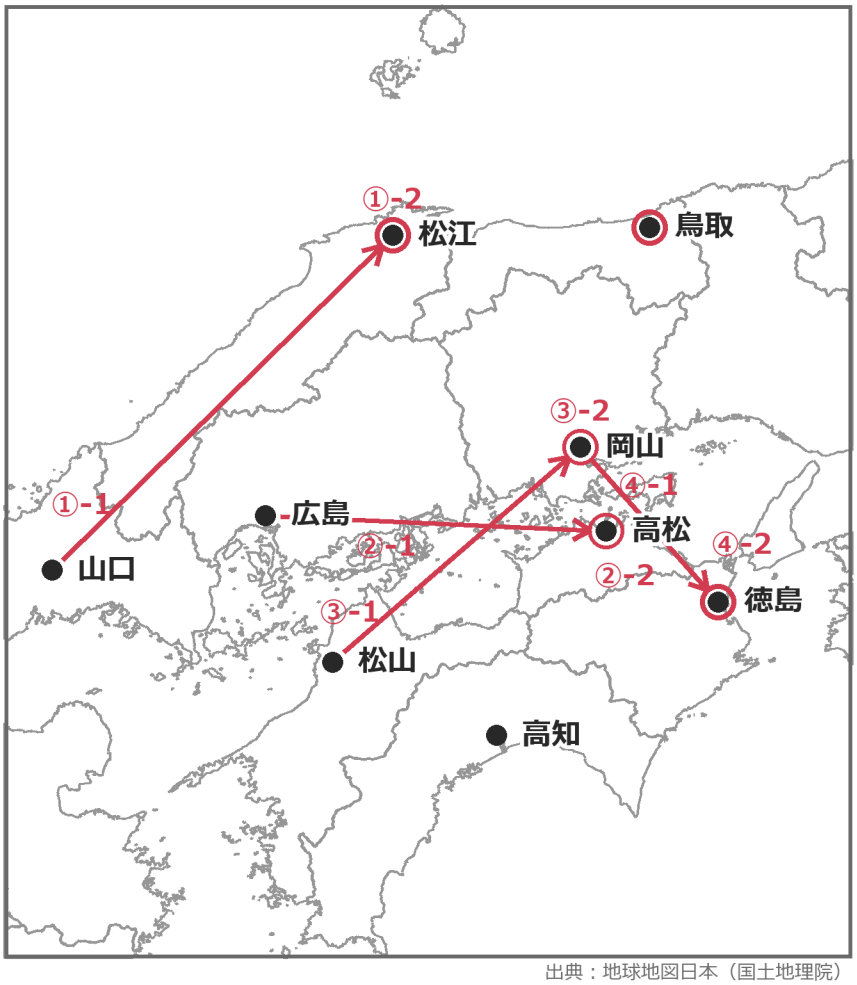

出典：地球地図日本（国土地理院）

ほういカード

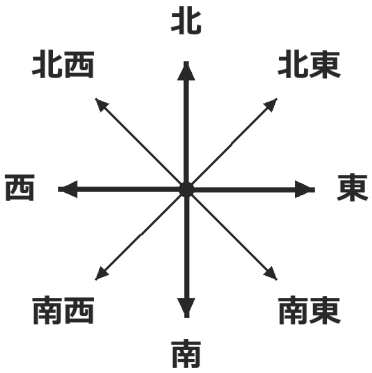

ほうい の 見つけ方

① もとの ●から ねらいの ●まで 線を ひく。
② 線の 向きに いちばん 近い 矢印の ほういを 答える。

① 山口から 見て 北東に ある ●の 1つは 松江です。松江から 見て 東に ある ●は どこ ですか。

鳥取

② 広島から 見て 東に ある ●の 1つは 高松です。高松から 見て 南東に ある ●は どこ ですか。

徳島

③ 松山から 見て 北東に ある ●の 1つは 岡山です。岡山から 見て 北西に ある ●は どこ ですか。

松江

④ 岡山から 見て 南東に ある ●の 1つは 徳島です。徳島から 見て 北に ある ●は どこ ですか。

鳥取

2つ目の ほういは、1つ目で 着いた ●が 新しい もとの ●。さいしょの ●には もどりません。