県庁所在地から 見た ほうい⑤（2つ 続けて 進もう）

なまえ ＿＿＿＿＿＿＿＿

小3〜小5／●と ●を 線で むすんで ほういを 答えよう

ひづけ ＿＿＿＿＿＿＿＿

●は 中国・四国の まわりの 県庁所在地の 場所です。地図の 上が 北です。
1つ目の ほういで 着いた ●を、新しい もとの ●に して、2つ目の ほういへ 進みます。
2つ目の ほういは、1つ目で 着いた ●から 見ます。さいしょの ●には もどりません。

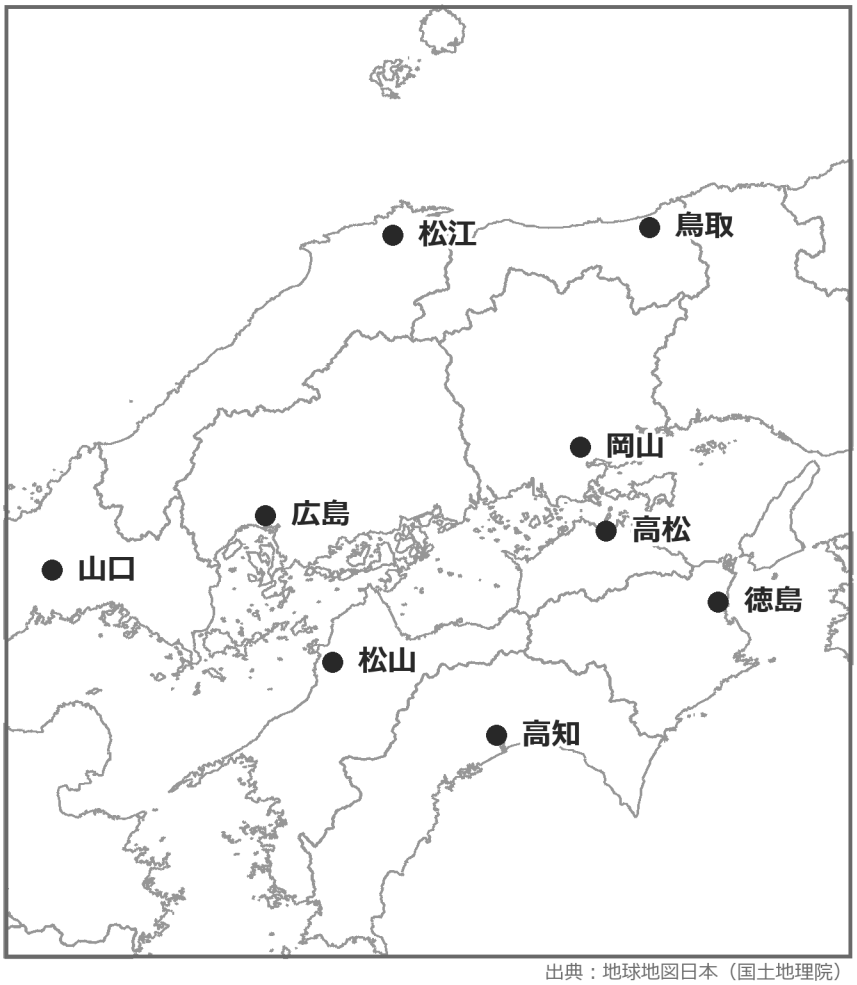

出典：地球地図日本（国土地理院）

ほういカード

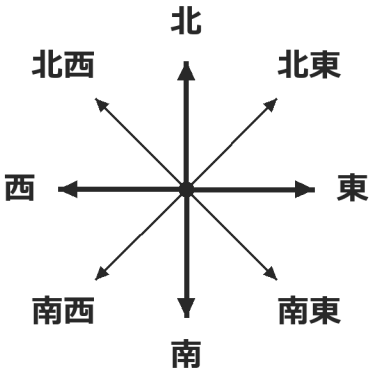

ほうい の 見つけ方

① もとの ●から ねらいの ●まで 線を ひく。
② 線の 向きに いちばん 近い 矢印の ほういを 答える。

① 山口から 見て 北東に ある ●の 1つは 松江です。松江から 見て 東に ある ●は どこ ですか。

② 広島から 見て 東に ある ●の 1つは 高松です。高松から 見て 南東に ある ●は どこ ですか。

③ 松山から 見て 北東に ある ●の 1つは 岡山です。岡山から 見て 北西に ある ●は どこ ですか。

④ 岡山から 見て 南東に ある ●の 1つは 徳島です。徳島から 見て 北に ある ●は どこ ですか。

いちごドリル プリント

つづきの無料プリント
「日本の白地図」のプリント一覧がひらきます

県庁所在地から 見た ほうい⑤（2つ 続けて 進もう）【こたえ】

なまえ ＿＿＿＿＿＿＿＿

小3〜小5／●と ●を 線で むすんで ほういを 答えよう

ひづけ ＿＿＿＿＿＿＿＿

●は 中国・四国の まわりの 県庁所在地の 場所です。地図の 上が 北です。
1つ目の ほういで 着いた ●を、新しい もとの ●に して、2つ目の ほういへ 進みます。
2つ目の ほういは、1つ目で 着いた ●から 見ます。さいしょの ●には もどりません。

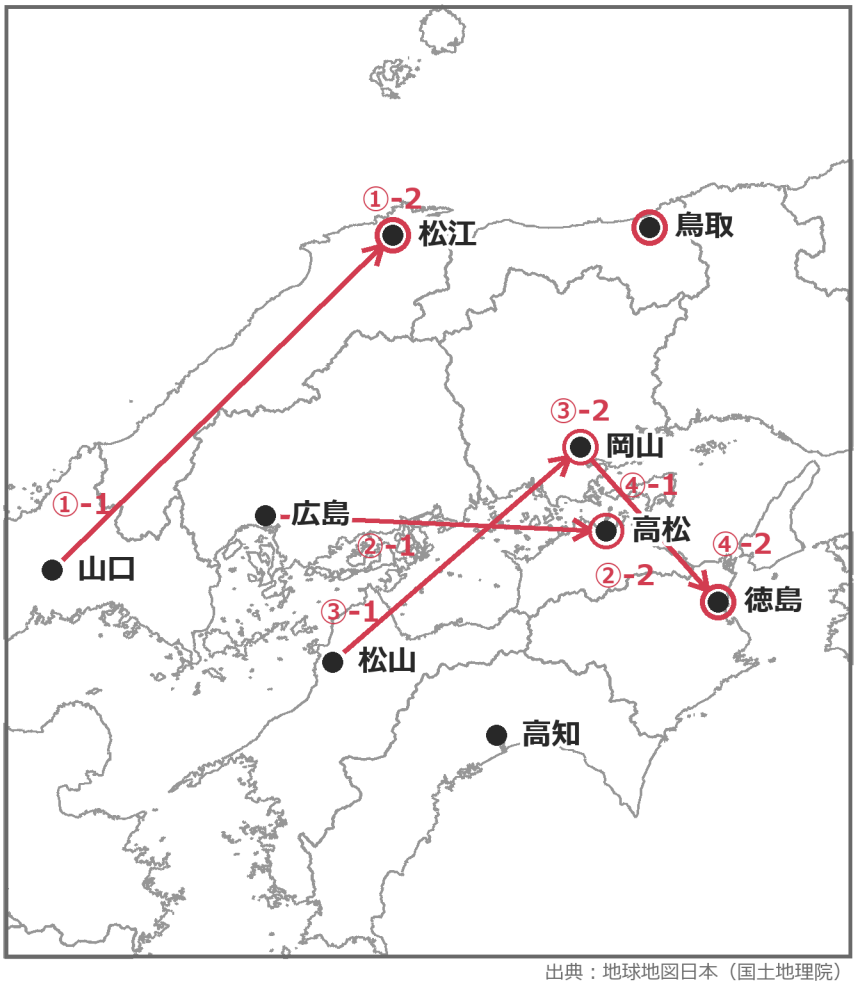

出典：地球地図日本（国土地理院）

ほういカード

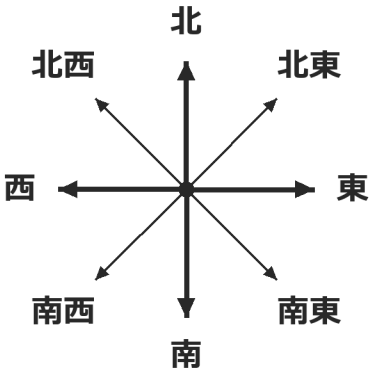

ほうい の 見つけ方

① もとの ●から ねらいの ●まで 線を ひく。
② 線の 向きに いちばん 近い 矢印の ほういを 答える。

① 山口から 見て 北東に ある ●の 1つは 松江です。松江から 見て 東に ある ●は どこ ですか。

鳥取

② 広島から 見て 東に ある ●の 1つは 高松です。高松から 見て 南東に ある ●は どこ ですか。

徳島

③ 松山から 見て 北東に ある ●の 1つは 岡山です。岡山から 見て 北西に ある ●は どこ ですか。

松江

④ 岡山から 見て 南東に ある ●の 1つは 徳島です。徳島から 見て 北に ある ●は どこ ですか。

鳥取

2つ目の ほういは、1つ目で 着いた ●が 新しい もとの ●。さいしょの ●には もどりません。