県庁所在地から 見た ほうい④（さがそう）

なまえ ＿＿＿＿＿＿＿＿

小3〜小5／●と ●を 線で むすんで ほういを 答えよう

ひづけ ＿＿＿＿＿＿＿＿

●は 九州の まわりの 県庁所在地の 場所です。地図の 上が 北です。
もとの ●から 指定の ほういに ある ●を、あるだけ ぜんぶ 書きましょう。
反対の ほうい（北東なら 南西）は 入れません。答えは 1つか 2つ。□は あまっても かまいません。

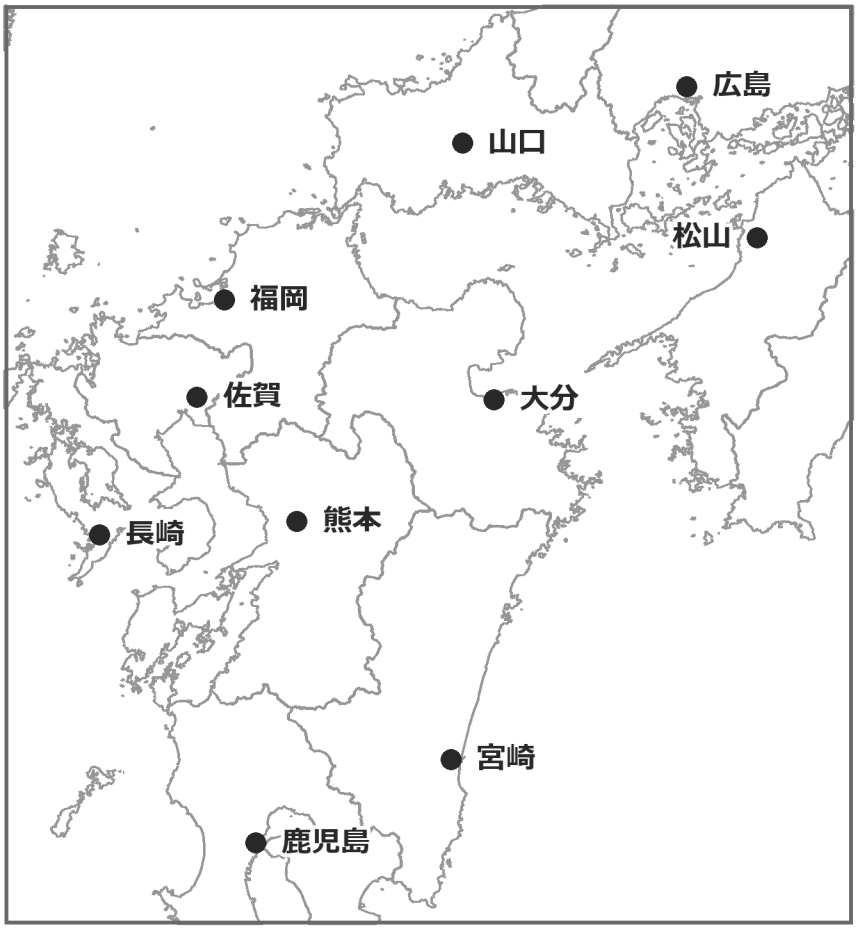

出典：地球地図日本（国土地理院）

ほういカード

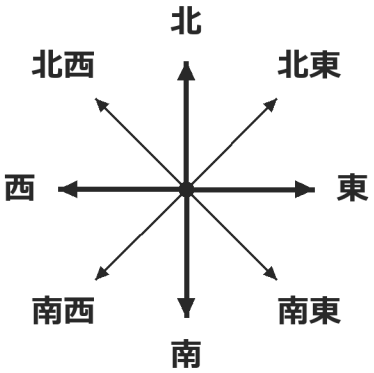

ほうい の 見つけ方

① もとの ●から ねらいの ●まで 線を ひく。

② 線の 向きに いちばん 近い 矢印の ほういを 答える。

① 佐賀から 見て、南東に ある 県庁所在地を ぜんぶ 書きましょう。

② 熊本から 見て、西に ある 県庁所在地を ぜんぶ 書きましょう。

③ 佐賀から 見て、南に ある 県庁所在地を ぜんぶ 書きましょう。

④ 熊本から 見て、南東に ある 県庁所在地を ぜんぶ 書きましょう。

いちごドリル プリント

つづきの無料プリント
「日本の白地図」のプリント一覧がひらきます

県庁所在地から 見た ほうい④（さがそう）【こたえ】

なまえ ＿＿＿＿＿＿＿＿

小3〜小5／●と ●を 線で むすんで ほういを 答えよう

ひづけ ＿＿＿＿＿＿＿＿

●は 九州の まわりの 県庁所在地の 場所です。地図の 上が 北です。
もとの ●から 指定の ほういに ある ●を、あるだけ ぜんぶ 書きましょう。
反対の ほうい（北東なら 南西）は 入れません。答えは 1つか 2つ。□は あまっても かまいません。

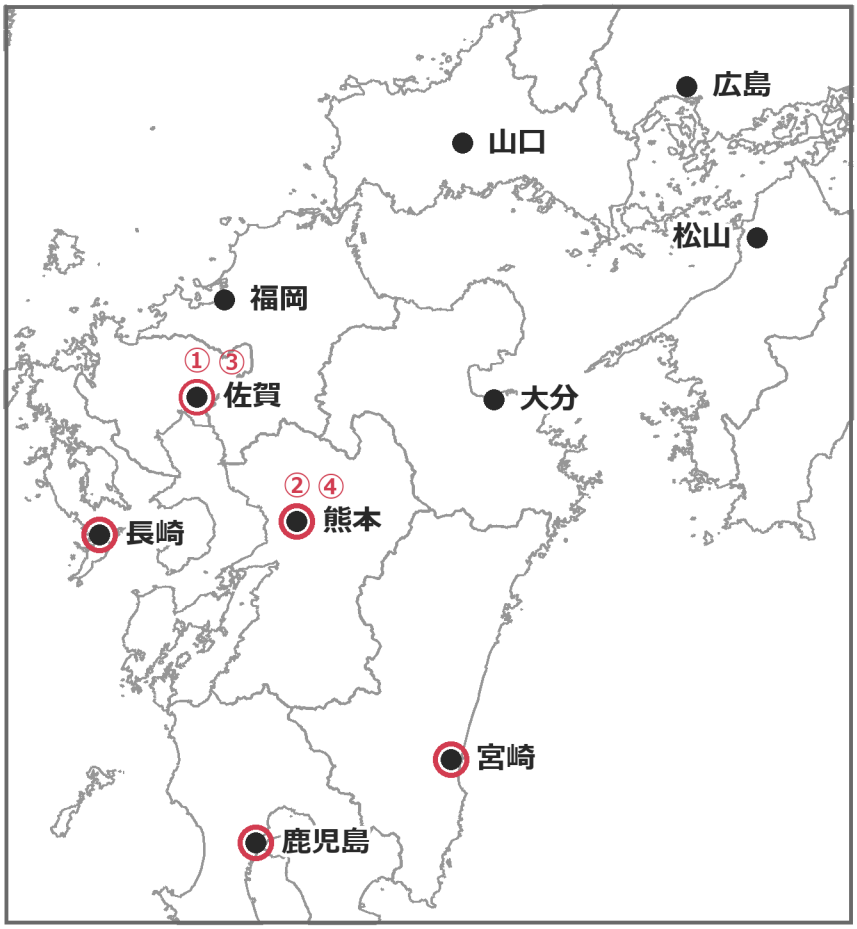

出典：地球地図日本（国土地理院）

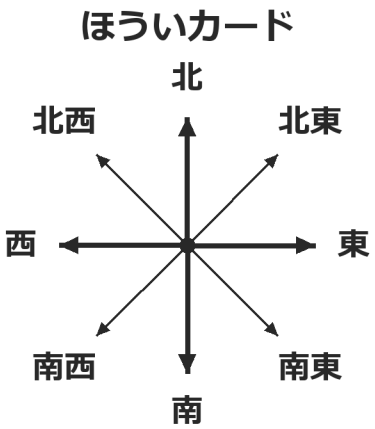

ほうい の 見つけ方

① もとの ●から ねらいの ●まで 線を ひく。

② 線の 向きに いちばん 近い 矢印の ほういを 答える。

① 佐賀から 見て、南東に ある 県庁所在地を ぜんぶ 書きましょう。

熊本　宮崎

② 熊本から 見て、西に ある 県庁所在地を ぜんぶ 書きましょう。

長崎

③ 佐賀から 見て、南に ある 県庁所在地を ぜんぶ 書きましょう。

鹿児島

④ 熊本から 見て、南東に ある 県庁所在地を ぜんぶ 書きましょう。

宮崎

答えの 数は 問題ごとに ちがう（①2つ・②1つ・③1つ・④1つ）。□は あまって いて よい。
矢印に いちばん 近い ほういの ●だけが 答え。①の 福岡は 北・長崎は 南西なので 入りません。