県庁所在地から 見た ほうい②（ななめの ほうい）

なまえ ＿＿＿＿＿＿＿＿

小3〜小5／●と ●を 線で むすんで ほういを 答えよう

ひづけ ＿＿＿＿＿＿＿＿

●は きんきの まわりの 県庁所在地の 場所です。地図の 上が 北です。
答えは「北東・南東・南西・北西」の 4つの、ななめの ほういだけです。

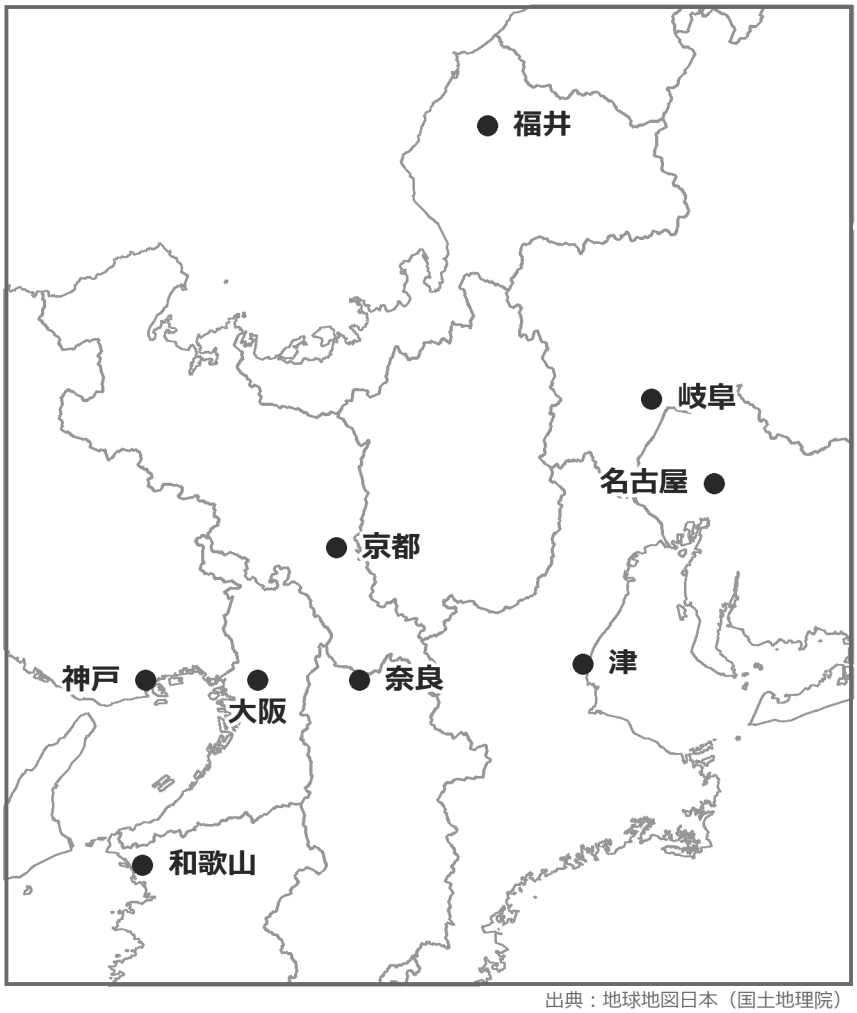

出典：地球地図日本（国土地理院）

ほういカード

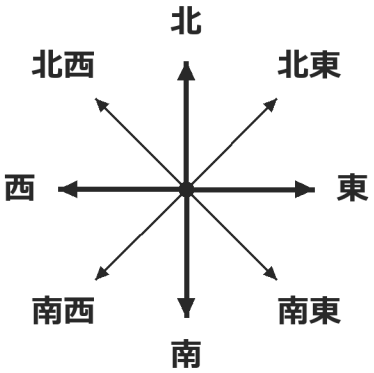

ほうい の 見つけ方

① もとの ●から ねらいの ●まで 線を ひく。

② 線の 向きに いちばん 近い 矢印の ほういを 答える。

① 奈良から 見て、岐阜は どの ほうい ですか。

② 福井から 見て、名古屋は どの ほうい ですか。

③ 岐阜から 見て、和歌山は どの ほうい ですか。

④ 名古屋から 見て、福井は どの ほうい ですか。

⑤ 和歌山から 見て、名古屋は どの ほうい ですか。

⑥ 岐阜から 見て、大阪は どの ほうい ですか。

いちごドリル プリント

つづきの無料プリント
「日本の白地図」のプリント一覧がひらきます

県庁所在地から 見た ほうい②（ななめの ほうい）【こたえ】

なまえ ＿＿＿＿＿＿＿＿

小3〜小5／●と ●を 線で むすんで ほういを 答えよう

ひづけ ＿＿＿＿＿＿＿＿

●は きんきの まわりの 県庁所在地の 場所です。地図の 上が 北です。
答えは「北東・南東・南西・北西」の 4つの、ななめの ほういだけです。

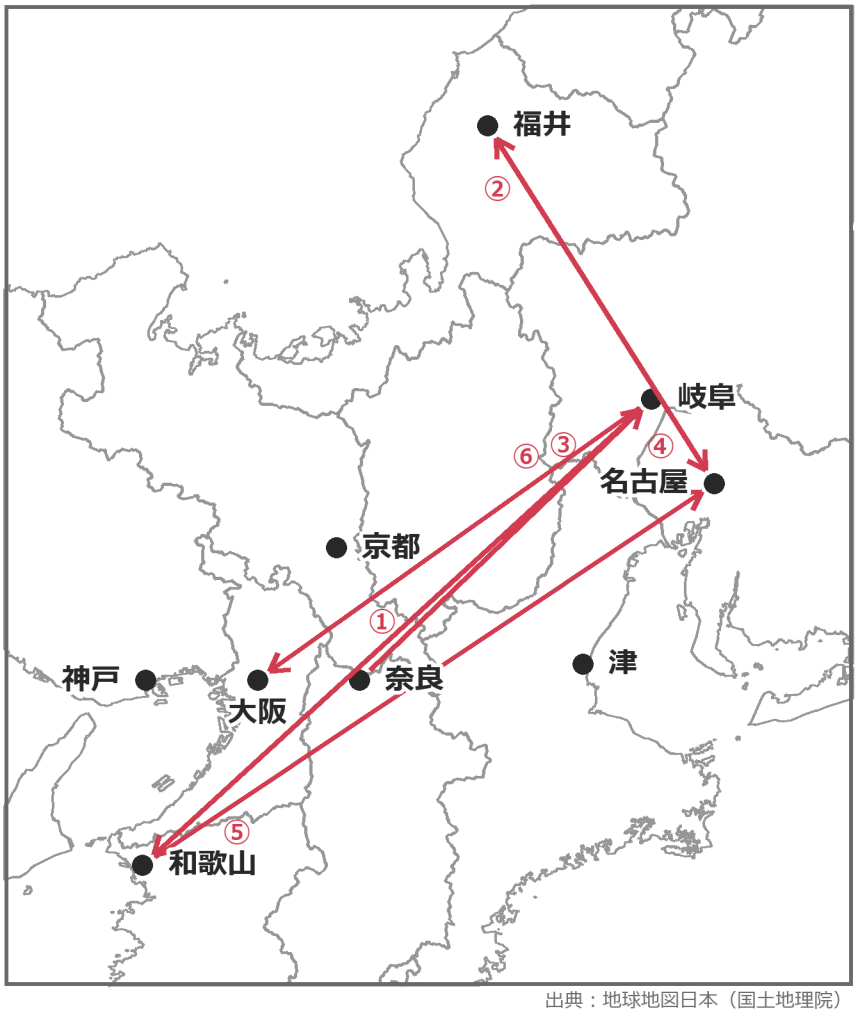

出典：地球地図日本（国土地理院）

ほういカード

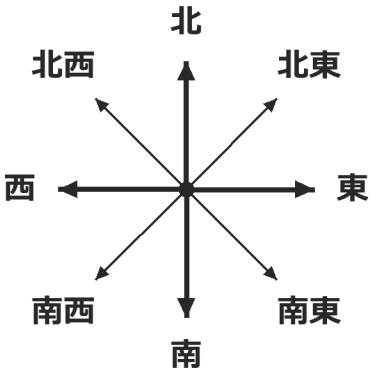

ほうい の 見つけ方

① もとの ●から ねらいの ●まで 線を ひく。

② 線の 向きに いちばん 近い 矢印の ほういを 答える。

① 奈良から 見て、岐阜は どの ほうい ですか。

北東

② 福井から 見て、名古屋は どの ほうい ですか。

南東

③ 岐阜から 見て、和歌山は どの ほうい ですか。

南西

④ 名古屋から 見て、福井は どの ほうい ですか。

北西

⑤ 和歌山から 見て、名古屋は どの ほうい ですか。

北東

⑥ 岐阜から 見て、大阪は どの ほうい ですか。

南西

答えは ぜんぶ ななめの ほうい（北東・南東・南西・北西）。
まちがえたら「東・西・南・北の どちらかに 近づけて 答えて いないか」を 聞いて みてください。
北東は 北と 東の 間、南西は 南と 西の 間。真ん中に 近い ほど、ななめの ほういに なります。
②と④は 同じ 2つの ●。基準が かわると ほういは 反対に なります。