小3 たし算とひき算の筆算 そうごうテスト（その1）

なまえ ＿＿＿＿＿＿＿＿

全12問 100点

ひづけ ＿＿＿＿＿＿ /100

筆算のマスを使ってとく。答えは下線に書く。たしかめの式は、3つの式から正しいものに○をつける

1 478 ＋ 256 ＝ ＿＿＿＿＿＿

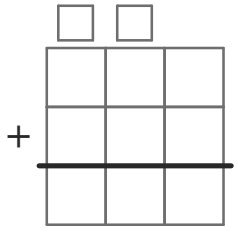

8点

2 4003 － 1578 ＝ ＿＿＿＿＿＿



8点

3 389 ＋ 4897 ＝ ＿＿＿＿＿＿

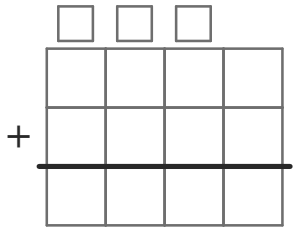

8点

4 812 － 375 ＝ 437

たしかめの式に○をつけよう

437－375
437＋375
437＋812

8点

5 623 － 485 ＝ ＿＿＿＿＿＿

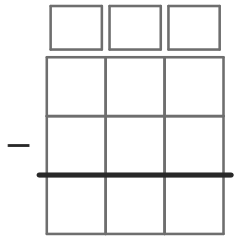

8点

6 3678 ＋ 4529 ＝ ＿＿＿＿＿＿

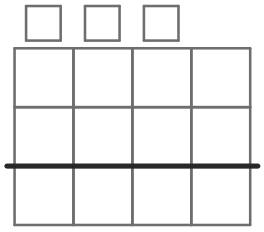

8点

7 2754 ＋ 5381 ＝ ＿＿＿＿＿＿

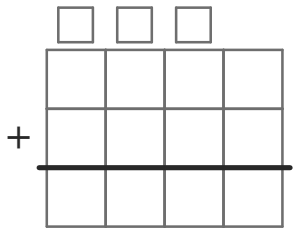

8点

8 258 ＋ 3476 ＝ ＿＿＿＿＿＿

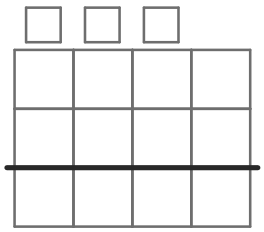

8点

9 5426 － 2879 ＝ ＿＿＿＿＿＿

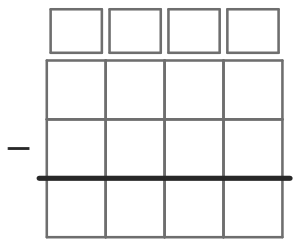

9点

10 900 － 250 ＝ 650

たしかめの式に○をつけよう

650－250
650＋900
650＋250

9点

11 359 ＋ 127 ＝ ＿＿＿＿＿＿

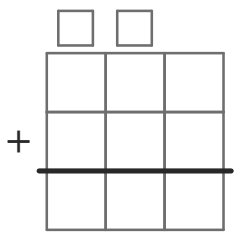

9点

12 704 － 268 ＝ ＿＿＿＿＿＿

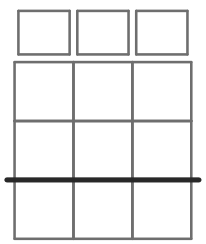

9点

いちごドリル プリント

つづきの無料プリント
「小3のたし算とひき算の…」のプリント一覧がひらきます

小3 たし算とひき算の筆算 とっくんドリル①-1

なまえ ＿＿＿＿＿＿＿＿

くり上がりを、わすれずに足す 全8問

ひづけ ＿＿＿＿＿＿＿＿

筆算のマスを使ってとく。くり上がりは、次のくらいの上の小さなマスに書く。答えは下線に書く

1 684 + 579 = ＿＿＿＿＿＿

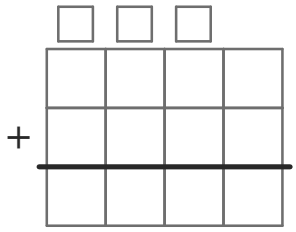

2 1972 + 7216 = ＿＿＿＿＿＿

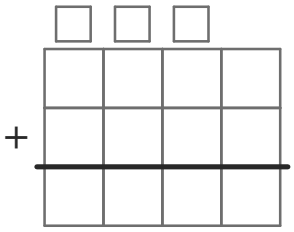

3 578 + 256 = ＿＿＿＿＿＿

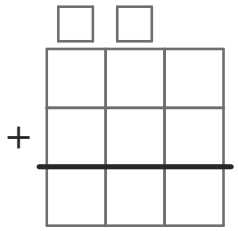

4 3178 + 2888 = ＿＿＿＿＿＿

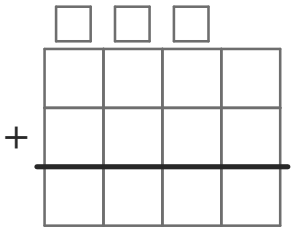

5 597 + 257 = ＿＿＿＿＿＿

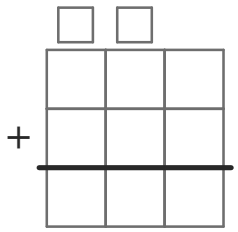

6 1466 + 4684 = ＿＿＿＿＿＿

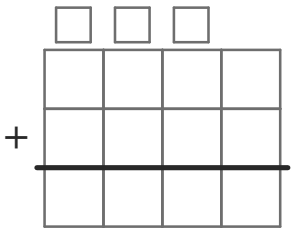

7 789 + 295 = ＿＿＿＿＿＿

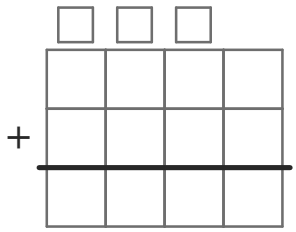

8 1831 + 6585 = ＿＿＿＿＿＿

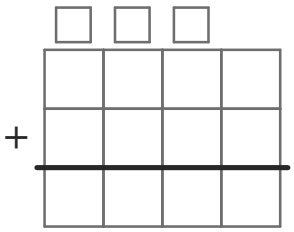

いちごドリル プリント

つづきの無料プリント
「小3のたし算とひき算の…」のプリント一覧がひらきます

小3 たし算とひき算の筆算 とっくんドリル①-2

なまえ ＿＿＿＿＿＿＿＿

くり上がりを、わすれずに足す 全8問

ひづけ ＿＿＿＿＿＿＿＿

筆算のマスを使ってとく。くり上がりは、次のくらいの上の小さなマスに書く。答えは下線に書く

1 314 + 686 = ＿＿＿＿

□ □ □

+			

2 2716 + 6489 = ＿＿＿＿

□ □ □

+			

3 876 + 337 = ＿＿＿＿

□ □ □

+			

4 2765 + 2679 = ＿＿＿＿

□ □ □

+			

5 734 + 626 = ＿＿＿＿

□ □ □

+			

6 1832 + 5697 = ＿＿＿＿

□ □ □

+			

7 168 + 946 = ＿＿＿＿

□ □ □

+			

8 3711 + 4586 = ＿＿＿＿

□ □ □

+			

いちごドリル プリント

つづきの無料プリント
「小3のたし算とひき算の…」のプリント一覧がひらきます

小3 たし算とひき算の筆算 とっくんドリル①-3

なまえ ＿＿＿＿＿＿＿＿

くり上がりを、わすれずに足す 全8問

ひづけ ＿＿＿＿＿＿＿＿

筆算のマスを使ってとく。くり上がりは、次のくらいの上の小さなマスに書く。答えは下線に書く

1 994 + 198 = ＿＿＿＿

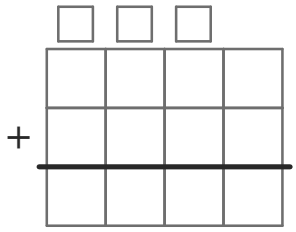

2 2742 + 5792 = ＿＿＿＿

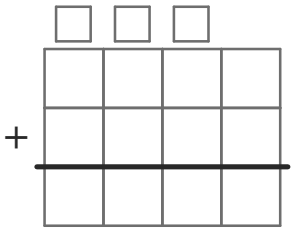

3 579 + 311 = ＿＿＿＿

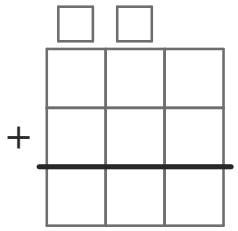

4 1293 + 2961 = ＿＿＿＿

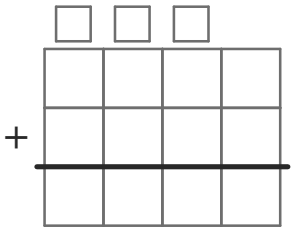

5 769 + 222 = ＿＿＿＿

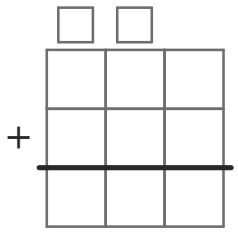

6 5664 + 3454 = ＿＿＿＿

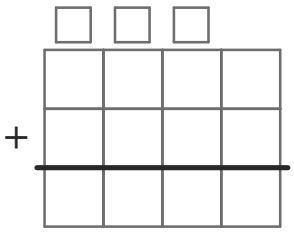

7 191 + 339 = ＿＿＿＿

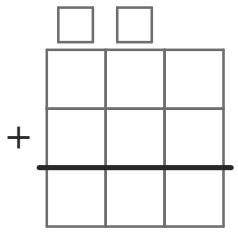

8 2772 + 2416 = ＿＿＿＿

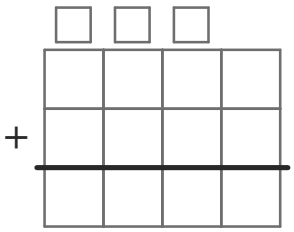

いちごドリル プリント

つづきの無料プリント
「小3のたし算とひき算の…」のプリント一覧がひらきます

小3 たし算とひき算の筆算 とっくんドリル①-4

なまえ ＿＿＿＿＿＿＿＿

くり上がりを、わすれずに足す 全8問

ひづけ ＿＿＿＿＿＿＿＿

筆算のマスを使ってとく。くり上がりは、次のくらいの上の小さなマスに書く。答えは下線に書く

1 633 + 129 = ＿＿＿＿

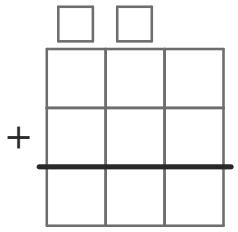

2 1659 + 7555 = ＿＿＿＿

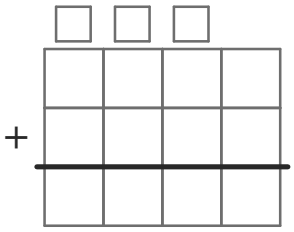

3 565 + 959 = ＿＿＿＿

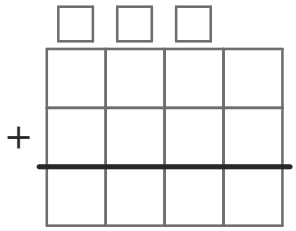

4 6994 + 2746 = ＿＿＿＿

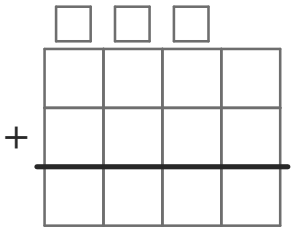

5 858 + 242 = ＿＿＿＿

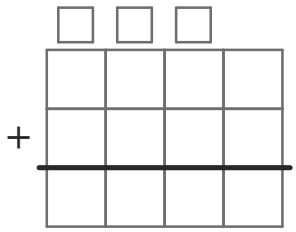

6 4761 + 1665 = ＿＿＿＿

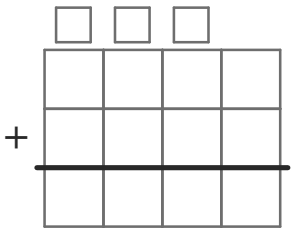

7 427 + 725 = ＿＿＿＿

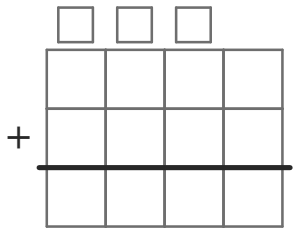

8 4565 + 4611 = ＿＿＿＿

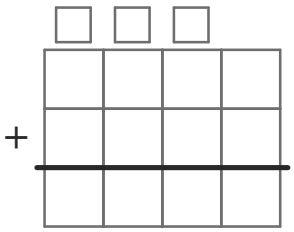

いちごドリル プリント

つづきの無料プリント
「小3のたし算とひき算の…」のプリント一覧がひらきます

小3 たし算とひき算の筆算 とっくんドリル①-5

なまえ ＿＿＿＿＿＿＿＿

くり上がりを、わすれずに足す 全8問

ひづけ ＿＿＿＿＿＿＿＿

筆算のマスを使ってとく。くり上がりは、次のくらいの上の小さなマスに書く。答えは下線に書く

1 819 + 812 = ＿＿＿＿

□ □ □

+			

2 7689 + 1386 = ＿＿＿＿

□ □ □

+			

3 849 + 666 = ＿＿＿＿

□ □ □

+			

4 5849 + 2168 = ＿＿＿＿

□ □ □

+			

5 366 + 678 = ＿＿＿＿

□ □ □

+			

6 2364 + 5694 = ＿＿＿＿

□ □ □

+			

7 578 + 855 = ＿＿＿＿

□ □ □

+			

8 2417 + 1729 = ＿＿＿＿

□ □ □

+			

いちごドリル プリント

つづきの無料プリント
「小3のたし算とひき算の…」のプリント一覧がひらきます

小3 たし算とひき算の筆算 とっくんドリル②-1

なまえ ＿＿＿＿＿＿＿＿

くり下がりを、ていねいに 全12問

ひづけ ＿＿＿＿＿＿＿＿

筆算のマスを使ってとく。くり下がりで書きかえた上の数は、そのくらいの上のマスに書く。答えは下線に書く

1 652 − 403 = ＿＿＿＿

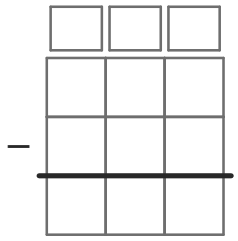

2 704 − 378 = ＿＿＿＿

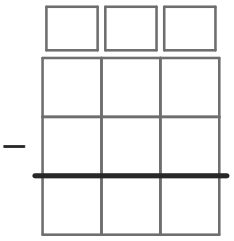

3 897 − 388 = ＿＿＿＿

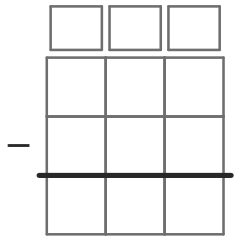

4 1003 − 538 = ＿＿＿＿

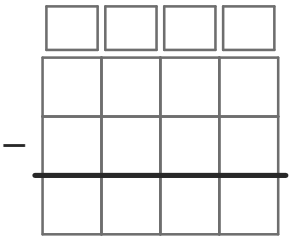

5 322 − 62 = ＿＿＿＿

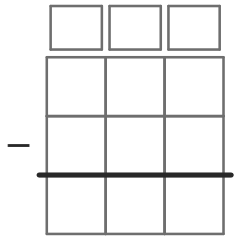

6 103 − 87 = ＿＿＿＿

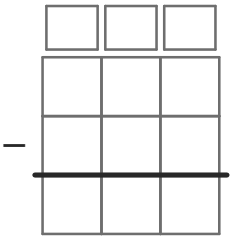

7 485 − 78 = ＿＿＿＿

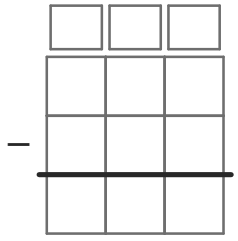

8 903 − 166 = ＿＿＿＿

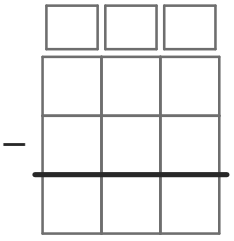

9 729 − 277 = ＿＿＿＿

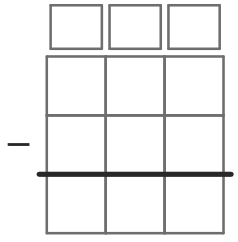

10 7004 − 4527 = ＿＿＿＿

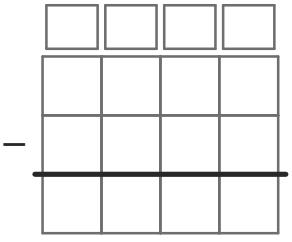

11 3756 − 2829 = ＿＿＿＿

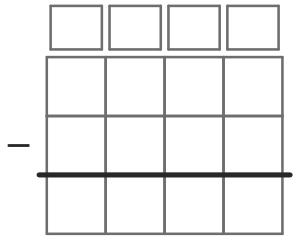

12 9003 − 5522 = ＿＿＿＿

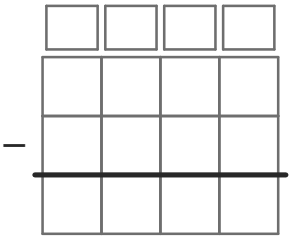

いちごドリル プリント

つづきの無料プリント
「小3のたし算とひき算の…」のプリント一覧がひらきます

小3 たし算とひき算の筆算 とっくんドリル②-2

なまえ ＿＿＿＿＿＿＿＿

くり下がりを、ていねいに 全12問

ひづけ ＿＿＿＿＿＿＿＿

筆算のマスを使ってとく。くり下がりで書きかえた上の数は、そのくらいの上のマスに書く。答えは下線に書く

1 353 − 188 = ＿＿＿＿

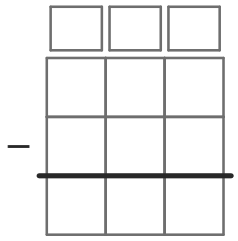

2 4902 − 2016 = ＿＿＿＿

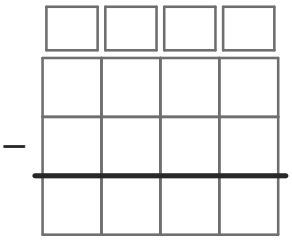

3 683 − 336 = ＿＿＿＿

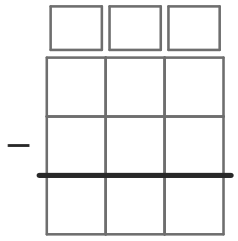

4 7001 − 5165 = ＿＿＿＿

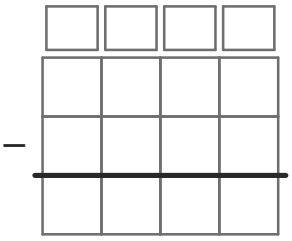

5 6121 − 1424 = ＿＿＿＿

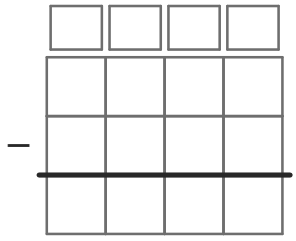

6 7502 − 1085 = ＿＿＿＿

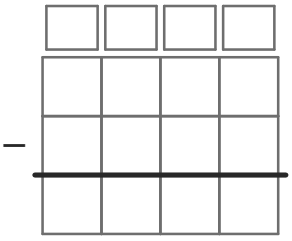

7 3165 − 1216 = ＿＿＿＿

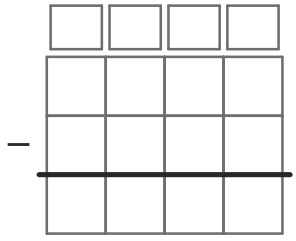

8 4008 − 2031 = ＿＿＿＿

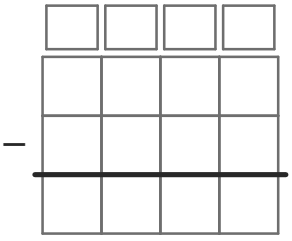

9 8556 − 4091 = ＿＿＿＿

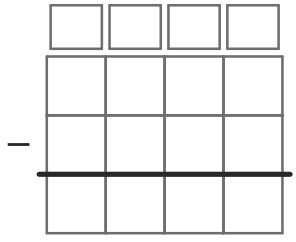

10 4005 − 1382 = ＿＿＿＿

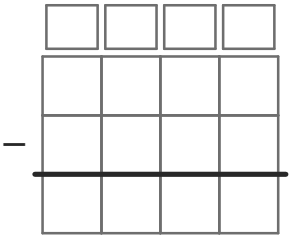

11 2639 − 2391 = ＿＿＿＿

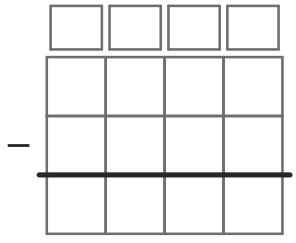

12 1007 − 157 = ＿＿＿＿

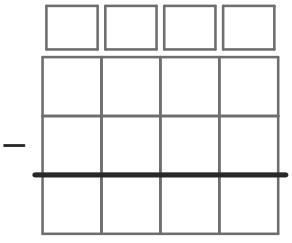

いちごドリル プリント

つづきの無料プリント
「小3のたし算とひき算の…」のプリント一覧がひらきます

小3 たし算とひき算の筆算 とっくんドリル②-3

なまえ ＿＿＿＿＿＿＿＿

くり下がりを、ていねいに 全12問

ひづけ ＿＿＿＿＿＿＿＿

筆算のマスを使ってとく。くり下がりで書きかえた上の数は、そのくらいの上のマスに書く。答えは下線に書く

1 4523 − 524 = ＿＿＿＿

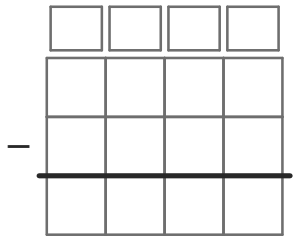

2 2004 − 172 = ＿＿＿＿

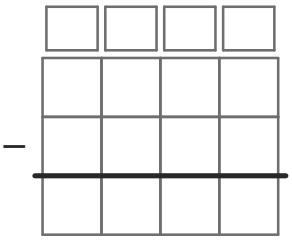

3 611 − 545 = ＿＿＿＿

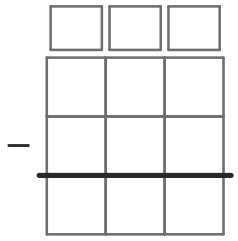

4 401 − 368 = ＿＿＿＿

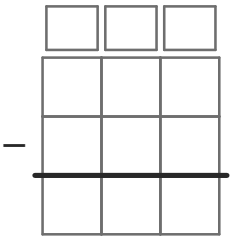

5 9923 − 9032 = ＿＿＿＿

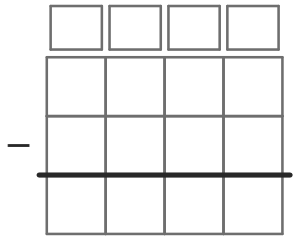

6 804 − 547 = ＿＿＿＿

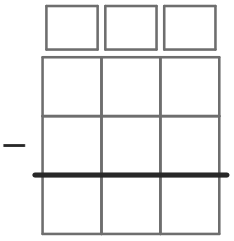

7 431 − 343 = ＿＿＿＿

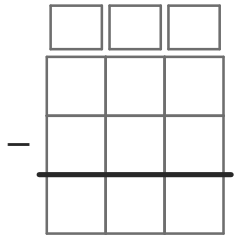

8 702 − 447 = ＿＿＿＿

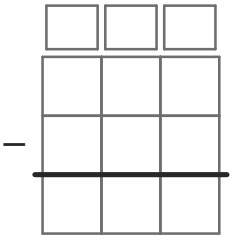

9 748 − 519 = ＿＿＿＿

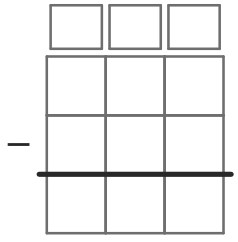

10 2004 − 1735 = ＿＿＿＿

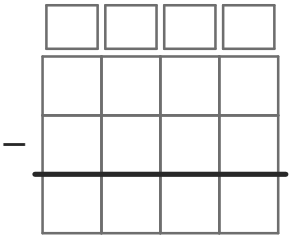

11 174 − 58 = ＿＿＿＿

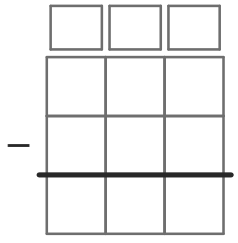

12 5004 − 2861 = ＿＿＿＿

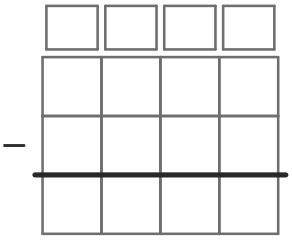

いちごドリル プリント

つづきの無料プリント
「小3のたし算とひき算の…」のプリント一覧がひらきます

小3 たし算とひき算の筆算 とっくんドリル②-4

なまえ ＿＿＿＿＿＿＿＿

くり下がりを、ていねいに 全12問

ひづけ ＿＿＿＿＿＿＿＿

筆算のマスを使ってとく。くり下がりで書きかえた上の数は、そのくらいの上のマスに書く。答えは下線に書く

1 6872 − 6018 = ＿＿＿＿

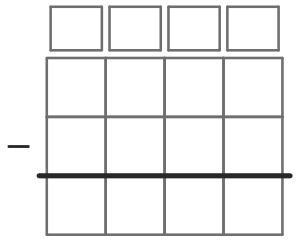

2 8004 − 4855 = ＿＿＿＿

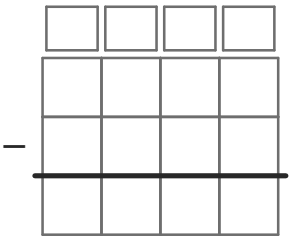

3 1137 − 253 = ＿＿＿＿

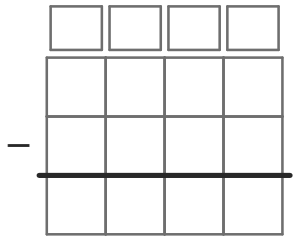

4 605 − 197 = ＿＿＿＿

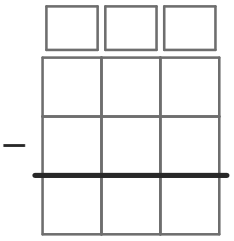

5 6761 − 776 = ＿＿＿＿

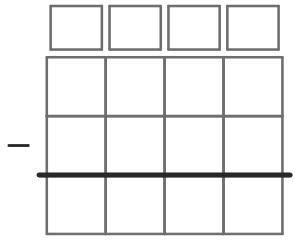

6 5001 − 966 = ＿＿＿＿

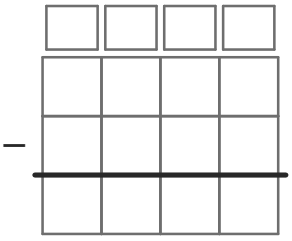

7 4191 − 4077 = ＿＿＿＿

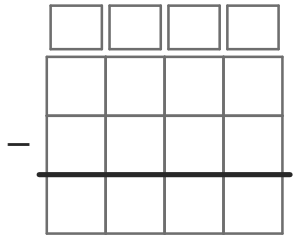

8 7004 − 4250 = ＿＿＿＿

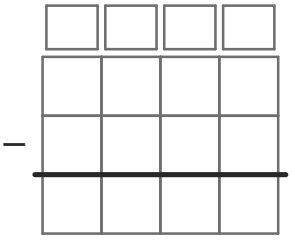

9 247 − 179 = ＿＿＿＿

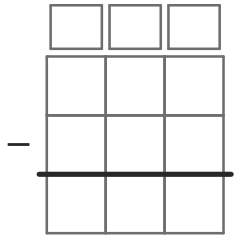

10 5006 − 2598 = ＿＿＿＿

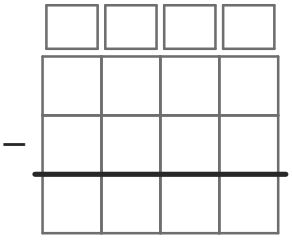

11 7499 − 2841 = ＿＿＿＿

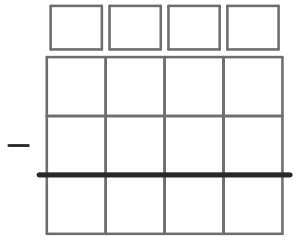

12 904 − 779 = ＿＿＿＿

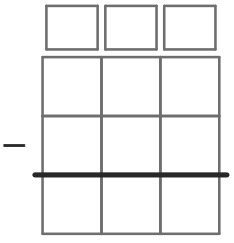

いちごドリル プリント

つづきの無料プリント
「小3のたし算とひき算の…」のプリント一覧がひらきます

小3 たし算とひき算の筆算 とっくんドリル②-5

なまえ ＿＿＿＿＿＿＿＿

くり下がりを、ていねいに 全12問

ひづけ ＿＿＿＿＿＿＿＿

筆算のマスを使ってとく。くり下がりで書きかえた上の数は、そのくらいの上のマスに書く。答えは下線に書く

1 444 − 187 = ＿＿＿＿

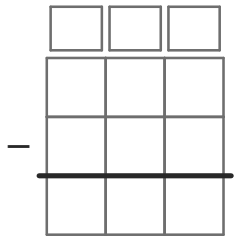

2 202 − 76 = ＿＿＿＿

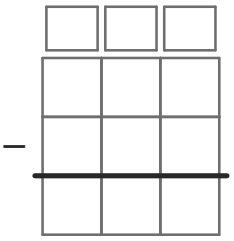

3 223 − 59 = ＿＿＿＿

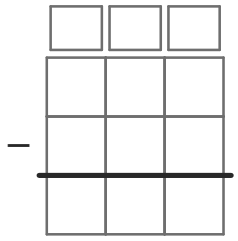

4 505 − 466 = ＿＿＿＿

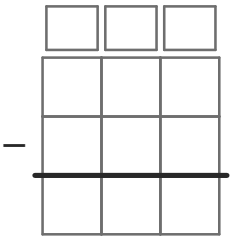

5 9266 − 5370 = ＿＿＿＿

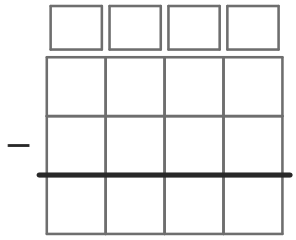

6 2502 − 2229 = ＿＿＿＿

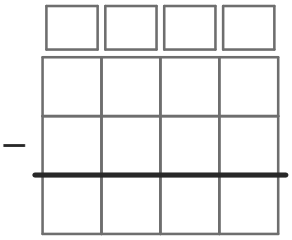

7 852 − 209 = ＿＿＿＿

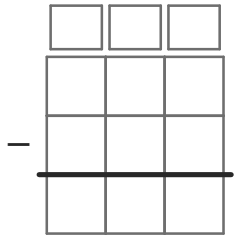

8 802 − 639 = ＿＿＿＿

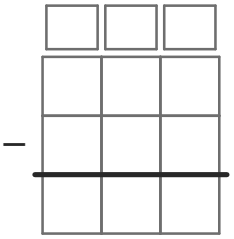

9 875 − 246 = ＿＿＿＿

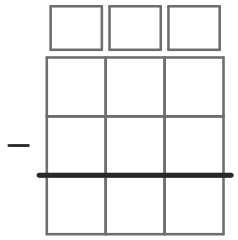

10 9024 − 5764 = ＿＿＿＿

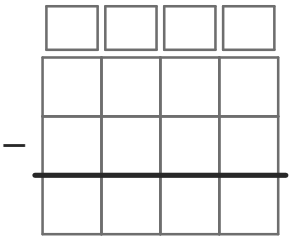

11 353 − 349 = ＿＿＿＿

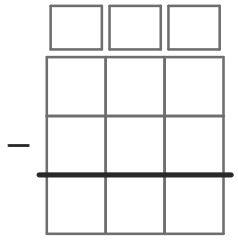

12 5001 − 4721 = ＿＿＿＿

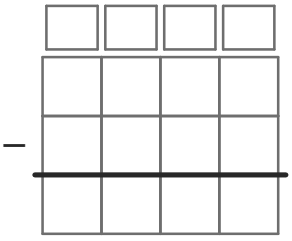

いちごドリル プリント

つづきの無料プリント
「小3のたし算とひき算の…」のプリント一覧がひらきます

小3 たし算とひき算の筆算 とっくんドリル③-1

なまえ ＿＿＿＿＿＿＿＿

くらいをそろえる・たしかめ 全12問

ひづけ ＿＿＿＿＿＿＿＿

筆算のマスを使ってとく。答えは下線に書く。ひき算のたしかめは、3つの式から正しいものに○をつける

1 129 + 5529 = ＿＿＿＿

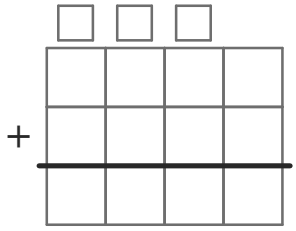

2 919 − 195 = 724

たしかめの式に○をつけよう

724−195
724+919
724+195

3 44 + 351 = ＿＿＿＿

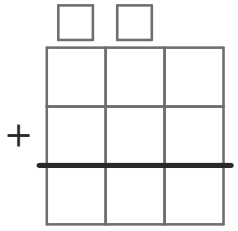

4 940 − 254 = 686

たしかめの式に○をつけよう

686−254
686+254
686+940

5 933 + 4721 = ＿＿＿＿

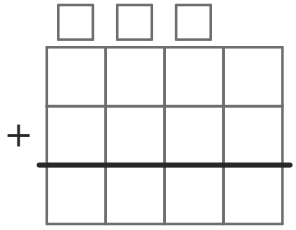

6 929 − 366 = 563

たしかめの式に○をつけよう

563−366
563+929
563+366

7 413 + 9186 = ＿＿＿＿

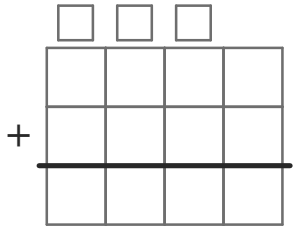

8 428 − 120 = 308

たしかめの式に○をつけよう

308+120
308−120
308+428

9 29 + 282 = ＿＿＿＿

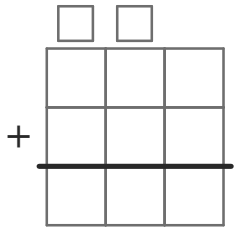

10 701 − 264 = 437

たしかめの式に○をつけよう

437−264
437+701
437+264

11 56 + 996 = ＿＿＿＿

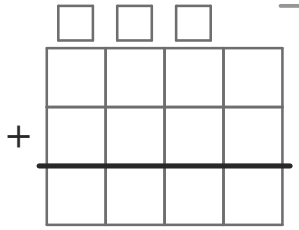

12 846 − 113 = 733

たしかめの式に○をつけよう

733+113
733−113
733+846

いちごドリル プリント

つづきの無料プリント
「小3のたし算とひき算の…」のプリント一覧がひらきます

小3 たし算とひき算の筆算 とっくんドリル③-2

なまえ ＿＿＿＿＿＿＿＿

くらいをそろえる・たしかめ 全12問

ひづけ ＿＿＿＿＿＿＿＿

筆算のマスを使ってとく。答えは下線に書く。ひき算のたしかめは、3つの式から正しいものに○をつける

1 78 ＋ 487 ＝ ＿＿＿＿

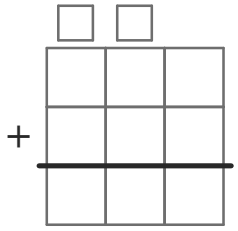

2 446 － 103 ＝ 343

たしかめの式に○をつけよう

343－103
343＋103
343＋446

3 526 ＋ 6637 ＝ ＿＿＿＿

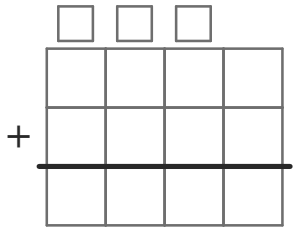

4 341 － 107 ＝ 234

たしかめの式に○をつけよう

234＋107
234－107
234＋341

5 953 ＋ 4268 ＝ ＿＿＿＿

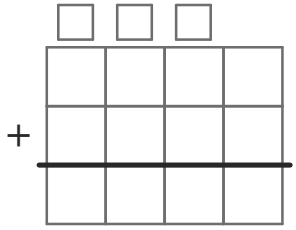

6 335 － 126 ＝ 209

たしかめの式に○をつけよう

209－126
209＋126
209＋335

7 156 ＋ 4128 ＝ ＿＿＿＿

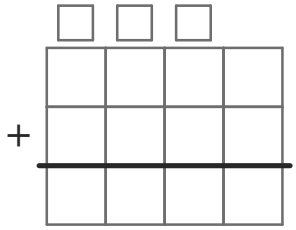

8 737 － 117 ＝ 620

たしかめの式に○をつけよう

620－117
620＋737
620＋117

9 646 ＋ 9662 ＝ ＿＿＿＿

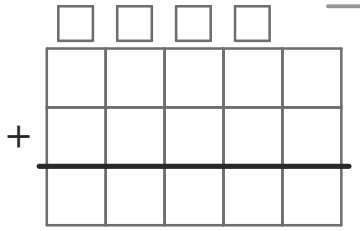

10 858 － 109 ＝ 749

たしかめの式に○をつけよう

749－109
749＋109
749＋858

11 67 ＋ 947 ＝ ＿＿＿＿

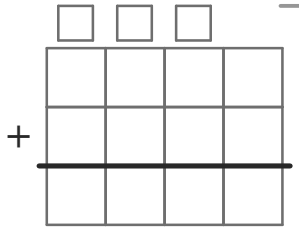

12 949 － 426 ＝ 523

たしかめの式に○をつけよう

523－426
523＋949
523＋426

いちごドリル プリント

つづきの無料プリント
「小3のたし算とひき算の…」のプリント一覧がひらきます

小3 たし算とひき算の筆算 とっくんドリル③-3

なまえ ＿＿＿＿＿＿＿＿

くらいをそろえる・たしかめ 全12問

ひづけ ＿＿＿＿＿＿＿＿

筆算のマスを使ってとく。答えは下線に書く。ひき算のたしかめは、3つの式から正しいものに○をつける

1 546 + 4813 = ＿＿＿＿

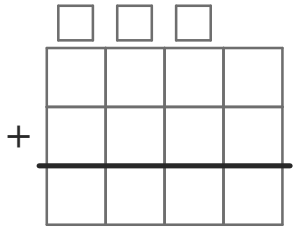

2 451 − 170 = 281

たしかめの式に○をつけよう

281＋170
281－170
281＋451

3 542 + 7667 = ＿＿＿＿

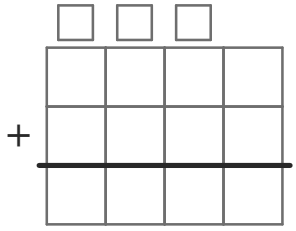

4 457 − 200 = 257

たしかめの式に○をつけよう

257－200
257＋457
257＋200

5 77 + 165 = ＿＿＿＿

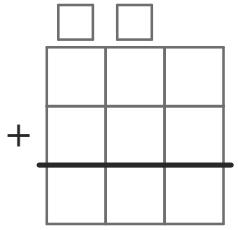

6 907 − 100 = 807

たしかめの式に○をつけよう

807＋100
807－100
807＋907

7 67 + 162 = ＿＿＿＿

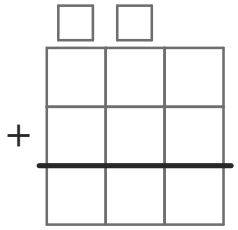

8 330 − 151 = 179

たしかめの式に○をつけよう

179－151
179＋151
179＋330

9 637 + 4795 = ＿＿＿＿

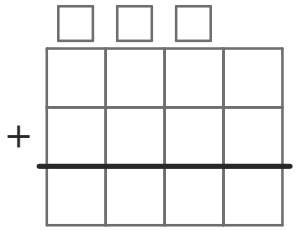

10 548 − 153 = 395

たしかめの式に○をつけよう

395＋153
395－153
395＋548

11 614 + 2542 = ＿＿＿＿

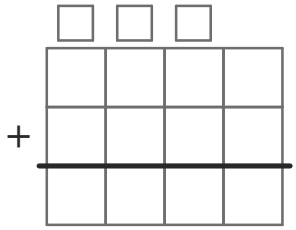

12 494 − 137 = 357

たしかめの式に○をつけよう

357－137
357＋137
357＋494

いちごドリル プリント

つづきの無料プリント
「小3のたし算とひき算の…」のプリント一覧がひらきます

小3 たし算とひき算の筆算 とっくんドリル③-4

なまえ ＿＿＿＿＿＿＿＿

くらいをそろえる・たしかめ 全12問

ひづけ ＿＿＿＿＿＿＿＿

筆算のマスを使ってとく。答えは下線に書く。ひき算のたしかめは、3つの式から正しいものに○をつける

1 56 + 356 = ＿＿＿＿

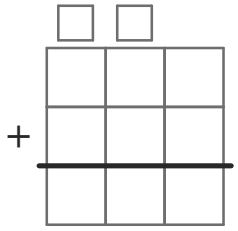

2 542 − 222 = 320

たしかめの式に○をつけよう

320−222
320+542
320+222

3 681 + 9263 = ＿＿＿＿

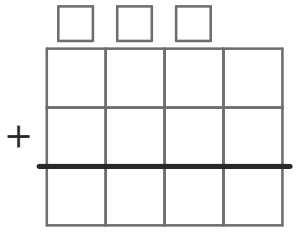

4 500 − 234 = 266

たしかめの式に○をつけよう

266−234
266+234
266+500

5 64 + 962 = ＿＿＿＿

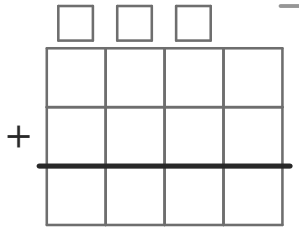

6 598 − 140 = 458

たしかめの式に○をつけよう

458−140
458+598
458+140

7 75 + 899 = ＿＿＿＿

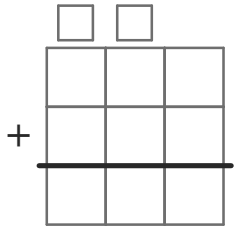

8 916 − 246 = 670

たしかめの式に○をつけよう

670+246
670−246
670+916

9 64 + 197 = ＿＿＿＿

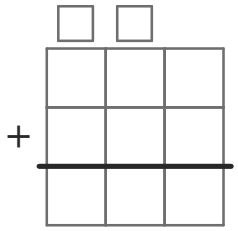

10 458 − 135 = 323

たしかめの式に○をつけよう

323−135
323+458
323+135

11 892 + 1832 = ＿＿＿＿

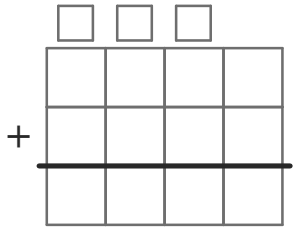

12 379 − 127 = 252

たしかめの式に○をつけよう

252+127
252−127
252+379

いちごドリル プリント

つづきの無料プリント
「小3のたし算とひき算の…」のプリント一覧がひらきます

小3 たし算とひき算の筆算 とっくんドリル③-5

なまえ ＿＿＿＿＿＿＿＿

くらいをそろえる・たしかめ 全12問

ひづけ ＿＿＿＿＿＿＿＿

筆算のマスを使ってとく。答えは下線に書く。ひき算のたしかめは、3つの式から正しいものに○をつける

1 18 ＋ 859 ＝ ＿＿＿＿

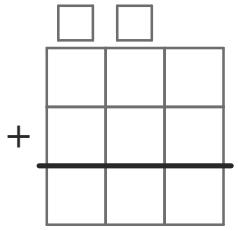

2 893 － 269 ＝ 624

たしかめの式に○をつけよう

624－269
624＋269
624＋893

3 427 ＋ 2962 ＝ ＿＿＿＿

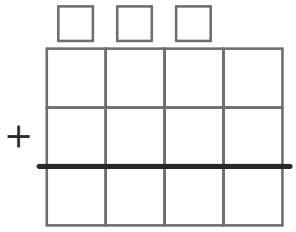

4 703 － 179 ＝ 524

たしかめの式に○をつけよう

524＋179
524－179
524＋703

5 496 ＋ 3627 ＝ ＿＿＿＿

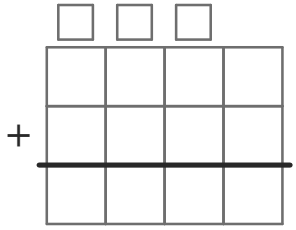

6 408 － 116 ＝ 292

たしかめの式に○をつけよう

292－116
292＋116
292＋408

7 622 ＋ 4886 ＝ ＿＿＿＿

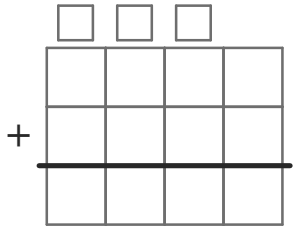

8 598 － 200 ＝ 398

たしかめの式に○をつけよう

398－200
398＋598
398＋200

9 318 ＋ 3454 ＝ ＿＿＿＿

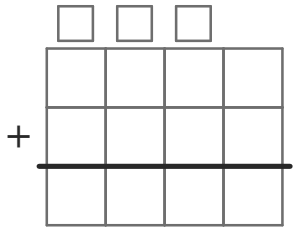

10 939 － 205 ＝ 734

たしかめの式に○をつけよう

734－205
734＋205
734＋939

11 22 ＋ 329 ＝ ＿＿＿＿

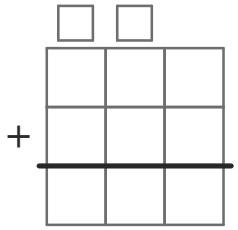

12 780 － 128 ＝ 652

たしかめの式に○をつけよう

652－128
652＋780
652＋128

いちごドリル プリント

つづきの無料プリント
「小3のたし算とひき算の…」のプリント一覧がひらきます

小3 たし算とひき算の筆算 そうごうテスト（その2）

なまえ ＿＿＿＿＿＿＿＿

全12問 100点

ひづけ ＿＿＿＿＿＿ /100

筆算のマスを使ってとく。答えは下線に書く。たしかめの式は、3つの式から正しいものに○をつける

1 6991 − 2867 = ＿＿＿＿＿＿

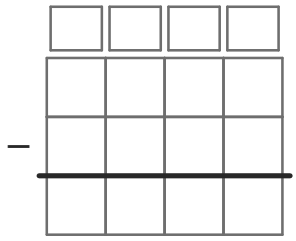

8点

2 61 + 832 = ＿＿＿＿＿＿

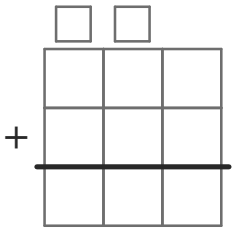

8点

3 601 − 308 = ＿＿＿＿＿＿

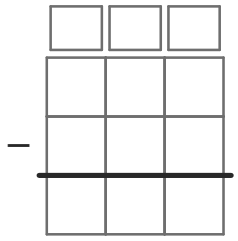

8点

4 6721 + 1766 = ＿＿＿＿＿＿

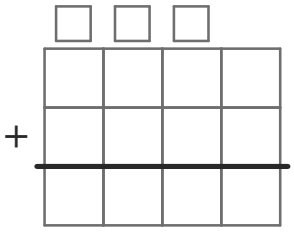

8点

5 229 + 324 = ＿＿＿＿＿＿

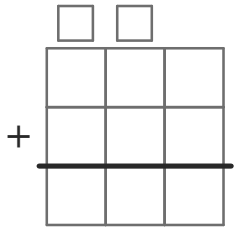

8点

6 879 − 115 = 764

たしかめの式に○をつけよう

764+115
764−115
764+879

8点

7 5228 − 393 = ＿＿＿＿＿＿

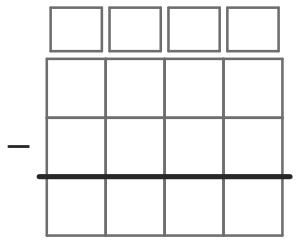

8点

8 31 + 819 = ＿＿＿＿＿＿

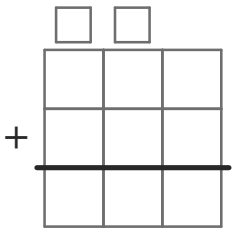

8点

9 5804 − 5375 = ＿＿＿＿＿＿

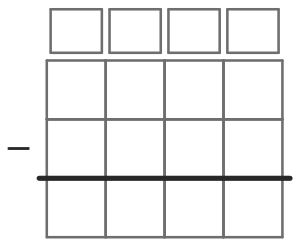

9点

10 3771 + 4838 = ＿＿＿＿＿＿

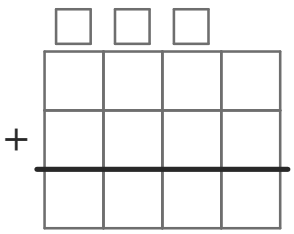

9点

11 914 − 360 = 554

たしかめの式に○をつけよう

554−360
554+914
554+360

9点

12 266 + 747 = ＿＿＿＿＿＿

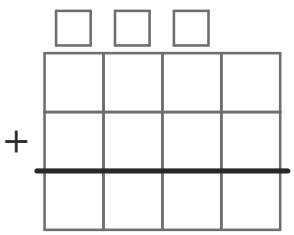

9点

いちごドリル プリント

つづきの無料プリント
「小3のたし算とひき算の…」のプリント一覧がひらきます

小3 たし算とひき算の筆算 そうごうテスト(その3)

なまえ ＿＿＿＿＿＿＿＿

全12問 100点

ひづけ ＿＿＿＿＿＿ /100

筆算のマスを使ってとく。答えは下線に書く。たしかめの式は、3つの式から正しいものに○をつける

1 4714 − 2654 = ＿＿＿＿＿＿

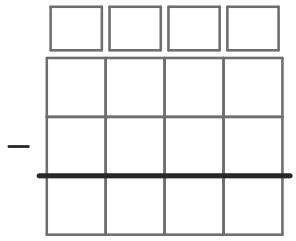

8点

2 136 + 1833 = ＿＿＿＿＿＿

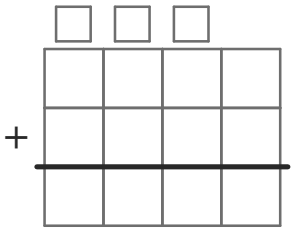

8点

3 928 + 387 = ＿＿＿＿＿＿

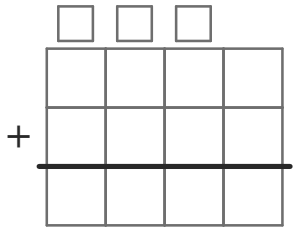

8点

4 733 − 280 = 453

たしかめの式に○をつけよう

453+280
453−280
453+733

8点

5 6868 + 2268 = ＿＿＿＿＿＿

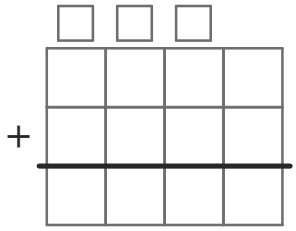

8点

6 403 − 194 = ＿＿＿＿＿＿

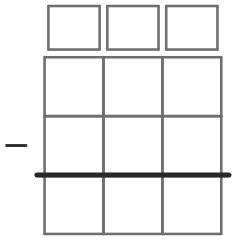

8点

7 868 − 119 = 749

たしかめの式に○をつけよう

749−119
749+119
749+868

8点

8 3658 + 1353 = ＿＿＿＿＿＿

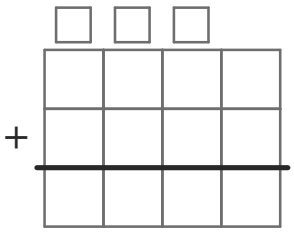

8点

9 967 + 586 = ＿＿＿＿＿＿

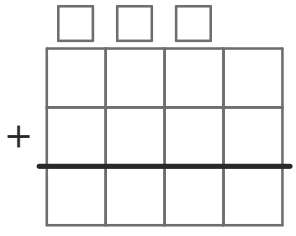

9点

10 852 − 414 = ＿＿＿＿＿＿

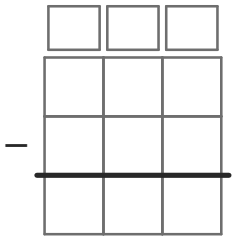

9点

11 6401 − 685 = ＿＿＿＿＿＿

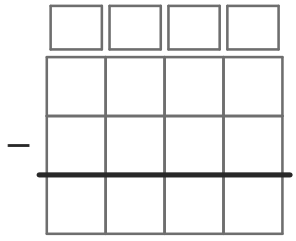

9点

12 37 + 362 = ＿＿＿＿＿＿

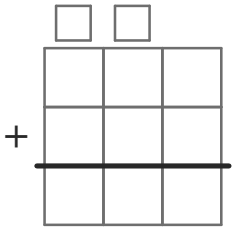

9点

いちごドリル プリント

つづきの無料プリント
「小3のたし算とひき算の…」のプリント一覧がひらきます

小3 たし算とひき算の筆算 そうごうテスト（その4）

なまえ ＿＿＿＿＿＿＿＿

全12問 100点

ひづけ ＿＿＿＿＿＿ /100

筆算のマスを使ってとく。答えは下線に書く。たしかめの式は、3つの式から正しいものに○をつける

1 1705 − 316 = ＿＿＿＿

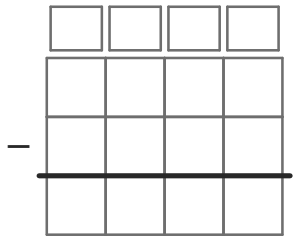

8点

2 83 + 318 = ＿＿＿＿

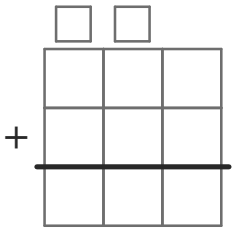

8点

3 239 + 826 = ＿＿＿＿

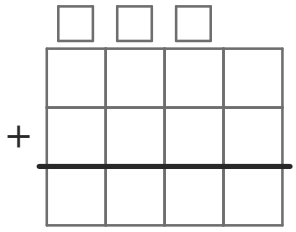

8点

4 892 − 337 = ＿＿＿＿

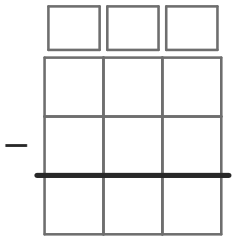

8点

5 454 − 166 = 288

たしかめの式に○をつけよう

288＋166
288－166
288＋454

8点

6 3199 + 3831 = ＿＿＿＿

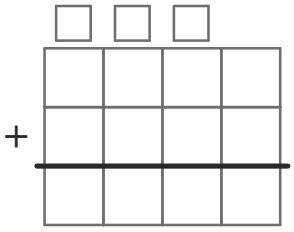

8点

7 829 + 472 = ＿＿＿＿

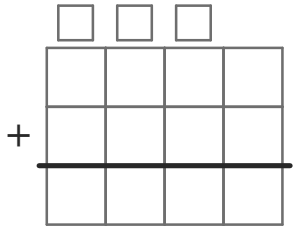

8点

8 944 − 326 = ＿＿＿＿

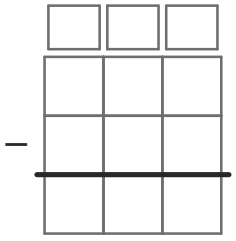

8点

9 1632 + 6843 = ＿＿＿＿

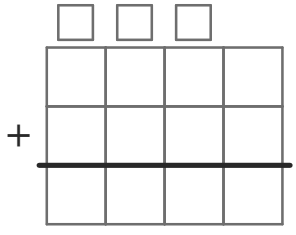

9点

10 906 − 108 = ＿＿＿＿

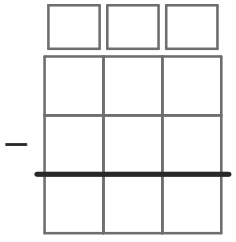

9点

11 361 + 1662 = ＿＿＿＿

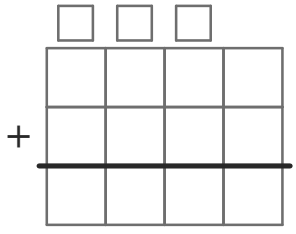

9点

12 620 − 227 = 393

たしかめの式に○をつけよう

393－227
393＋227
393＋620

9点

いちごドリル プリント

つづきの無料プリント
「小3のたし算とひき算の…」のプリント一覧がひらきます

小3 たし算とひき算の筆算 そうごうテスト(その5)

なまえ ＿＿＿＿＿＿＿＿

全12問 100点

ひづけ ＿＿＿＿＿＿ /100

筆算のマスを使ってとく。答えは下線に書く。たしかめの式は、3つの式から正しいものに○をつける

1 2676 + 2952 = ＿＿＿＿＿＿

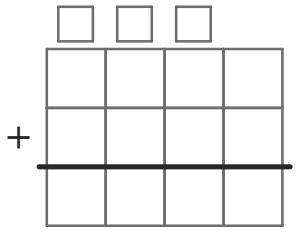

8点

2 265 − 86 = ＿＿＿＿＿＿



8点

3 84 + 361 = ＿＿＿＿＿＿

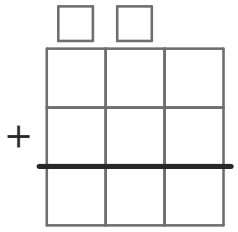

8点

4 938 + 359 = ＿＿＿＿＿＿

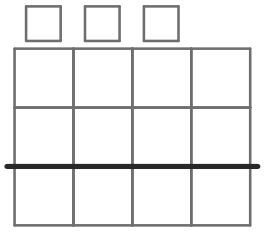

8点

5 467 − 137 = 330

たしかめの式に○をつけよう

330−137
330+467
330+137

8点

6 1002 − 381 = ＿＿＿＿＿＿



8点

7 935 − 279 = ＿＿＿＿＿＿

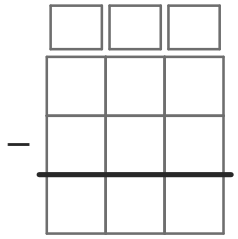

8点

8 402 − 337 = ＿＿＿＿＿＿



8点

9 579 + 758 = ＿＿＿＿＿＿

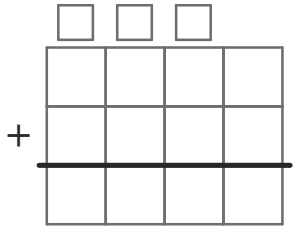

9点

10 123 + 4225 = ＿＿＿＿＿＿

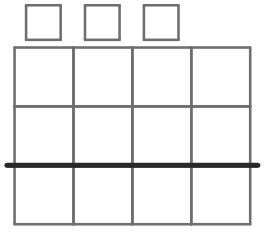

9点

11 2784 + 5493 = ＿＿＿＿＿＿

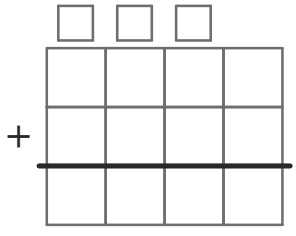

9点

12 937 − 139 = 798

たしかめの式に○をつけよう

798−139
798+139
798+937

9点

いちごドリル プリント

つづきの無料プリント
「小3のたし算とひき算の…」のプリント一覧がひらきます