小3 たし算とひき算の筆算 そうごうテスト(その5)

なまえ ＿＿＿＿＿＿＿＿

全12問 100点

ひづけ ＿＿＿＿＿＿ /100

筆算のマスを使ってとく。答えは下線に書く。たしかめの式は、3つの式から正しいものに○をつける

1 2676 + 2952 = ＿＿＿＿＿＿

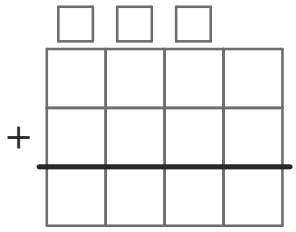

8点

2 265 − 86 = ＿＿＿＿＿＿



8点

3 84 + 361 = ＿＿＿＿＿＿

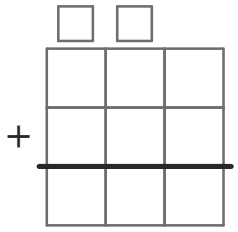

8点

4 938 + 359 = ＿＿＿＿＿＿

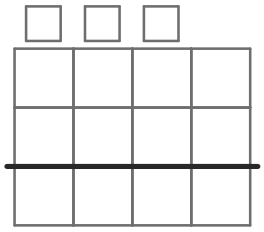

8点

5 467 − 137 = 330

たしかめの式に○をつけよう

330−137
330+467
330+137

8点

6 1002 − 381 = ＿＿＿＿＿＿



8点

7 935 − 279 = ＿＿＿＿＿＿

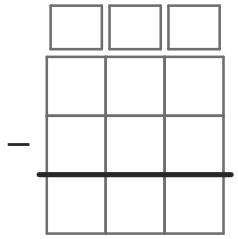

8点

8 402 − 337 = ＿＿＿＿＿＿



8点

9 579 + 758 = ＿＿＿＿＿＿

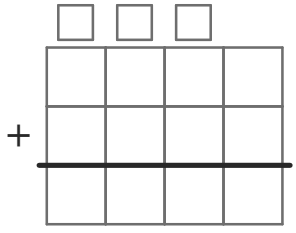

9点

10 123 + 4225 = ＿＿＿＿＿＿

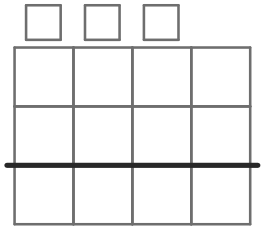

9点

11 2784 + 5493 = ＿＿＿＿＿＿

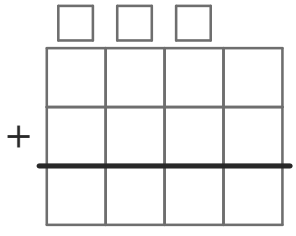

9点

12 937 − 139 = 798

たしかめの式に○をつけよう

798−139
798+139
798+937

9点

いちごドリル プリント

つづきの無料プリント
「小3のたし算とひき算の…」のプリント一覧がひらきます