小3 たし算とひき算の筆算 そうごうテスト（その4）

なまえ ＿＿＿＿＿＿＿＿

全12問 100点

ひづけ ＿＿＿＿＿＿ /100

筆算のマスを使ってとく。答えは下線に書く。たしかめの式は、3つの式から正しいものに○をつける

1 1705 − 316 = ＿＿＿＿

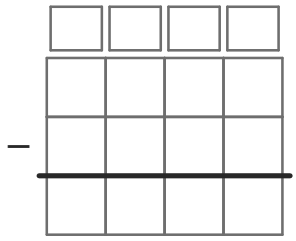

8点

2 83 + 318 = ＿＿＿＿

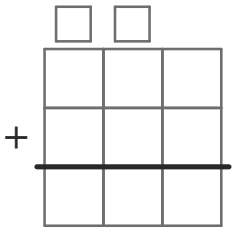

8点

3 239 + 826 = ＿＿＿＿

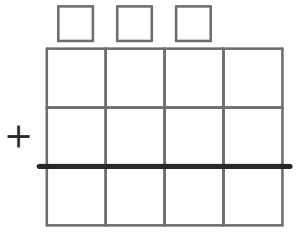

8点

4 892 − 337 = ＿＿＿＿

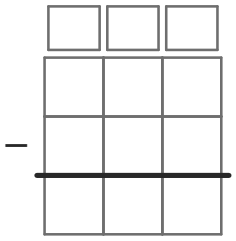

8点

5 454 − 166 = 288

たしかめの式に○をつけよう

288＋166
288－166
288＋454

8点

6 3199 + 3831 = ＿＿＿＿

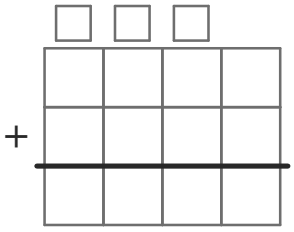

8点

7 829 + 472 = ＿＿＿＿

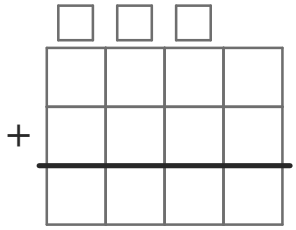

8点

8 944 − 326 = ＿＿＿＿

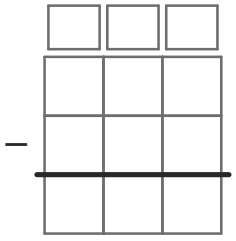

8点

9 1632 + 6843 = ＿＿＿＿

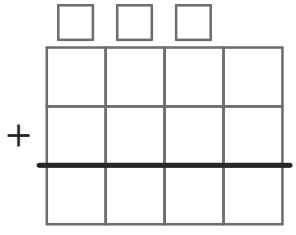

9点

10 906 − 108 = ＿＿＿＿

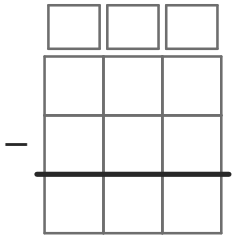

9点

11 361 + 1662 = ＿＿＿＿

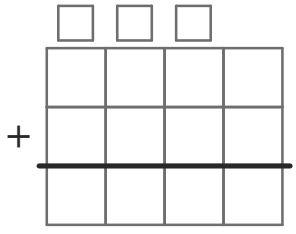

9点

12 620 − 227 = 393

たしかめの式に○をつけよう

393－227
393＋227
393＋620

9点

いちごドリル プリント

つづきの無料プリント
「小3のたし算とひき算の…」のプリント一覧がひらきます