小3 たし算とひき算の筆算 そうごうテスト（その2）

なまえ ＿＿＿＿＿＿＿＿

全12問 100点

ひづけ ＿＿＿＿＿＿ /100

筆算のマスを使ってとく。答えは下線に書く。たしかめの式は、3つの式から正しいものに○をつける

1 6991 − 2867 = ＿＿＿＿＿＿

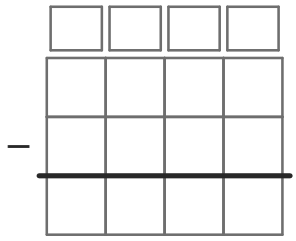

8点

2 61 + 832 = ＿＿＿＿＿＿

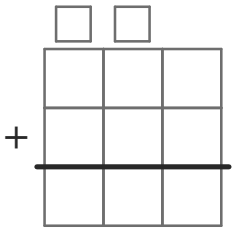

8点

3 601 − 308 = ＿＿＿＿＿＿

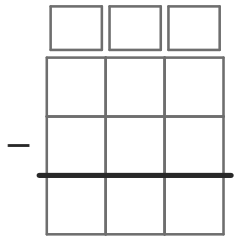

8点

4 6721 + 1766 = ＿＿＿＿＿＿

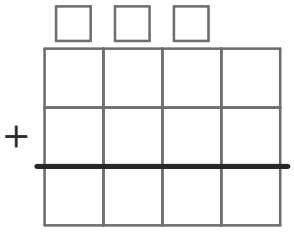

8点

5 229 + 324 = ＿＿＿＿＿＿

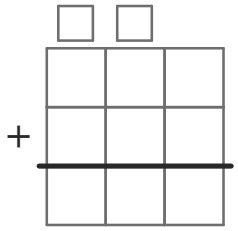

8点

6 879 − 115 = 764

たしかめの式に○をつけよう

764+115
764−115
764+879

8点

7 5228 − 393 = ＿＿＿＿＿＿

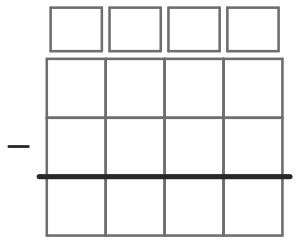

8点

8 31 + 819 = ＿＿＿＿＿＿

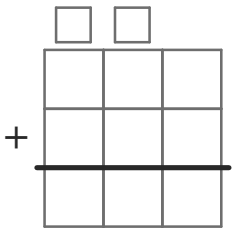

8点

9 5804 − 5375 = ＿＿＿＿＿＿

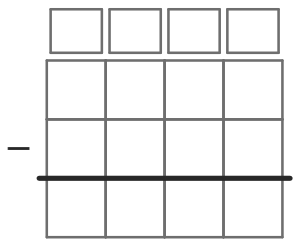

9点

10 3771 + 4838 = ＿＿＿＿＿＿

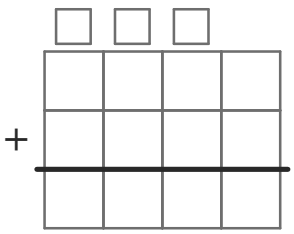

9点

11 914 − 360 = 554

たしかめの式に○をつけよう

554−360
554+914
554+360

9点

12 266 + 747 = ＿＿＿＿＿＿

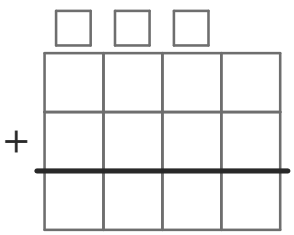

9点

いちごドリル プリント

つづきの無料プリント
「小3のたし算とひき算の…」のプリント一覧がひらきます