小3 たし算とひき算の筆算 とっくんドリル③-5

なまえ ＿＿＿＿＿＿＿＿

くらいをそろえる・たしかめ 全12問

ひづけ ＿＿＿＿＿＿＿＿

筆算のマスを使ってとく。答えは下線に書く。ひき算のたしかめは、3つの式から正しいものに○をつける

1 18 ＋ 859 ＝ ＿＿＿＿

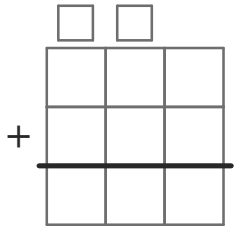

2 893 － 269 ＝ 624

たしかめの式に○をつけよう

624－269
624＋269
624＋893

3 427 ＋ 2962 ＝ ＿＿＿＿

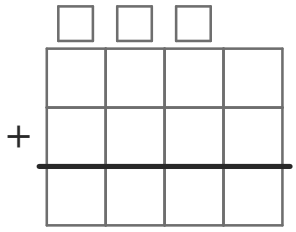

4 703 － 179 ＝ 524

たしかめの式に○をつけよう

524＋179
524－179
524＋703

5 496 ＋ 3627 ＝ ＿＿＿＿

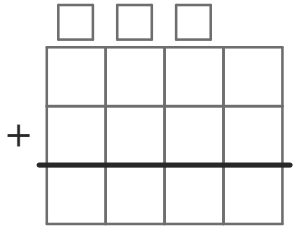

6 408 － 116 ＝ 292

たしかめの式に○をつけよう

292－116
292＋116
292＋408

7 622 ＋ 4886 ＝ ＿＿＿＿

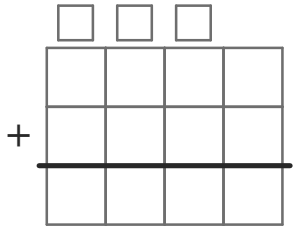

8 598 － 200 ＝ 398

たしかめの式に○をつけよう

398－200
398＋598
398＋200

9 318 ＋ 3454 ＝ ＿＿＿＿

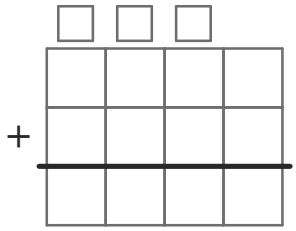

10 939 － 205 ＝ 734

たしかめの式に○をつけよう

734－205
734＋205
734＋939

11 22 ＋ 329 ＝ ＿＿＿＿

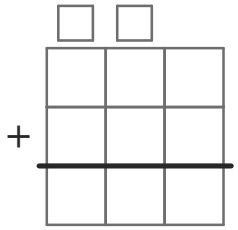

12 780 － 128 ＝ 652

たしかめの式に○をつけよう

652－128
652＋780
652＋128

いちごドリル プリント

つづきの無料プリント
「小3のたし算とひき算の…」のプリント一覧がひらきます

小3 たし算とひき算の筆算 とっくんドリル③-5【こたえ】

なまえ ＿＿＿＿＿＿＿＿

くらいをそろえる・たしかめ 全12問

ひづけ ＿＿＿＿＿＿＿＿

1 18 ＋ 859 ＝ 877

→ よくある×：1039

考え方：一の位をそろえて書く、18＋859＝877

2 893 － 269 ＝ 624

たしかめの式に○をつけよう

624－269

624＋269

624＋893

3 427 ＋ 2962 ＝ 3389

→ よくある×：7232

考え方：一の位をそろえて書く

427＋2962＝3389

4 703 － 179 ＝ 524

たしかめの式に○をつけよう

524＋179

524－179

524＋703

5 496 ＋ 3627 ＝ 4123

→ よくある×：8587

考え方：一の位をそろえて書く

496＋3627＝4123

6 408 － 116 ＝ 292

たしかめの式に○をつけよう

292－116

292＋116

292＋408

7 622 ＋ 4886 ＝ 5508

→ よくある×：11106

考え方：一の位をそろえて書く

622＋4886＝5508

8 598 － 200 ＝ 398

たしかめの式に○をつけよう

398－200

398＋598

398＋200

9 318 ＋ 3454 ＝ 3772

→ よくある×：6634

考え方：一の位をそろえて書く

318＋3454＝3772

10 939 － 205 ＝ 734

たしかめの式に○をつけよう

734－205

734＋205

734＋939

11 22 ＋ 329 ＝ 351

→ よくある×：549

考え方：一の位をそろえて書く、22＋329＝351

12 780 － 128 ＝ 652

たしかめの式に○をつけよう

652－128

652＋780

652＋128