小3 たし算とひき算の筆算 とっくんドリル③-5

なまえ ＿＿＿＿＿＿＿＿

くらいをそろえる・たしかめ 全12問

ひづけ ＿＿＿＿＿＿＿＿

筆算のマスを使ってとく。答えは下線に書く。ひき算のたしかめは、3つの式から正しいものに○をつける

1 18 ＋ 859 ＝ ＿＿＿＿

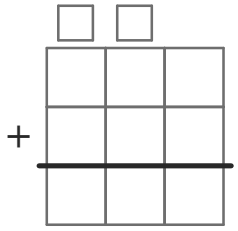

2 893 － 269 ＝ 624

たしかめの式に○をつけよう

624－269
624＋269
624＋893

3 427 ＋ 2962 ＝ ＿＿＿＿

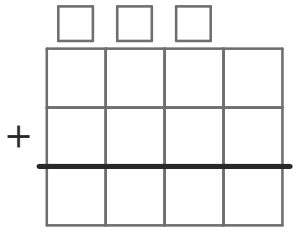

4 703 － 179 ＝ 524

たしかめの式に○をつけよう

524＋179
524－179
524＋703

5 496 ＋ 3627 ＝ ＿＿＿＿

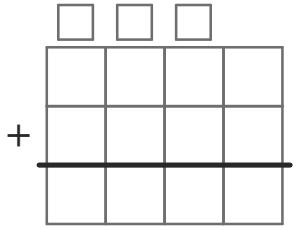

6 408 － 116 ＝ 292

たしかめの式に○をつけよう

292－116
292＋116
292＋408

7 622 ＋ 4886 ＝ ＿＿＿＿

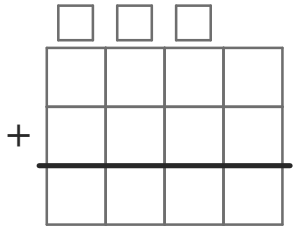

8 598 － 200 ＝ 398

たしかめの式に○をつけよう

398－200
398＋598
398＋200

9 318 ＋ 3454 ＝ ＿＿＿＿

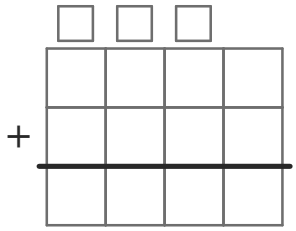

10 939 － 205 ＝ 734

たしかめの式に○をつけよう

734－205
734＋205
734＋939

11 22 ＋ 329 ＝ ＿＿＿＿

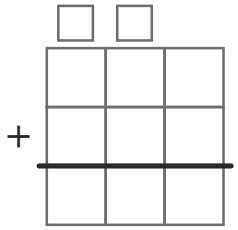

12 780 － 128 ＝ 652

たしかめの式に○をつけよう

652－128
652＋780
652＋128

いちごドリル プリント

つづきの無料プリント
「小3のたし算とひき算の…」のプリント一覧がひらきます