小3 たし算とひき算の筆算 とっくんドリル③-4

なまえ ＿＿＿＿＿＿＿＿

くらいをそろえる・たしかめ 全12問

ひづけ ＿＿＿＿＿＿＿＿

筆算のマスを使ってとく。答えは下線に書く。ひき算のたしかめは、3つの式から正しいものに○をつける

1 56 + 356 = ＿＿＿＿

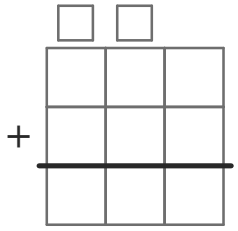

2 542 − 222 = 320

たしかめの式に○をつけよう

320−222
320+542
320+222

3 681 + 9263 = ＿＿＿＿

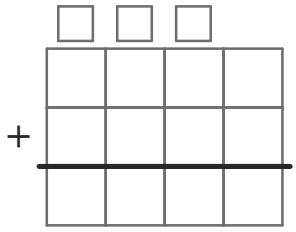

4 500 − 234 = 266

たしかめの式に○をつけよう

266−234
266+234
266+500

5 64 + 962 = ＿＿＿＿

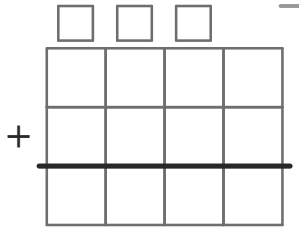

6 598 − 140 = 458

たしかめの式に○をつけよう

458−140
458+598
458+140

7 75 + 899 = ＿＿＿＿

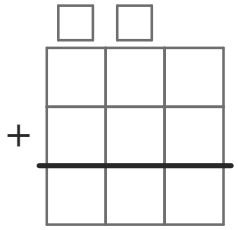

8 916 − 246 = 670

たしかめの式に○をつけよう

670+246
670−246
670+916

9 64 + 197 = ＿＿＿＿

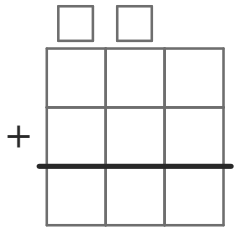

10 458 − 135 = 323

たしかめの式に○をつけよう

323−135
323+458
323+135

11 892 + 1832 = ＿＿＿＿

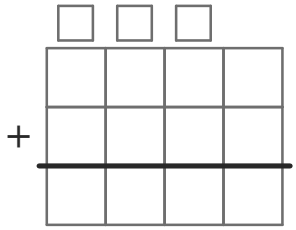

12 379 − 127 = 252

たしかめの式に○をつけよう

252+127
252−127
252+379

いちごドリル プリント

つづきの無料プリント
「小3のたし算とひき算の…」のプリント一覧がひらきます

小3 たし算とひき算の筆算 とっくんドリル③-4【こたえ】

なまえ ＿＿＿＿＿＿＿＿

くらいをそろえる・たしかめ 全12問

ひづけ ＿＿＿＿＿＿＿＿

1 56 ＋ 356 ＝ 412

→ よくある×：916

考え方：一の位をそろえて書く、56＋356＝412

2 542 － 222 ＝ 320

たしかめの式に○をつけよう

320－222

320＋542

320＋222

3 681 ＋ 9263 ＝ 9944

→ よくある×：16073

考え方：一の位をそろえて書く

681＋9263＝9944

4 500 － 234 ＝ 266

たしかめの式に○をつけよう

266－234

266＋234

266＋500

5 64 ＋ 962 ＝ 1026

→ よくある×：1602

考え方：一の位をそろえて書く、64＋962＝1026

6 598 － 140 ＝ 458

たしかめの式に○をつけよう

458－140

458＋598

458＋140

7 75 ＋ 899 ＝ 974

→ よくある×：1649

考え方：一の位をそろえて書く、75＋899＝974

8 916 － 246 ＝ 670

たしかめの式に○をつけよう

670＋246

670－246

670＋916

9 64 ＋ 197 ＝ 261

→ よくある×：837

考え方：一の位をそろえて書く、64＋197＝261

10 458 － 135 ＝ 323

たしかめの式に○をつけよう

323－135

323＋458

323＋135

11 892 ＋ 1832 ＝ 2724

→ よくある×：10752

考え方：一の位をそろえて書く

892＋1832＝2724

12 379 － 127 ＝ 252

たしかめの式に○をつけよう

252＋127

252－127

252＋379