小3 たし算とひき算の筆算 とっくんドリル③-4

なまえ ＿＿＿＿＿＿＿＿

くらいをそろえる・たしかめ 全12問

ひづけ ＿＿＿＿＿＿＿＿

筆算のマスを使ってとく。答えは下線に書く。ひき算のたしかめは、3つの式から正しいものに○をつける

1 56 + 356 = ＿＿＿＿

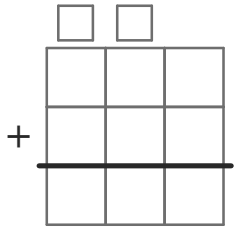

2 542 − 222 = 320

たしかめの式に○をつけよう

320−222
320+542
320+222

3 681 + 9263 = ＿＿＿＿

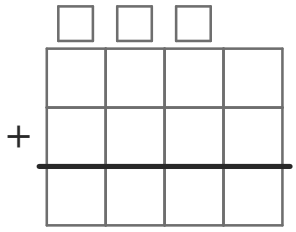

4 500 − 234 = 266

たしかめの式に○をつけよう

266−234
266+234
266+500

5 64 + 962 = ＿＿＿＿

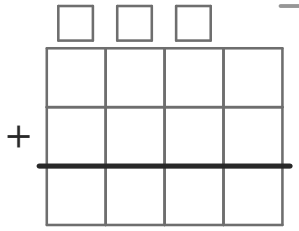

6 598 − 140 = 458

たしかめの式に○をつけよう

458−140
458+598
458+140

7 75 + 899 = ＿＿＿＿

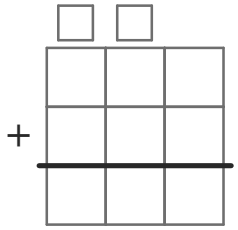

8 916 − 246 = 670

たしかめの式に○をつけよう

670+246
670−246
670+916

9 64 + 197 = ＿＿＿＿

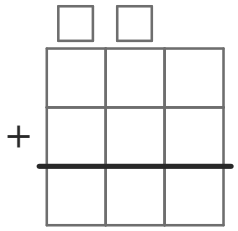

10 458 − 135 = 323

たしかめの式に○をつけよう

323−135
323+458
323+135

11 892 + 1832 = ＿＿＿＿

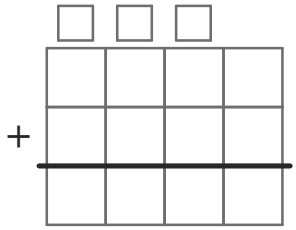

12 379 − 127 = 252

たしかめの式に○をつけよう

252+127
252−127
252+379

いちごドリル プリント

つづきの無料プリント
「小3のたし算とひき算の…」のプリント一覧がひらきます