小3 たし算とひき算の筆算 とっくんドリル③-3

なまえ ＿＿＿＿＿＿＿＿

くらいをそろえる・たしかめ 全12問

ひづけ ＿＿＿＿＿＿＿＿

筆算のマスを使ってとく。答えは下線に書く。ひき算のたしかめは、3つの式から正しいものに○をつける

1 546 + 4813 = ＿＿＿＿

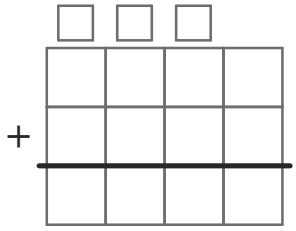

2 451 − 170 = 281

たしかめの式に○をつけよう

281＋170
281－170
281＋451

3 542 + 7667 = ＿＿＿＿

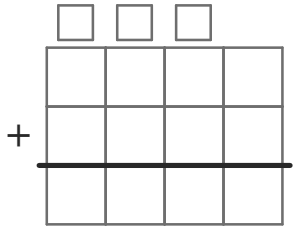

4 457 − 200 = 257

たしかめの式に○をつけよう

257－200
257＋457
257＋200

5 77 + 165 = ＿＿＿＿

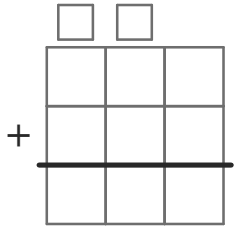

6 907 − 100 = 807

たしかめの式に○をつけよう

807＋100
807－100
807＋907

7 67 + 162 = ＿＿＿＿

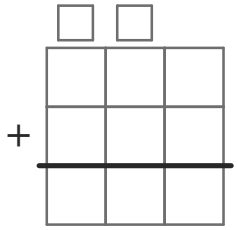

8 330 − 151 = 179

たしかめの式に○をつけよう

179－151
179＋151
179＋330

9 637 + 4795 = ＿＿＿＿

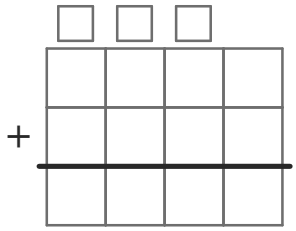

10 548 − 153 = 395

たしかめの式に○をつけよう

395＋153
395－153
395＋548

11 614 + 2542 = ＿＿＿＿

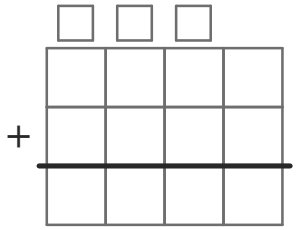

12 494 − 137 = 357

たしかめの式に○をつけよう

357－137
357＋137
357＋494

いちごドリル プリント

つづきの無料プリント
「小3のたし算とひき算の…」のプリント一覧がひらきます

小3 たし算とひき算の筆算 とっくんドリル③-3【こたえ】

なまえ ＿＿＿＿＿＿＿＿

くらいをそろえる・たしかめ 全12問

ひづけ ＿＿＿＿＿＿＿＿

1 546 ＋ 4813 ＝ 5359

→ よくある×：10273
考え方：一の位をそろえて書く
546＋4813＝5359

2 451 － 170 ＝ 281
たしかめの式に○をつけよう
281＋170
281－170
281＋451

3 542 ＋ 7667 ＝ 8209

→ よくある×：13087
考え方：一の位をそろえて書く
542＋7667＝8209

4 457 － 200 ＝ 257
たしかめの式に○をつけよう
257－200
257＋457
257＋200

5 77 ＋ 165 ＝ 242

→ よくある×：935
考え方：一の位をそろえて書く、77＋165＝242

6 907 － 100 ＝ 807
たしかめの式に○をつけよう
807＋100
807－100
807＋907

7 67 ＋ 162 ＝ 229

→ よくある×：832
考え方：一の位をそろえて書く、67＋162＝229

8 330 － 151 ＝ 179
たしかめの式に○をつけよう
179－151
179＋151
179＋330

9 637 ＋ 4795 ＝ 5432

→ よくある×：11165
考え方：一の位をそろえて書く
637＋4795＝5432

10 548 － 153 ＝ 395
たしかめの式に○をつけよう
395＋153
395－153
395＋548

11 614 ＋ 2542 ＝ 3156

→ よくある×：8682
考え方：一の位をそろえて書く
614＋2542＝3156

12 494 － 137 ＝ 357
たしかめの式に○をつけよう
357－137
357＋137
357＋494