小3 たし算とひき算の筆算 とっくんドリル③-3

なまえ ＿＿＿＿＿＿＿＿

くらいをそろえる・たしかめ 全12問

ひづけ ＿＿＿＿＿＿＿＿

筆算のマスを使ってとく。答えは下線に書く。ひき算のたしかめは、3つの式から正しいものに○をつける

1 546 + 4813 = ＿＿＿＿

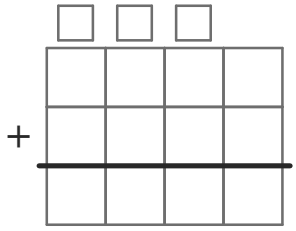

2 451 − 170 = 281

たしかめの式に○をつけよう

281＋170
281－170
281＋451

3 542 + 7667 = ＿＿＿＿

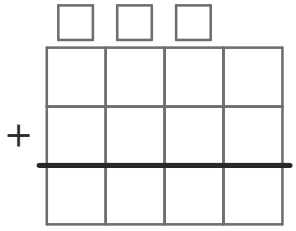

4 457 − 200 = 257

たしかめの式に○をつけよう

257－200
257＋457
257＋200

5 77 + 165 = ＿＿＿＿

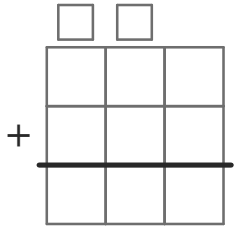

6 907 − 100 = 807

たしかめの式に○をつけよう

807＋100
807－100
807＋907

7 67 + 162 = ＿＿＿＿

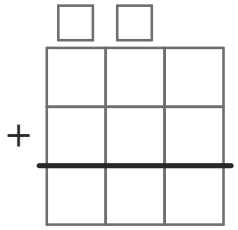

8 330 − 151 = 179

たしかめの式に○をつけよう

179－151
179＋151
179＋330

9 637 + 4795 = ＿＿＿＿

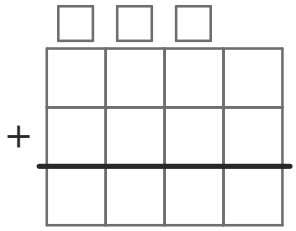

10 548 − 153 = 395

たしかめの式に○をつけよう

395＋153
395－153
395＋548

11 614 + 2542 = ＿＿＿＿

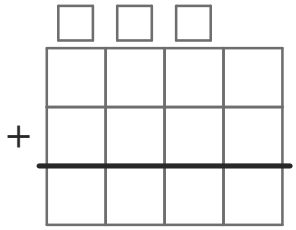

12 494 − 137 = 357

たしかめの式に○をつけよう

357－137
357＋137
357＋494

いちごドリル プリント

つづきの無料プリント
「小3のたし算とひき算の…」のプリント一覧がひらきます