小3 たし算とひき算の筆算 とっくんドリル③-2

なまえ ＿＿＿＿＿＿＿＿

くらいをそろえる・たしかめ 全12問

ひづけ ＿＿＿＿＿＿＿＿

筆算のマスを使ってとく。答えは下線に書く。ひき算のたしかめは、3つの式から正しいものに○をつける

1 78 ＋ 487 ＝ ＿＿＿＿

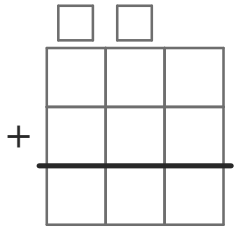

2 446 － 103 ＝ 343

たしかめの式に○をつけよう

343－103
343＋103
343＋446

3 526 ＋ 6637 ＝ ＿＿＿＿

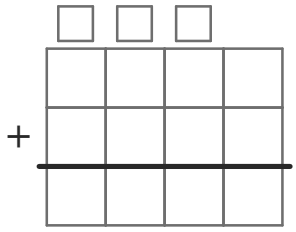

4 341 － 107 ＝ 234

たしかめの式に○をつけよう

234＋107
234－107
234＋341

5 953 ＋ 4268 ＝ ＿＿＿＿

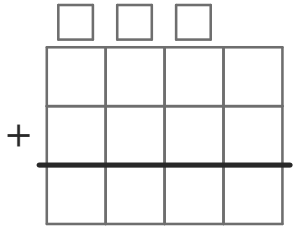

6 335 － 126 ＝ 209

たしかめの式に○をつけよう

209－126
209＋126
209＋335

7 156 ＋ 4128 ＝ ＿＿＿＿

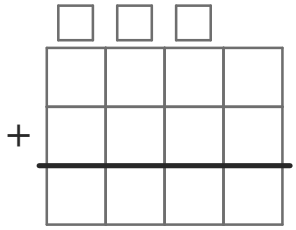

8 737 － 117 ＝ 620

たしかめの式に○をつけよう

620－117
620＋737
620＋117

9 646 ＋ 9662 ＝ ＿＿＿＿

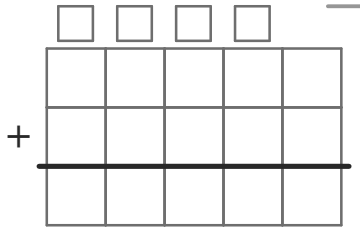

10 858 － 109 ＝ 749

たしかめの式に○をつけよう

749－109
749＋109
749＋858

11 67 ＋ 947 ＝ ＿＿＿＿

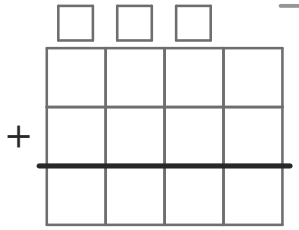

12 949 － 426 ＝ 523

たしかめの式に○をつけよう

523－426
523＋949
523＋426

いちごドリル プリント

つづきの無料プリント
「小3のたし算とひき算の…」のプリント一覧がひらきます

小3 たし算とひき算の筆算 とっくんドリル③-2【こたえ】

なまえ ＿＿＿＿＿＿＿＿

くらいをそろえる・たしかめ 全12問

ひづけ ＿＿＿＿＿＿＿＿

1 78 ＋ 487 ＝ 565

→ よくある×：1267

考え方：一の位をそろえて書く、78＋487＝565

2 446 － 103 ＝ 343

たしかめの式に○をつけよう

343－103

343＋103

343＋446

3 526 ＋ 6637 ＝ 7163

→ よくある×：11897

考え方：一の位をそろえて書く

526＋6637＝7163

4 341 － 107 ＝ 234

たしかめの式に○をつけよう

234＋107

234－107

234＋341

5 953 ＋ 4268 ＝ 5221

→ よくある×：13798

考え方：一の位をそろえて書く

953＋4268＝5221

6 335 － 126 ＝ 209

たしかめの式に○をつけよう

209－126

209＋126

209＋335

7 156 ＋ 4128 ＝ 4284

→ よくある×：5688

考え方：一の位をそろえて書く

156＋4128＝4284

8 737 － 117 ＝ 620

たしかめの式に○をつけよう

620－117

620＋737

620＋117

9 646 ＋ 9662 ＝ 10308

→ よくある×：16122

考え方：一の位をそろえて書く

646＋9662＝10308

10 858 － 109 ＝ 749

たしかめの式に○をつけよう

749－109

749＋109

749＋858

11 67 ＋ 947 ＝ 1014

→ よくある×：1617

考え方：一の位をそろえて書く、67＋947＝1014

12 949 － 426 ＝ 523

たしかめの式に○をつけよう

523－426

523＋949

523＋426