小3 たし算とひき算の筆算 とっくんドリル③-1

なまえ ＿＿＿＿＿＿＿＿

くらいをそろえる・たしかめ 全12問

ひづけ ＿＿＿＿＿＿＿＿

筆算のマスを使ってとく。答えは下線に書く。ひき算のたしかめは、3つの式から正しいものに○をつける

1 129 + 5529 = ＿＿＿＿

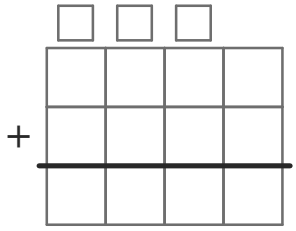

2 919 − 195 = 724

たしかめの式に○をつけよう

724−195
724+919
724+195

3 44 + 351 = ＿＿＿＿

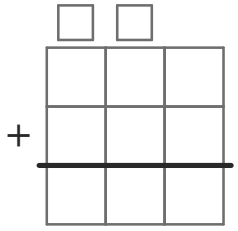

4 940 − 254 = 686

たしかめの式に○をつけよう

686−254
686+254
686+940

5 933 + 4721 = ＿＿＿＿

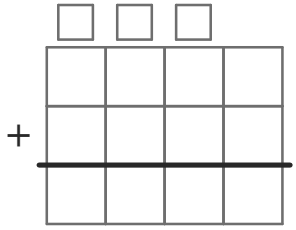

6 929 − 366 = 563

たしかめの式に○をつけよう

563−366
563+929
563+366

7 413 + 9186 = ＿＿＿＿

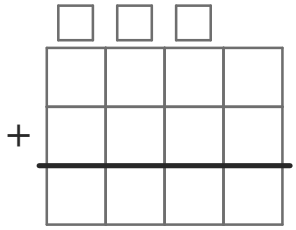

8 428 − 120 = 308

たしかめの式に○をつけよう

308+120
308−120
308+428

9 29 + 282 = ＿＿＿＿

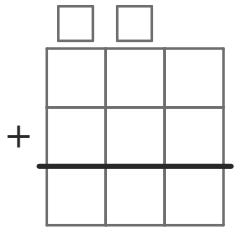

10 701 − 264 = 437

たしかめの式に○をつけよう

437−264
437+701
437+264

11 56 + 996 = ＿＿＿＿

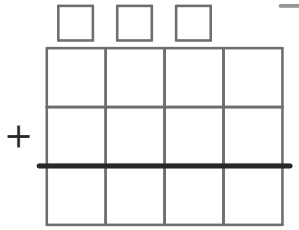

12 846 − 113 = 733

たしかめの式に○をつけよう

733+113
733−113
733+846

いちごドリル プリント

つづきの無料プリント
「小3のたし算とひき算の…」のプリント一覧がひらきます

小3 たし算とひき算の筆算 とっくんドリル③-1【こたえ】

なまえ ＿＿＿＿＿＿＿＿

くらいをそろえる・たしかめ 全12問

ひづけ ＿＿＿＿＿＿＿＿

1 129 ＋ 5529 ＝ 5658

→ よくある×：6819

考え方：一の位をそろえて書く

129＋5529＝5658

2 919 － 195 ＝ 724

たしかめの式に○をつけよう

724－195

724＋919

724＋195

3 44 ＋ 351 ＝ 395

→ よくある×：791

考え方：一の位をそろえて書く、44＋351＝395

4 940 － 254 ＝ 686

たしかめの式に○をつけよう

686－254

686＋254

686＋940

5 933 ＋ 4721 ＝ 5654

→ よくある×：14051

考え方：一の位をそろえて書く

933＋4721＝5654

6 929 － 366 ＝ 563

たしかめの式に○をつけよう

563－366

563＋929

563＋366

7 413 ＋ 9186 ＝ 9599

→ よくある×：13316

考え方：一の位をそろえて書く

413＋9186＝9599

8 428 － 120 ＝ 308

たしかめの式に○をつけよう

308＋120

308－120

308＋428

9 29 ＋ 282 ＝ 311

→ よくある×：572

考え方：一の位をそろえて書く、29＋282＝311

10 701 － 264 ＝ 437

たしかめの式に○をつけよう

437－264

437＋701

437＋264

11 56 ＋ 996 ＝ 1052

→ よくある×：1556

考え方：一の位をそろえて書く、56＋996＝1052

12 846 － 113 ＝ 733

たしかめの式に○をつけよう

733＋113

733－113

733＋846