小3 たし算とひき算の筆算 とっくんドリル③-1

なまえ ＿＿＿＿＿＿＿＿

くらいをそろえる・たしかめ 全12問

ひづけ ＿＿＿＿＿＿＿＿

筆算のマスを使ってとく。答えは下線に書く。ひき算のたしかめは、3つの式から正しいものに○をつける

1 129 + 5529 = ＿＿＿＿

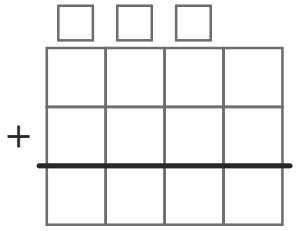

2 919 − 195 = 724

たしかめの式に○をつけよう

724−195
724+919
724+195

3 44 + 351 = ＿＿＿＿

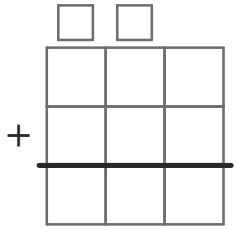

4 940 − 254 = 686

たしかめの式に○をつけよう

686−254
686+254
686+940

5 933 + 4721 = ＿＿＿＿

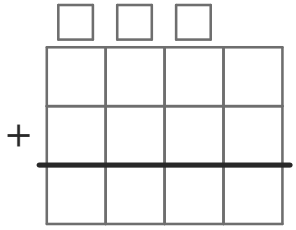

6 929 − 366 = 563

たしかめの式に○をつけよう

563−366
563+929
563+366

7 413 + 9186 = ＿＿＿＿

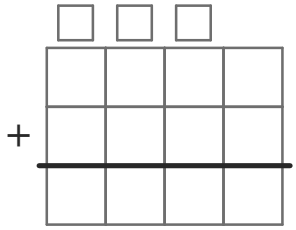

8 428 − 120 = 308

たしかめの式に○をつけよう

308+120
308−120
308+428

9 29 + 282 = ＿＿＿＿

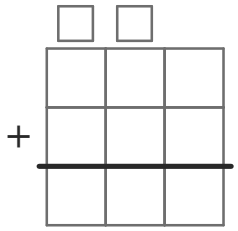

10 701 − 264 = 437

たしかめの式に○をつけよう

437−264
437+701
437+264

11 56 + 996 = ＿＿＿＿

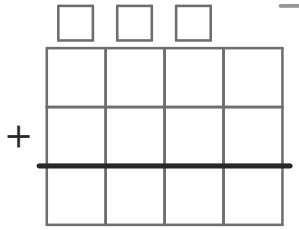

12 846 − 113 = 733

たしかめの式に○をつけよう

733+113
733−113
733+846

いちごドリル プリント

つづきの無料プリント
「小3のたし算とひき算の…」のプリント一覧がひらきます