小3 たし算とひき算の筆算 とっくんドリル②-1

なまえ ＿＿＿＿＿＿＿＿

くり下がりを、ていねいに 全12問

ひづけ ＿＿＿＿＿＿＿＿

筆算のマスを使ってとく。くり下がりで書きかえた上の数は、そのくらいの上のマスに書く。答えは下線に書く

1 652 − 403 = ＿＿＿＿

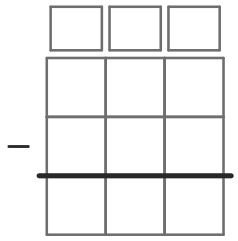

2 704 − 378 = ＿＿＿＿

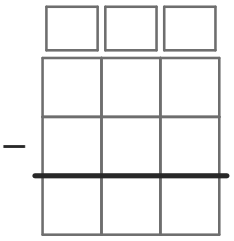

3 897 − 388 = ＿＿＿＿

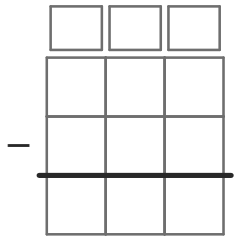

4 1003 − 538 = ＿＿＿＿

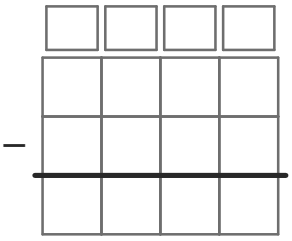

5 322 − 62 = ＿＿＿＿

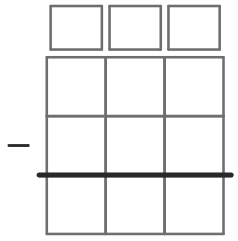

6 103 − 87 = ＿＿＿＿

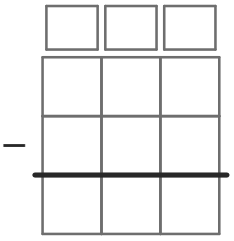

7 485 − 78 = ＿＿＿＿

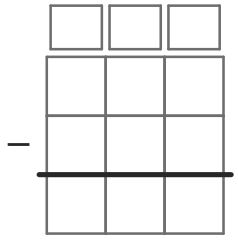

8 903 − 166 = ＿＿＿＿

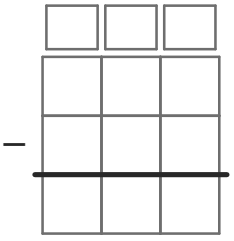

9 729 − 277 = ＿＿＿＿

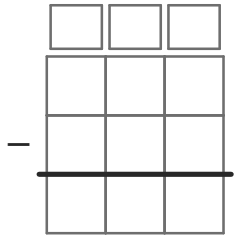

10 7004 − 4527 = ＿＿＿＿

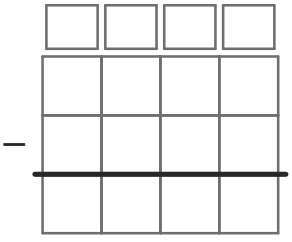

11 3756 − 2829 = ＿＿＿＿

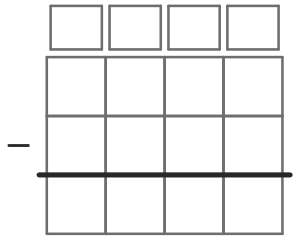

12 9003 − 5522 = ＿＿＿＿

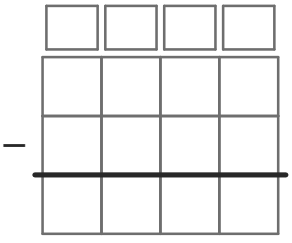

いちごドリル プリント

つづきの無料プリント
「小3のたし算とひき算の…」のプリント一覧がひらきます