小3 たし算とひき算の筆算 とっくんドリル①-4

なまえ ＿＿＿＿＿＿＿＿

くり上がりを、わすれずに足す 全8問

ひづけ ＿＿＿＿＿＿＿＿

筆算のマスを使ってとく。くり上がりは、次のくらいの上の小さなマスに書く。答えは下線に書く

1 633 + 129 = ＿＿＿＿

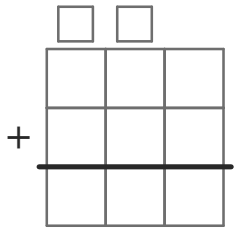

2 1659 + 7555 = ＿＿＿＿

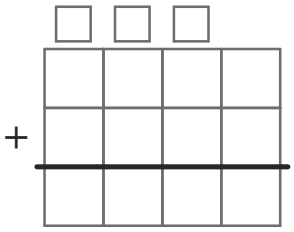

3 565 + 959 = ＿＿＿＿

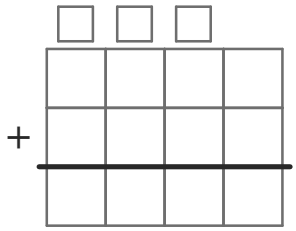

4 6994 + 2746 = ＿＿＿＿

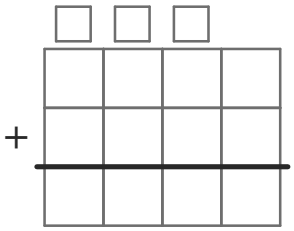

5 858 + 242 = ＿＿＿＿

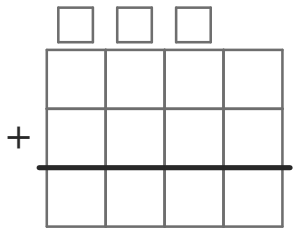

6 4761 + 1665 = ＿＿＿＿

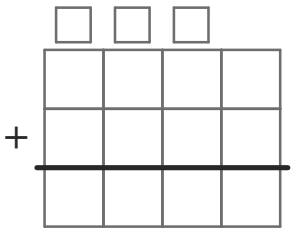

7 427 + 725 = ＿＿＿＿

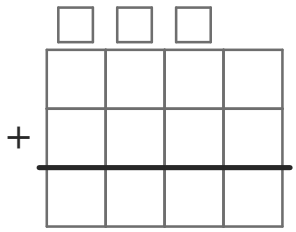

8 4565 + 4611 = ＿＿＿＿

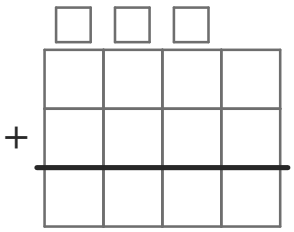

いちごドリル プリント

つづきの無料プリント
「小3のたし算とひき算の…」のプリント一覧がひらきます