小3 たし算とひき算の筆算 とっくんドリル①-3

なまえ ＿＿＿＿＿＿＿＿

くり上がりを、わすれずに足す 全8問

ひづけ ＿＿＿＿＿＿＿＿

筆算のマスを使ってとく。くり上がりは、次のくらいの上の小さなマスに書く。答えは下線に書く

1 994 + 198 = ＿＿＿＿

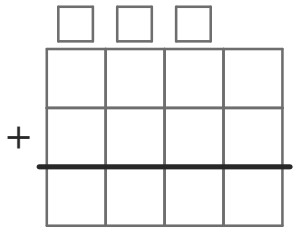

2 2742 + 5792 = ＿＿＿＿

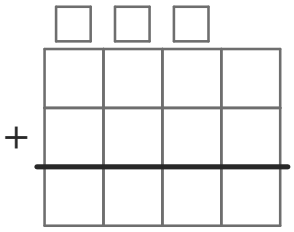

3 579 + 311 = ＿＿＿＿

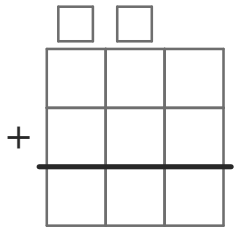

4 1293 + 2961 = ＿＿＿＿

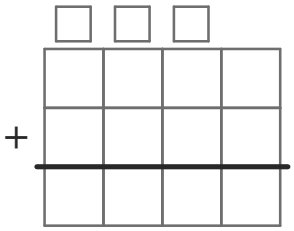

5 769 + 222 = ＿＿＿＿

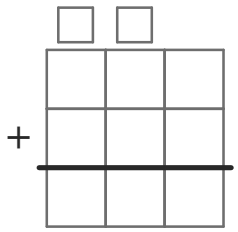

6 5664 + 3454 = ＿＿＿＿

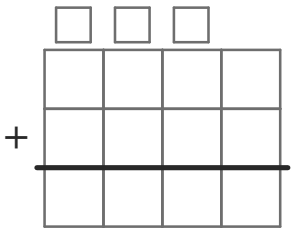

7 191 + 339 = ＿＿＿＿

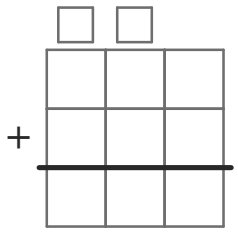

8 2772 + 2416 = ＿＿＿＿

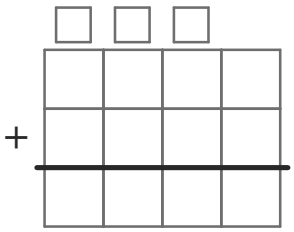

いちごドリル プリント

つづきの無料プリント
「小3のたし算とひき算の…」のプリント一覧がひらきます