小3 たし算とひき算の筆算 とっくんドリル①-1

なまえ ＿＿＿＿＿＿＿＿

くり上がりを、わすれずに足す 全8問

ひづけ ＿＿＿＿＿＿＿＿

筆算のマスを使ってとく。くり上がりは、次のくらいの上の小さなマスに書く。答えは下線に書く

1 684 + 579 = ＿＿＿＿＿＿

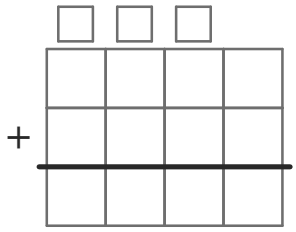

2 1972 + 7216 = ＿＿＿＿＿＿

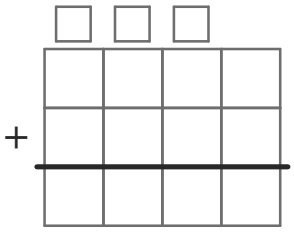

3 578 + 256 = ＿＿＿＿＿＿

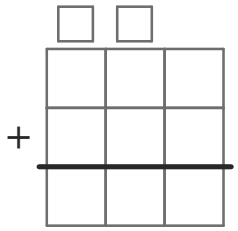

4 3178 + 2888 = ＿＿＿＿＿＿

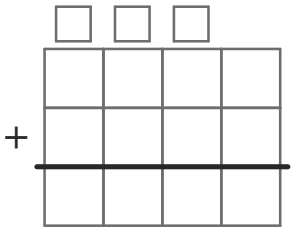

5 597 + 257 = ＿＿＿＿＿＿

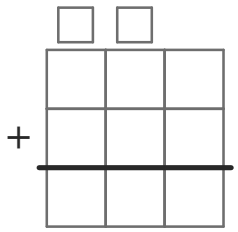

6 1466 + 4684 = ＿＿＿＿＿＿

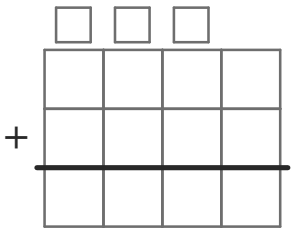

7 789 + 295 = ＿＿＿＿＿＿

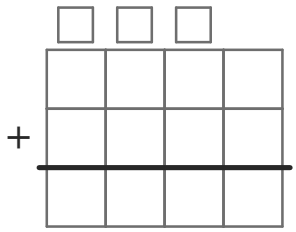

8 1831 + 6585 = ＿＿＿＿＿＿

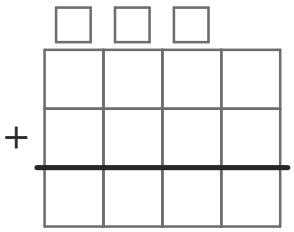

いちごドリル プリント

つづきの無料プリント
「小3のたし算とひき算の…」のプリント一覧がひらきます