小3 たし算とひき算の筆算 そうごうテスト（その1）

なまえ ＿＿＿＿＿＿＿＿

全12問 100点

ひづけ ＿＿＿＿＿＿ /100

筆算のマスを使ってとく。答えは下線に書く。たしかめの式は、3つの式から正しいものに○をつける

1 478 ＋ 256 ＝ ＿＿＿＿＿＿

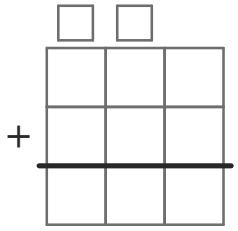

8点

2 4003 － 1578 ＝ ＿＿＿＿＿＿



8点

3 389 ＋ 4897 ＝ ＿＿＿＿＿＿

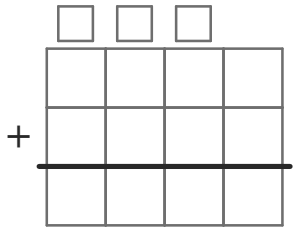

8点

4 812 － 375 ＝ 437

たしかめの式に○をつけよう

437－375
437＋375
437＋812

8点

5 623 － 485 ＝ ＿＿＿＿＿＿

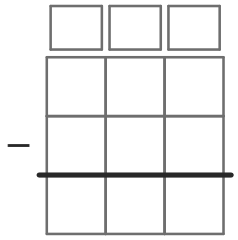

8点

6 3678 ＋ 4529 ＝ ＿＿＿＿＿＿

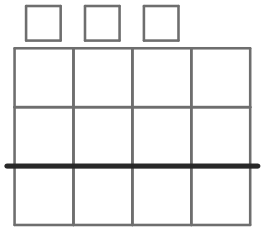

8点

7 2754 ＋ 5381 ＝ ＿＿＿＿＿＿

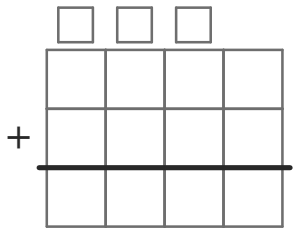

8点

8 258 ＋ 3476 ＝ ＿＿＿＿＿＿

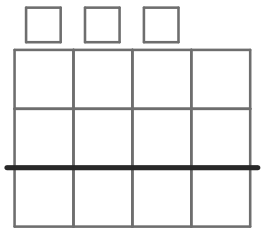

8点

9 5426 － 2879 ＝ ＿＿＿＿＿＿

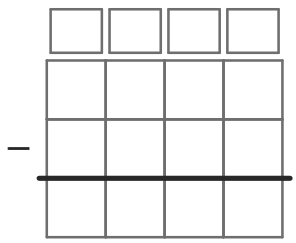

9点

10 900 － 250 ＝ 650

たしかめの式に○をつけよう

650－250
650＋900
650＋250

9点

11 359 ＋ 127 ＝ ＿＿＿＿＿＿

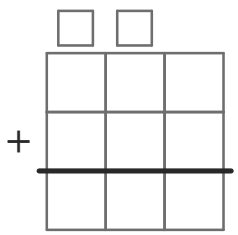

9点

12 704 － 268 ＝ ＿＿＿＿＿＿

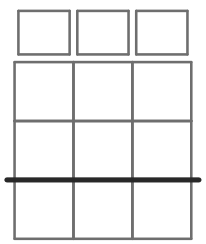

9点

いちごドリル プリント

つづきの無料プリント
「小3のたし算とひき算の…」のプリント一覧がひらきます