小3 たし算の筆算 練習プリント⑤

なまえ ＿＿＿＿＿＿＿＿

10に なる くらい 全6問

学習日 ＿＿＿＿月＿＿＿＿日

ねらい たした 数が 10に なったら、0を 書いて 1を 上げよう。

ときかた **395 ＋ 206 は、いくつですか。**

一 5+6= **11** 、1を 書き 1を 上げる

十 9+0+1= **10** 、0を 書き 1を 上げる

百 3+2+1= **6**

百	十	一
1	1	
3	9	5
＋ 2	0	6
6	0	1

たした 数が 10に なったら、1マスには 0だけ 書いて、1を 左へ 上げる。

れんしゅう

筆算の マスを 使って ときましょう。
10は 1マスに 書かない。0を 書いて、1を 左の くらいへ。

1 275 ＋ 35 ＝

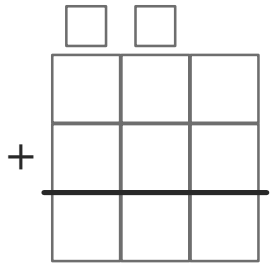

2 348 ＋ 52 ＝

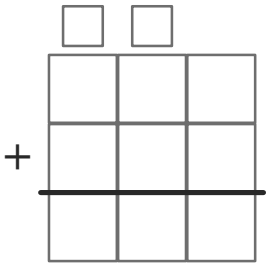

3 169 ＋ 235 ＝

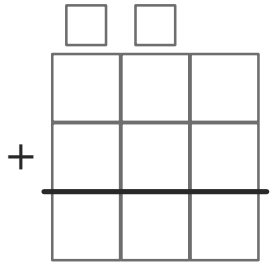

4 396 ＋ 509 ＝

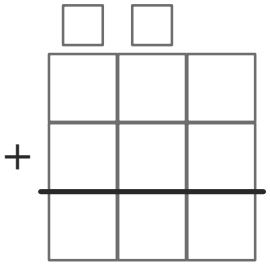

5 4795 ＋ 205 ＝

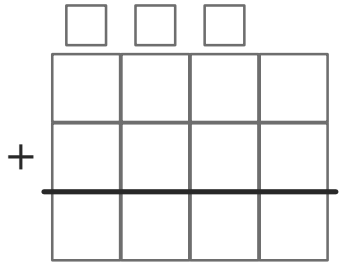

6 2998 ＋ 1004 ＝

