小3 たし算の筆算 とっくんドリル①-4

なまえ ＿＿＿＿＿＿＿＿

くり上がりを、わすれずに足す 全8問

ひづけ ＿＿＿＿＿＿＿＿

筆算のマスを使ってとく。くり上がりは、次のくらいの上の小さなマスに書く。答えは下線に書く

1 527 + 265 = ＿＿＿＿＿＿

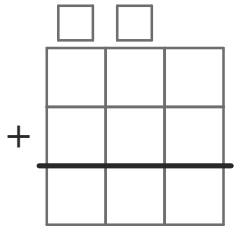

2 469 + 167 = ＿＿＿＿＿＿

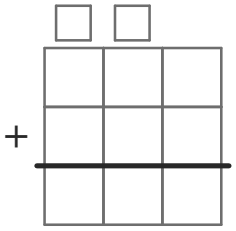

3 326 + 256 = ＿＿＿＿＿＿

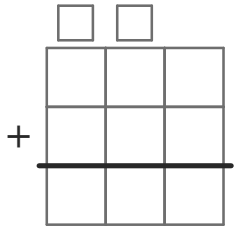

4 269 + 486 = ＿＿＿＿＿＿

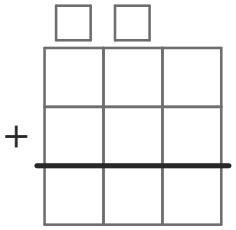

5 318 + 316 = ＿＿＿＿＿＿

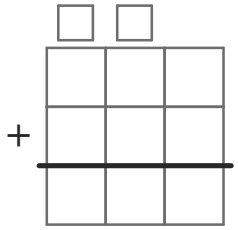

6 179 + 748 = ＿＿＿＿＿＿

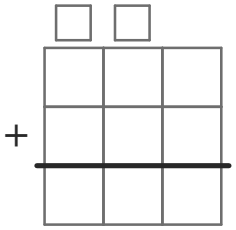

7 212 + 548 = ＿＿＿＿＿＿

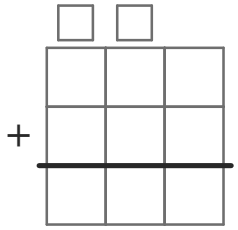

8 186 + 645 = ＿＿＿＿＿＿

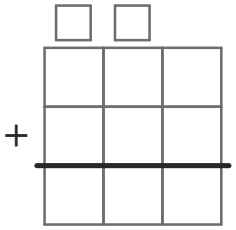

小3 たし算の筆算 とっくんドリル①-4【こたえ】

なまえ

ひづけ

くり上がりを、わすれずに足す 全8問

1 527 + 265 = 792

```
  1
  5 2 7
+ 2 6 5
-------
  7 9 2
```

→ よくある×：782

考え方：一の位 7+5=12↑、十の位 2+6+1=9、百の位 5+2=7 → 792

2 469 + 167 = 636

```
  1 1
  4 6 9
+ 1 6 7
-------
  6 3 6
```

→ よくある×：536

考え方：一の位 9+7=16↑、十の位 6+6+1=13↑、百の位 4+1+1=6 → 636

3 326 + 256 = 582

```
  1
  3 2 6
+ 2 5 6
-------
  5 8 2
```

→ よくある×：572

考え方：一の位 6+6=12↑、十の位 2+5+1=8、百の位 3+2=5 → 582

4 269 + 486 = 755

```
  1 1
  2 6 9
+ 4 8 6
-------
  7 5 5
```

→ よくある×：655

考え方：一の位 9+6=15↑、十の位 6+8+1=15↑、百の位 2+4+1=7 → 755

5 318 + 316 = 634

```
  1
  3 1 8
+ 3 1 6
-------
  6 3 4
```

→ よくある×：624

考え方：一の位 8+6=14↑、十の位 1+1+1=3、百の位 3+3=6 → 634

6 179 + 748 = 927

```
  1 1
  1 7 9
+ 7 4 8
-------
  9 2 7
```

→ よくある×：827

考え方：一の位 9+8=17↑、十の位 7+4+1=12↑、百の位 1+7+1=9 → 927

7 212 + 548 = 760

```
  1
  2 1 2
+ 5 4 8
-------
  7 6 0
```

→ よくある×：750

考え方：一の位 2+8=10↑、十の位 1+4+1=6、百の位 2+5=7 → 760

8 186 + 645 = 831

```
  1 1
  1 8 6
+ 6 4 5
-------
  8 3 1
```

→ よくある×：731

考え方：一の位 6+5=11↑、十の位 8+4+1=13↑、百の位 1+6+1=8 → 831