比例の グラフ ドリル⑤

中1／ドリル 項目5 ⑤ 定期テストの形／25点・15分

なまえ ＿＿＿＿＿＿＿＿

ひづけ ＿＿＿＿＿＿＿＿ /25

・全部で 25点・15分。答えは 四角に、大問5の 説明は 枠に 書く。方眼の 1目もりは 1。
・大問1は、正しい 方を 1つ だけ ○で かこむ。
・大問4は、「正しい」「まちがい」の どちらかを ○で かこみ、まちがいなら 正しい 答えを、正しい 答案なら「同じ」と 四角に 書く。
・大問3の グラフは、両はしに ● を つける。

大問1 見分ける

各3点（6点）

(1) $y = -\frac{4x}{7}$ の グラフの 向き

右上がり　右下がり

(2) $y = -\frac{x}{2}\ (-4 \leqq x \leqq 2)$ の グラフは どちら?

(−4, 2) から (2, −1) までの 線分

原点を 通る 直線 ぜんたい

大問2 グラフを かく・読む

各3点（6点）

(1)

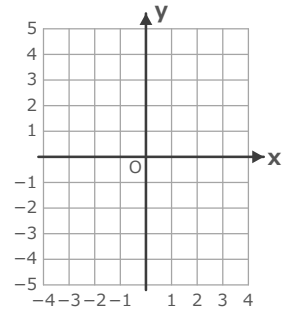

$y = -\frac{5x}{4}$ の グラフを かく。

(2)

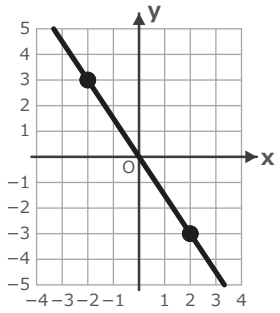

グラフの 直線の 式（● は 直線が 通る 点）

y = ＿＿＿＿

大問3 変域つきの グラフ

4点

(1)

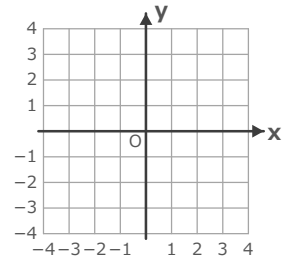

$y = \frac{4x}{3}$ $(-3 \leqq x \leqq 3)$ の グラフを かく。

大問4 まちがいを 直す

各2点（4点）

(1) グラフは 原点と (5, −3) を 通る。
答案「比例定数は $5 \div (-3) = -\frac{5}{3}$」

正しい　まちがい　比例定数 ＿＿＿＿

(2) $y = \frac{5x}{6}$ の グラフ。
答案「右上がりの 直線」

正しい　まちがい　正しい答え ＿＿＿＿

大問5 説明

5点

$y = \frac{2x}{5}$ の グラフを かく とき、(1, 1) では なく (5, 2) を 通る 直線に する わけを、「比例定数」「原点」の 語を 使って 説明しなさい。

いちごドリル プリント

つづきの無料プリント
「比例と反比例」のプリント一覧がひらきます