小3 円と球 練習プリント⑥

箱や 大きな円に ぴったり 全6問

なまえ ＿＿＿＿＿＿＿＿

学習日 ＿＿＿月＿＿＿日

ねらい たてと よこを べつべつに 考えて、長さを もとめよう。

ときかた **はんけい 4cmの ボール、たて2こ よこ3こ。**

ボール1この ちょっけいは、4×2=［　　］cm

箱の たては、8×2=［　　］cm

箱の よこは、8×3=［　　］cm

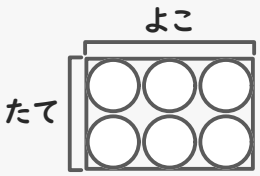

たてと よこを べつべつに 数える。ちょっけい×こ数。

れんしゅう

こ数に 目を つけて、長さを もとめ、たんいも 書きましょう。

1 はんけい 3cmの ボールを たて3こ、よこ2こ ならべて 箱に ぴったり 入れた。箱の たての 長さは 何cmですか。

［　　］

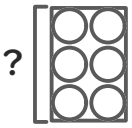

2 はんけい 5cmの ボールを たて2こ、よこ5こ ならべて 箱に ぴったり 入れた。箱の よこの 長さは 何cmですか。

［　　］

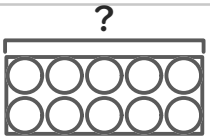

3 同じ ボール 3こを よこ1列に ならべて 箱に ぴったり 入れた。箱の よこは 18cm。ボールの はんけいは 何cmですか。

［　　］

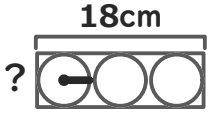

4 同じ ボールを たて2こ、よこ4こ ならべて 箱に ぴったり 入れた。箱の よこは 28cm。ボールの ちょっけいは 何cmですか。

［　　］

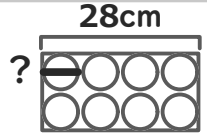

5 はんけい 3cmの 小さい 円2こが、同じ 大きさで ちょっけいに そって 大きな 円の 中に ぴったり 入る。大きな 円の ちょっけいは 何cm?

［　　］

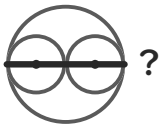

6 はんけい 12cmの 大きな 円の 中に、同じ 大きさの 小さい 円3こが ちょっけいに そって ぴったり 入る。小さい 円の はんけいは 何cm?

［　　］

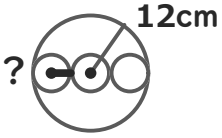

いちごドリル プリント

つづきの無料プリント
「小3の円と球」のプリント一覧がひらきます