小3 円と球 練習プリント⑤

円を ならべた 長さ 全6問

なまえ ＿＿＿＿＿＿＿＿

学習日 ＿＿＿月＿＿＿日

ねらい 円を ならべた 長さを、ちょっけいの いくつぶんかで もとめよう。

ときかた **はんけい 3cmの 円4こを くっつけて 横一列に ならべた。**

ちょっけいは、3×2= ① ＿＿＿＿ **cm**

はしから はしまでは、①×4= ② ＿＿＿＿ **cm**

中心から 中心までは、①×3=③ ＿＿＿＿ **cm**

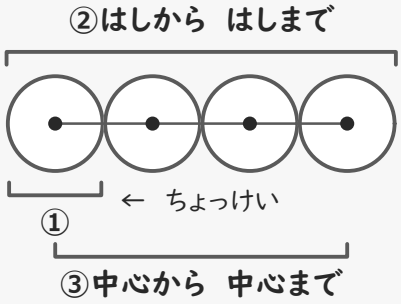

中心から 中心までは、円の数より 1つ すくない ちょっけいぶん。

れんしゅう

円を ならべた 長さを もとめて、たんいも 書きましょう。

1 はんけい 4cmの 円5こを、くっつけて 横一列に ならべた。はしから はしまでの 長さは 何cmですか。

＿＿＿＿

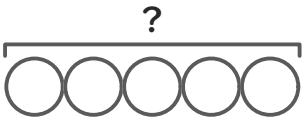

2 はんけい 5cmの 円3こを、くっつけて 横一列に ならべた。左はしの 円の 中心から 右はしの 円の 中心までは 何cmですか。

＿＿＿＿



3 はんけい 6cmの 丸い シールを 5まい、くっつけて 横一列に はった。はしから はしまでの 長さは 何cmですか。

＿＿＿＿

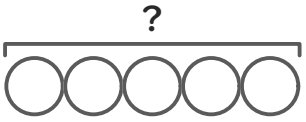

4 はんけい 3cmの 円7こを、くっつけて 横一列に ならべた。左はしの 円の 中心から 右はしの 円の 中心までは 何cmですか。

＿＿＿＿

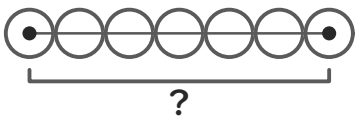

5 同じ 円4こを くっつけて 横一列に ならべたら、はしから はしまでは 56cmに なった。円の はんけいは 何cmですか。

＿＿＿＿

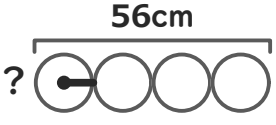

6 同じ 円5こを くっつけて 横一列に ならべた。左はしの 円の 中心から 右はしの 円の 中心までは 32cm。円の ちょっけいは 何cmですか。

＿＿＿＿

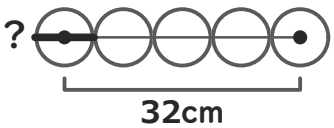

いちごドリル プリント

つづきの無料プリント
「小3の円と球」のプリント一覧がひらきます