小3 円と球 練習プリント②

はんけい と ちょっけい 全6問

なまえ ＿＿＿＿＿＿＿＿

学習日 ＿＿＿月＿＿＿日

ねらい はんけいと ちょっけいを、×2と ÷2で 行き来しよう。

ときかた **はんけいと ちょっけいを 行き来しよう。**

はんけい 2cm→2×2= ＿＿＿ **cm**

ちょっけい 16cm→16÷2= ＿＿＿ **cm**



ちょっけいは はんけいの 2倍。コンパスは はんけいに 開く。

れんしゅう

長さを もとめ、たんいも 書きましょう。ア・イは ○で かこむ。

1 はんけい 11cmの 円の ちょっけいは 何cmですか。 ＿＿＿

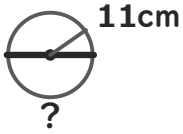

2 ちょっけい 18cmの 円の はんけいは 何cmですか。 ＿＿＿



3 コンパスを はんけい 3cmに 開いて 円を かいた。この 円の ちょっけいは 何cmですか。 ＿＿＿

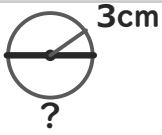

4 ちょっけい 30cmの 円を コンパスで かく。コンパスを 何cmに 開けば よいですか。 ＿＿＿



5 大きい 円の はんけいは 9cm。小さい 円の ちょっけいは 8cm。大きい 円の ちょっけいは 小さい 円より 何cm 長いですか。 ＿＿＿

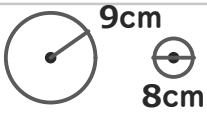

6 アの 円は、はんけいが 8cm。イの 円は、ちょっけいが 8cm。大きいのは、どちらの 円ですか。

ア　イ

いちごドリル プリント

つづきの無料プリント
「小3の円と球」のプリント一覧がひらきます

小3 円と球 練習プリント②【こたえ】

はんけい と ちょっけい 全6問

なまえ ＿＿＿＿＿＿＿＿

学習日 ＿＿＿＿月＿＿＿＿日

ねらい はんけいと ちょっけいを、×2と ÷2で 行き来しよう。

ときかた **はんけいと ちょっけいを 行き来しよう。**

はんけい 2cm→2×2= 4 cm

ちょっけい 16cm→16÷2= 8 cm



ちょっけいは はんけいの 2倍。コンパスは はんけいに 開く。

れんしゅう

長さを もとめ、たんいも 書きましょう。ア・イは ○で かこむ。

1 はんけい 11cmの 円の ちょっけいは 何cmですか。

22cm

ちょっけいは はんけいの 2倍
11×2＝22cm

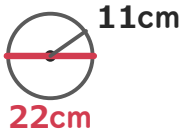

2 ちょっけい 18cmの 円の はんけいは 何cmですか。

9cm

はんけいは ちょっけいの 半分
18÷2＝9cm

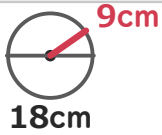

3 コンパスを はんけい 3cmに 開いて 円を かいた。この 円の ちょっけいは 何cmですか。

6cm

コンパスの 開き＝はんけい
3×2＝6cm

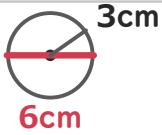

4 ちょっけい 30cmの 円を コンパスで かく。コンパスを 何cmに 開けば よいですか。

15cm

コンパスの 開き＝はんけい
30÷2＝15cm

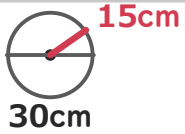

5 大きい 円の はんけいは 9cm。小さい 円の ちょっけいは 8cm。大きい 円の ちょっけいは 小さい 円より 何cm 長いですか。

10cm

大きい 円の ちょっけい 9×2＝18cm
18−8＝10cm

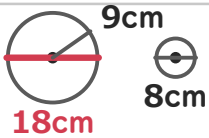

6 アの 円は、はんけいが 8cm。イの 円は、ちょっけいが 8cm。大きいのは、どちらの 円ですか。

ア イ

アは ちょっけい 8×2＝16cm
イは ちょっけい 8cm だから ア